Nom : ……. **Maths** **Classe :** EB6

Les angles adjacents

Répondre aux 13 questions suivantes :

Nommez les angles.

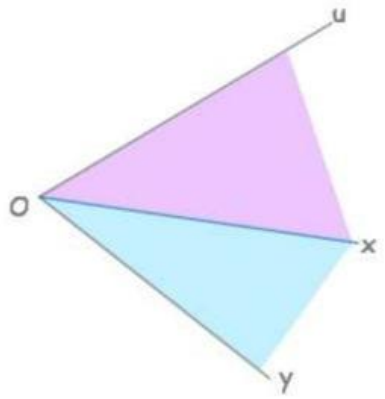

$\widehat{\dots\dots\dots}$ et $\widehat{\dots\dots\dots}$

Complétez.

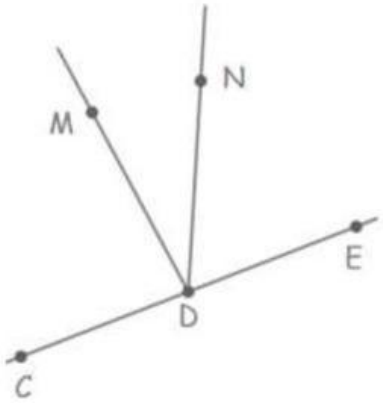

$\widehat{EDN}$ et $\widehat{\dots\dots\dots}$ sont adjacents.

Complétez.

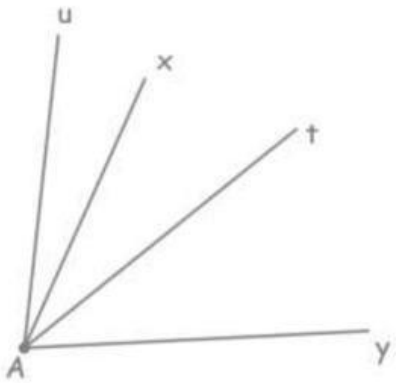

$\widehat{xAt}$ et $\widehat{\dots\dots\dots}$ sont adjacents.

LIVEWORKSHEETS

Les deux angles marqués sont-ils adjacents ?

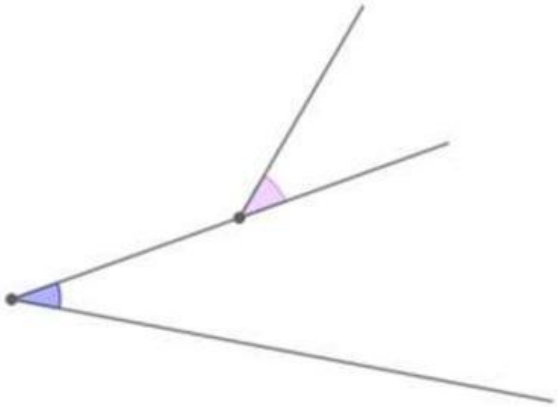

Oui

Non

Les deux angles marqués sont-ils adjacents ?

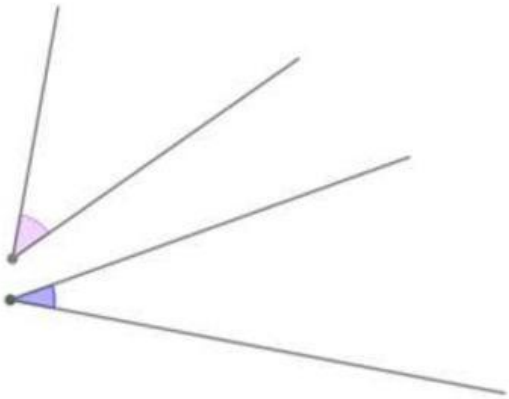

Oui

Non

Les deux angles marqués sont-ils adjacents ?



Oui

Non

LIVEWORKSHEETS

Les deux angles marqués sont-ils adjacents ?

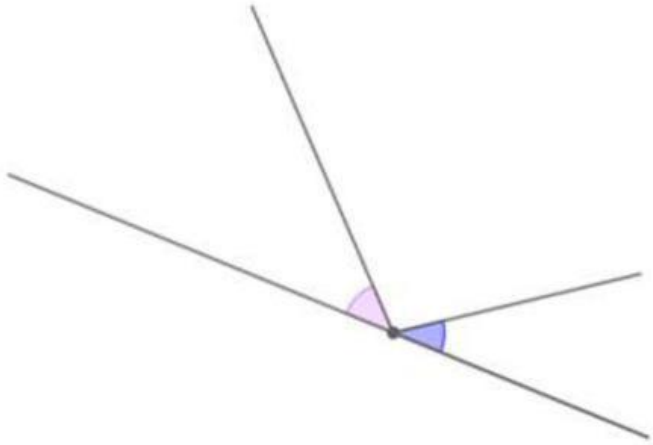

Oui

Non

Sélectionnez la bonne réponse.

Lequel des angles suivants est adjacent à l'angle $\widehat{COD}$?

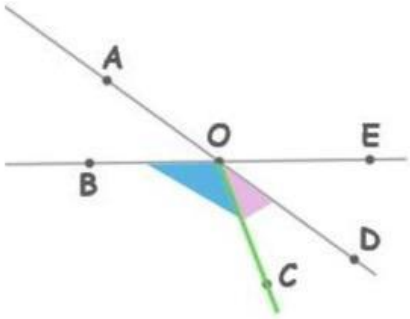

$\widehat{BOA}$

$\widehat{COE}$

$\widehat{AOE}$

$\widehat{BOC}$

Complétez.

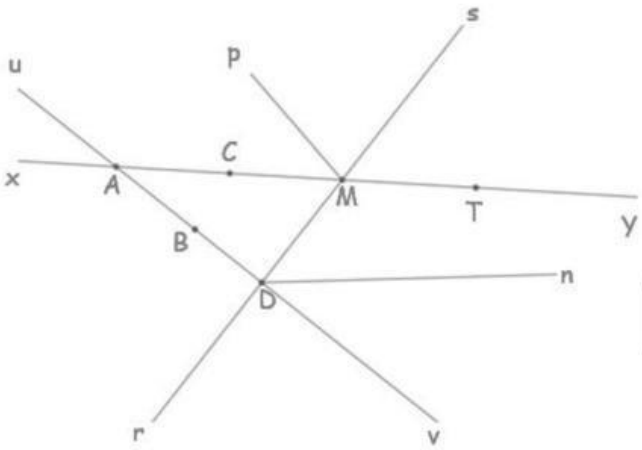

Nommez une paire d'angles adjacents qui ont A comme sommet commun.

$\widehat{\dots\dots\dots}$ et $\widehat{\dots\dots\dots}$

LIVEWORKSHEETS

Complétez.

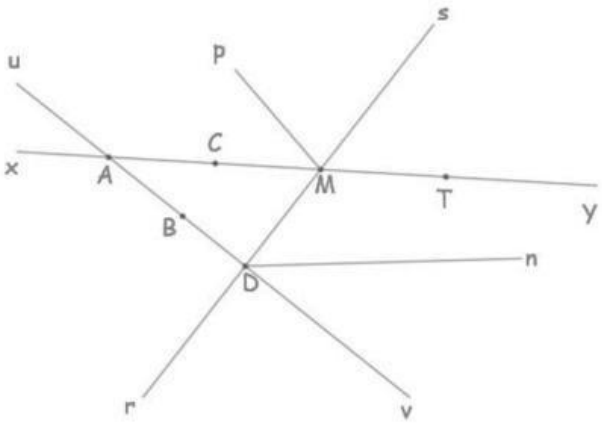

Nommez une paire d'angles adjacents ayant [Mp) comme côté commun.

$\widehat{\dots\dots\dots}$ et $\widehat{\dots\dots\dots}$

Sélectionnez la bonne réponse.

Les angles $\widehat{EAB}$ et $\widehat{BAN}$ sont des angles adjacents.
Quelle demi-droite est leur côté commun ?

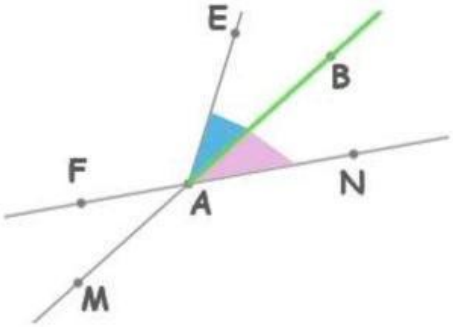

- [AB)
- [AE)
- [AN)
- [AM)

LIVEWORKSHEETS

Indiquez si la proposition est vraie ou fausse.

$\widehat{rOy}$ et $\widehat{yOn}$ sont des angles adjacents.

Vrai

Faux

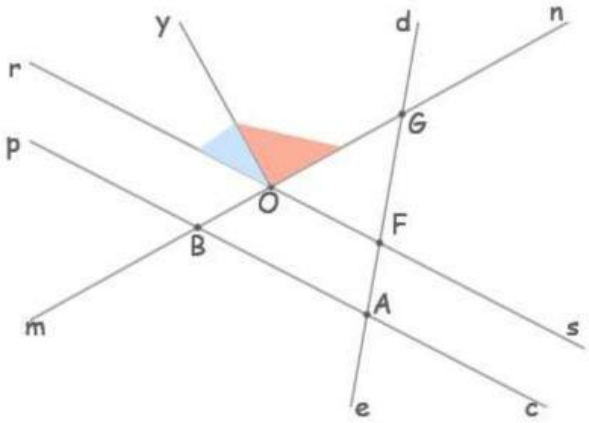

Indiquez si la proposition est vraie ou fausse.

$\widehat{dGn}$ est adjacent à $\widehat{mGe}$.

Vrai

Faux

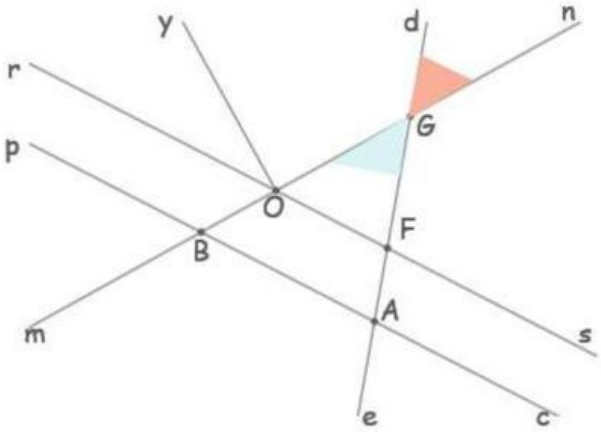

LIVEWORKSHEETS