AYO BERLATIH

Nama : .....

Kelas: .....

pindai barcode untuk mengerjakan soal

HUBUNGKAN GAMBAR DENGAN SATUAN LUASNYA BERIKUT INI!

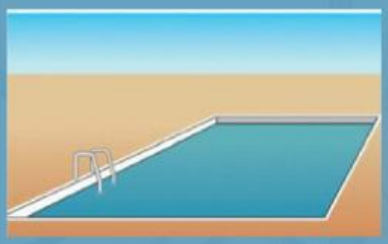

Meter persegi

Sentimeter persegi

Meter persegi

Sentimeter persegi

LIVEWORKSHEETS

AYO BERLATIH

Nama : .....

Kelas: .....

pindai barcode untuk mengerjakan soal

1. TENTUKAN LUAS BANGUN YANG DIARSIR PADA BIDANG PERSEGI BERUKURAN 1 CM X 1 CM.

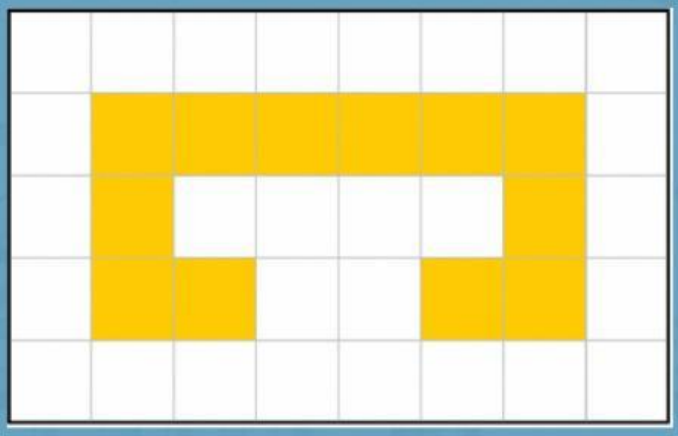

.....

2. TENTUKAN LUAS BANGUN YANG DIARSIR PADA BIDANG PERSEGI BERUKURAN 1 CM X 1 CM.

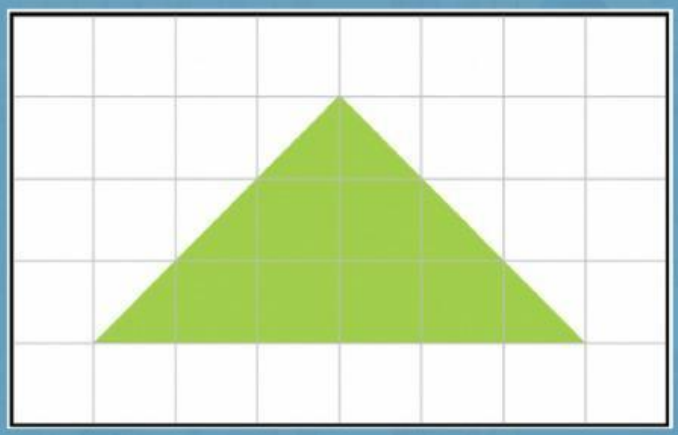

.....

LIVEWORKSHEETS