Nombre del alumno_____Grupo: _____Fecha_____

El teclado del piano completo.

Sistema internacional

Instrucciones: Coloca los nombres de las notas correspondientes en los esquemas de teclado.

índice acústico 0 (solo las ultimas 3 teclas existen en el piano. Es el índice mínimo audible).	índice acústico 1	índice acústico 2



LIVEWORKSHEETS

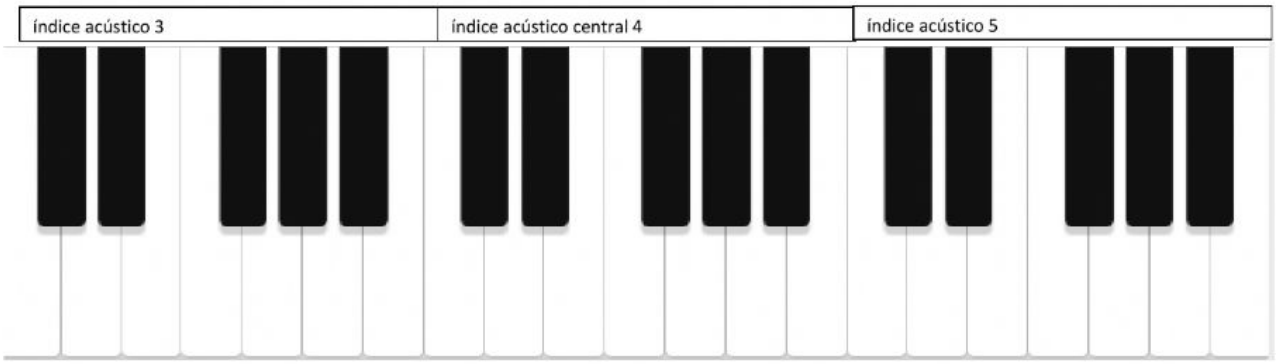

LIVEWORKSHEETS

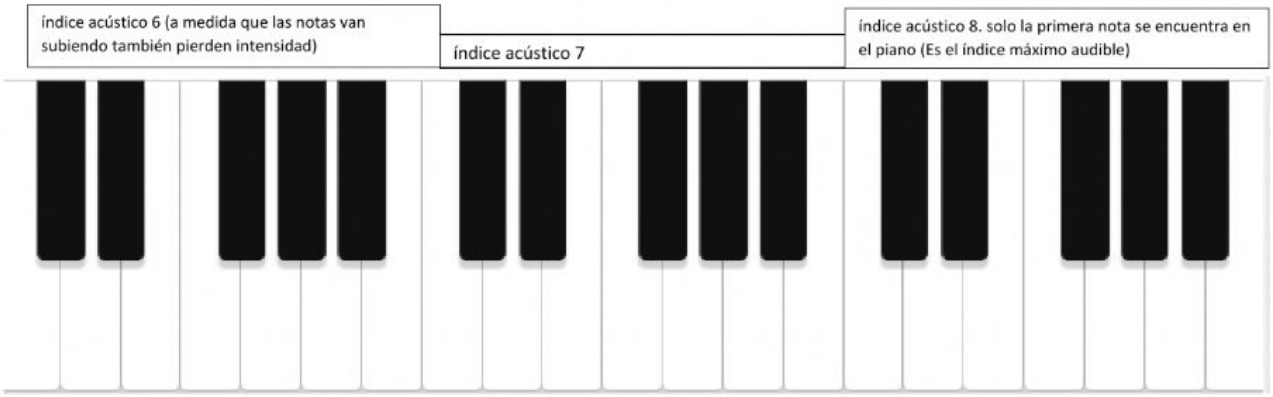

Analiza el teclado y contesta las siguientes preguntas

¿Cuántas teclas negras y blancas abarca un índice acústico?

¿En qué tecla inicia un índice acústico?

¿En qué tecla termina un índice acústico?

¿Cuál es el índice mínimo audible?

¿Cuál es el índice máximo audible?

¿Cuál es la tecla más aguda del piano?

LIVEWORKSHEETS

¿Cuál es la tecla más grave del piano?

¿Cuál es el índice central?

¿Cuántas teclas tiene un piano según lo anterior?

LIVEWORKSHEETS