Repaso CRECE (Est. 5.M.9)

Destrezas: Área y volumen

Contesta correctamente cada ejercicio.

1- Calcula el volumen del siguiente prisma:

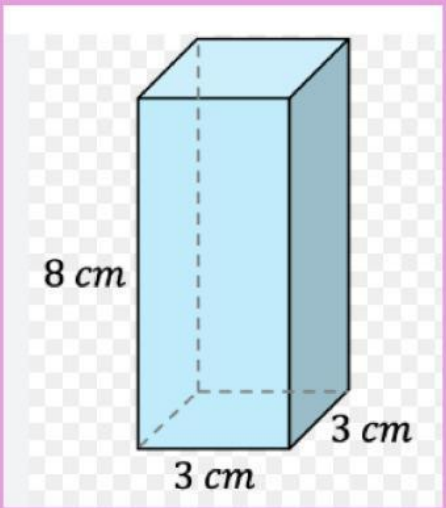

cm^3

2- Calcula el área de las siguientes figuras:

a-

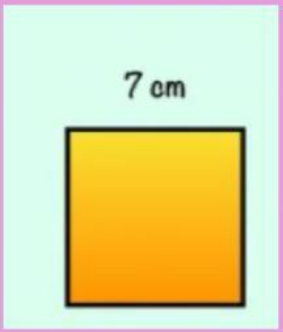

cm^2

b-

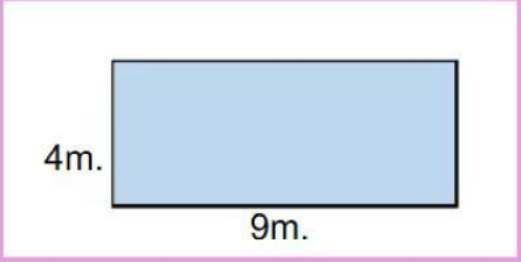

m^2

c-

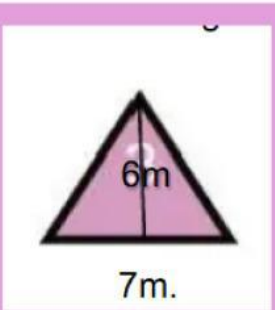

m^2

LIVEWORKSHEETS

3- De la siguiente figura escoge cuál es el área de la misma:

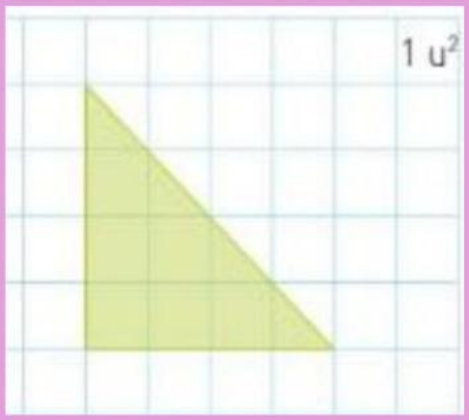

a- 7 cm²
b- 8 cm²
c- 6 cm²
d- 9 cm²

4- De la siguiente figura escoge cuál es el área de la misma:

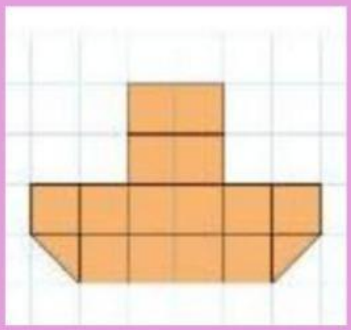

a- 13 cm²
b- 14 cm²
c- 15 cm²
d- 16 cm²

5- Calcula el volumen del siguiente prisma:

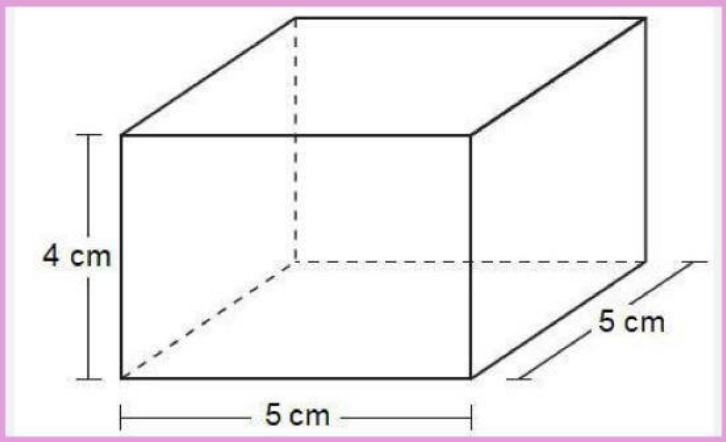

cm³

LIVEWORKSHEETS

6- Un terreno tiene forma cuadrada. Si uno de sus lados mide 4 m, ¿cuál es el área del terreno?

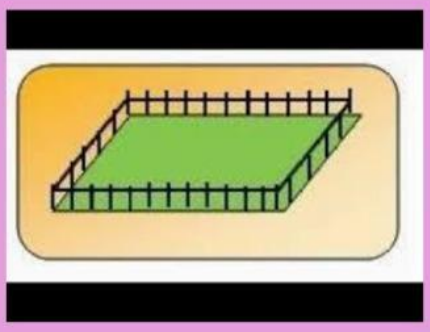

m^2

7- En la casa van a hacer una jardinera rectangular. Si uno de sus lados mide 6 m y el otro 9 m, ¿cuál es el área que cubre la jardinera?

m^2

8- Un triángulo tiene una base de 10 cm y una altura de 5 cm, ¿cuál es su área?



cm^2

LIVEWORKSHEETS