ÔN TOÁN

I. TRẮC NGHIỆM

1.Phân số thập phân $\frac{83}{10}$ được viết dưới dạng số thập phân là:

A. 8,3 B. 0,83 C. 0,083 D. 8,03

2.Số thập phân 0,45 được viết dưới dạng tỉ số phần trăm là:

A. 45% B. 450% C. 4,5% D.4,05%

3. Giá trị của chữ số 5 trong số 23,157 là:

A. 5 B. $\frac{5}{10}$ C. $\frac{5}{100}$ D. $\frac{5}{1000}$

4. Số lớn nhất trong các số 2,45; 2,3; 2,13; 2 là:

A. 2,45 B. 2,3 C. 2,13 D.2

5. Số thích hợp điền vào chỗ chấm: 121,12 x 98 + 121,12 x 2 = ….

A. 12 112 B. 121,12 C. 1 211,2 D. 121 120

6. Điền dấu thích hợp vào chỗ chấm: 1 giờ 30 phút … 35 phút = 2 giờ 5 phút

A. + B. − C. x D. :

7. Số 14,763 làm tròn đến hàng phần mười được

A. 15 B. 14 ,8 C. 14,7 D . 14, 600

8. Em hãy cho biết trong hình dưới đây có bao nhiêu tiền ?

A. 1 500 000 đồng

B. 1 000 000 đồng

C. 100 000 đồng

D. 900 000 đồng

9. Hình lập phương có số mặt là:

A. 4 mặt B. 6 mặt A. 8 mặt D. 9 mặt

10. Số đo "Ba trăm bốn mươi hai đề-xi-mét khối" được viết là:

A. 342 dm^3 B. 30 042 dm^3 C. 324 dm^3 D. 3 024 dm^3

11. Gieo xúc xắc 10 lần thấy mặt 3 chấm xuất hiện 4 lần. Tỉ số số lần 3 chấm xuất hiện so với tổng số lần gieo là:

A. $\frac{3}{5}$ **B.** $\frac{2}{3}$ **C.** $\frac{2}{5}$ **D.** $\frac{5}{3}$

12. Ghi Đ vào ô trống trước câu đúng, ghi S vào ô trống trước câu sai:

☐ Giá trị của chữ số 5 trong số 67, 535 là 500

☐ 6,01 > 6,001

LIVEWORKSHEETS

II. ĐIỀN VÀO CHỖ CHẤM

1. a) Số lớn nhất trong dãy số 7,500 ; 7,05 ; 7,53 ; 7,350 là: ……..
   b) Số lớn nhất trong các số 0,81 ; 0,78 ; 0,85 ; 0,766 là: ……
2. Một cuộc khảo sát cho thấy: 109 bạn thích bóng đá, 99 bạn thích cầu lông, 98 bạn thích bơi lội.
   Môn thể thao được nhiều bạn thích nhất là:……Tổng số bạn được khảo sát là .....bạn.
3. Giá trị của chữ số 1 trong số 7,125 là: ……..

5. Ghi thể tích của từng hình dưới đây, biết thể tích 1 khối lập phương nhỏ là $1cm^3$

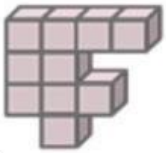
A.


B.

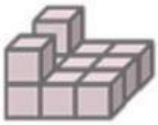
C.

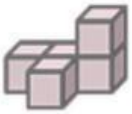
D.

…… cm^3 …….cm^3 …… cm^3 …… cm^3

6. Kết quả khảo sát về hoạt động dã ngoại yêu thích của 100 học sinh được cho trong bảng dưới đây. Hoạt động được nhiều học sinh yêu thích nhất là ……

Hoạt động	Leo núi	Tắm biển	Thăm trang trại	Trồng cây
Tỉ số phần trăm	15%	25%	35%	25%

7. Cho bảng số liệu về số tờ tiền của một cửa hàng bán trong 1 ngày

Mệnh giá (đồng)	50 000 đồng	100 000 đồng	200 000 đồng	500 000 đồng
Số tờ	4	1	2	6

Vậy tổng số tiền cửa hàng bán là:.....đồng.

III. TÍNH NHẨM

12,03 x 100 = ...	4,68 x 1000 = ……..	4,06 x 10 = ……..
54,6 : 10 = ...	45,3: 100 = ……..	234 : 1000 =…….
12,5 x 0,1=	45 x 0,01 = …….	123 x 0,01 = ……
12,5 : 0,1=	45 : 0,01 = …….	123 : 0,01 = …….

LIVEWORKSHEETS