PHIẾU ÔN TẬP GIẢM PHÂN

Kéo các tên giai đoạn và diễn biến sau vào đúng vị trí tương ứng trong hình minh họa quá trình giảm phân

- Mỗi NST kép trong cặp NST kép tương đồng di chuyển theo thoi vô sắc đi về 2 cực của tế

- Có sự tiếp hợp của các NST kép theo từng cặp tương đồng.
- Sau tiếp hợp NST dần co xoắn lại
- Thoi vô sắc hình thành
- Màng nhân và nhân con dần tiêu biến

- NST kép co xoắn cực đại
- Các NST tập trung thành **2 hàng** trên mặt phẳng xích đạo của thoi vô sắc.

- Các NST được nhân đôi tạo thành NST kép.

- Các NST kép đi về 2 cực của tế bào và dãn xoắn.
- Màng nhân và nhân con dần xuất hiện
- Thoi phân bào tiêu biến

Tế bào chất phân chia tạo thành 2 tế bào con có số lượng NST kép giảm đi một nửa

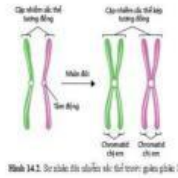

KÌ ĐẦU I

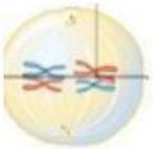

KÌ GIỮA I

KÌ SAU I



KÌ CUỐI I

.....	.....	.....	.....	.....

LIVEWORKSHEETS