STATISTIKA

NAMA :
KELAS :

AYO MENGERJAKAN!

A. Menyajikan Data

Pindahkan gambar diagram ke dalam kotak yang ada di bawah ini sesuai dengan nama diagram masing – masing!

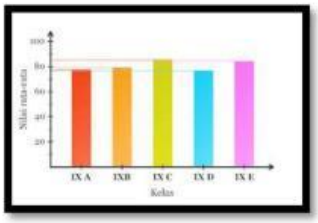

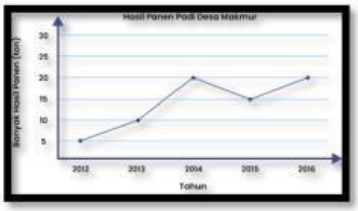

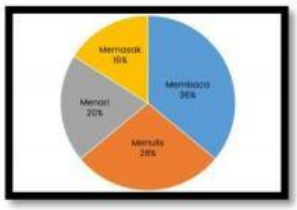

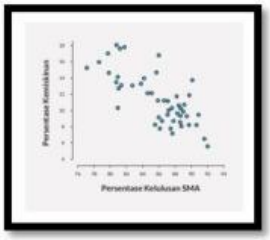

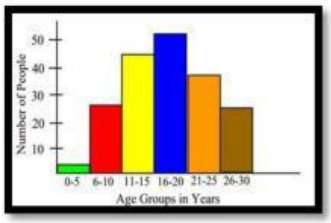

Diagram lingkaran	Diagram pencar	Diagram garis

Diagram batang	Histogram

LIVEWORKSHEETS

STATISTIKA

NAMA :
KELAS :

A. Distribusi Frekuensi

AYO MENGERJAKAN!

Berat badan 24 siswa pada suatu pengamatan disajikan pada distribusi frekuensi berikut:

Berat (kg)	Frekuensi
47 – 49	1
50 – 52	6
53 – 55	6
56 – 58	7
59 – 61	4
Total	24

Jodohkan dengan benar jawaban berikut berdasarkan data di atas, tarik garis titik merah ke titik hijau!

Interval kelas ke 4	55, 5
Batas bawah	58
Batas atas	3
Tepi bawah	56 – 58
Tepi atas	57
Titik tengah	56
Panjang interval kelas	58,5

LIVEWORKSHEETS