Nama/Kelas: ..... Kelompok: .....

LEMBAR KERJA PESERTA DIDIK

STASIUN 1

Tentukan mana yang termasuk sudut pusat

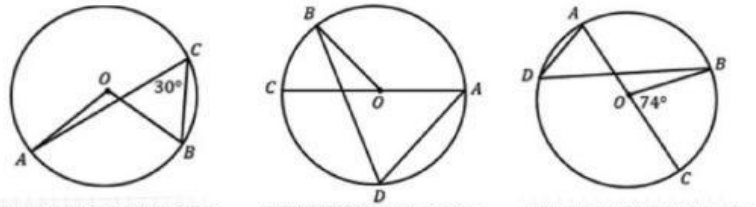

STASIUN 2

Tentukan mana yang termasuk sudut keliling

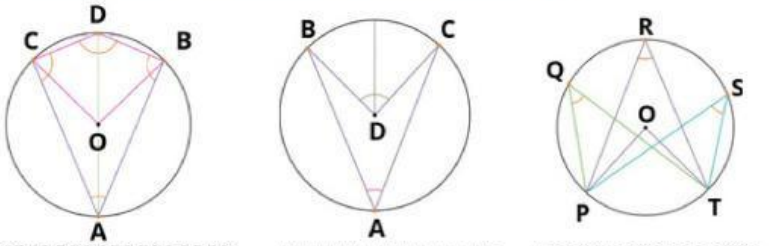

STASIUN 3

AKTIVITAS 1

Di Stasiun 1 dan 2 kalian sudah mempelajari terkait sudut pusat dan sudut keliling. Sekarang silahkan kalian siapkan busur drajat dan alat tulis untuk mengukur sudut-sudut berikut. Tuliskan hasilnya pada Tabel 1!

Lingkaran 1

Lingkaran 2

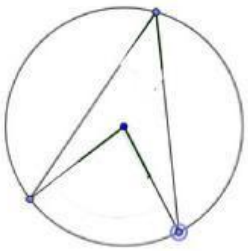

Lingkaran 3

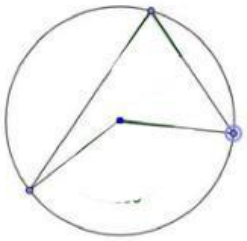

Tabel 1

Lingkaran	Besar Sudut Pusat	Besar Sudut Keliling

LIVEWORKSHEETS

Kesimpulan dari Aktivitas 1

Apa yang dapat kalian simpulkan terkait hubungan sudut pusat dan sudut keliling dari aktivitas 1. Tuliskan pada kolom berikut!

AKTIVITAS 2

Perhatikan gambari lingkaran-lingkaran di bawah! Sudut ABD dan sudut ACD merupakan dua sudut keliling yang menghadap busur yang sama. Silahkan tentukan besar sudut ABD dan sudut ACD kemudian tuliskan hasilnya pada Tabel 2.

Lingkaran 1

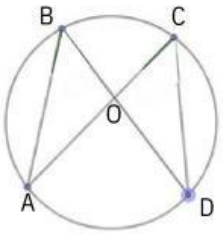

Lingkaran 2

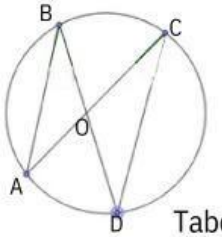

Lingkaran 3

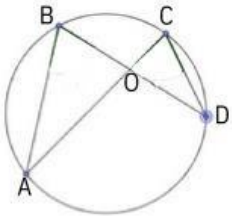

Tabel 2

Lingkaran	Besar ABD	Sudut ACD
1		
2		
3		

Kesimpulan dari Aktivitas 2

Apa yang dapat kalian simpulkan terkait aktivitas yang sudah kalian lakukan pada aktivitas 2. Tuliskan pada kolom berikut!

AKTIVITAS 3

Perhatikan gambar berikut.

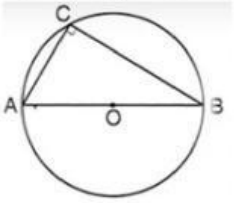

Gunakan sifat sudut keliling dan sudut pusat yang sudah kalian dapatkan pada aktivitas 1 untuk menemukan sifat lainnya.

Sudut pusat = ...=..... °

Sudut pusat = ... sudut keliling

... . = ...

... . . ° = ...

Kesimpulan dari Aktivitas 3

Apa yang dapat kalian simpulkan terkait aktivitas yang sudah kalian lakukan pada aktivitas 3. Tuliskan pada kolom berikut!

LIVEWORKSHEETS

AKTIVITAS 4

Selesaikanlah soal-soal berikut pada kolom yang sudah tersedia dengan cermat!

1. Perhatikan gambar berikut!

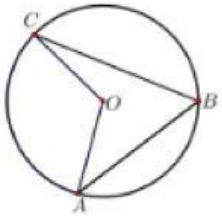

Jika sudut ABC = 60° dan titik O adalah pusat lingkaran, maka besar sudut refleks AOC adalah .....

2. Titik O adalah pusat lingkaran, dengan $\angle ABE + \angle ACE + \angle ADE = 96°$, besar $\angle AOE$ adalah....

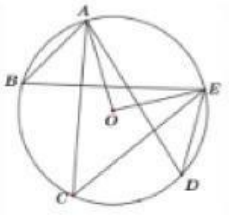

3. Pada gambar di bawah ini, Tentukan besar $\angle ABD$.

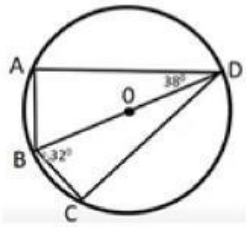

LIVEWORKSHEETS