MATEMÁTICAS TEMA 12

RESUMEN DEL TEMA

¿Cómo se llaman estos cuerpos geométricos?

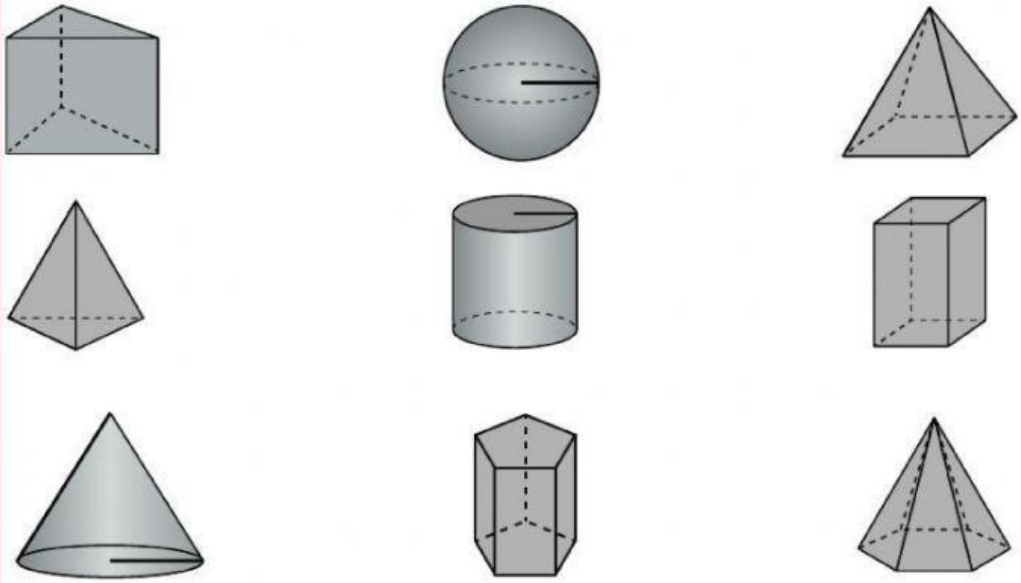

Indica a qué cuerpo geométrico corresponde cada desarrollo.

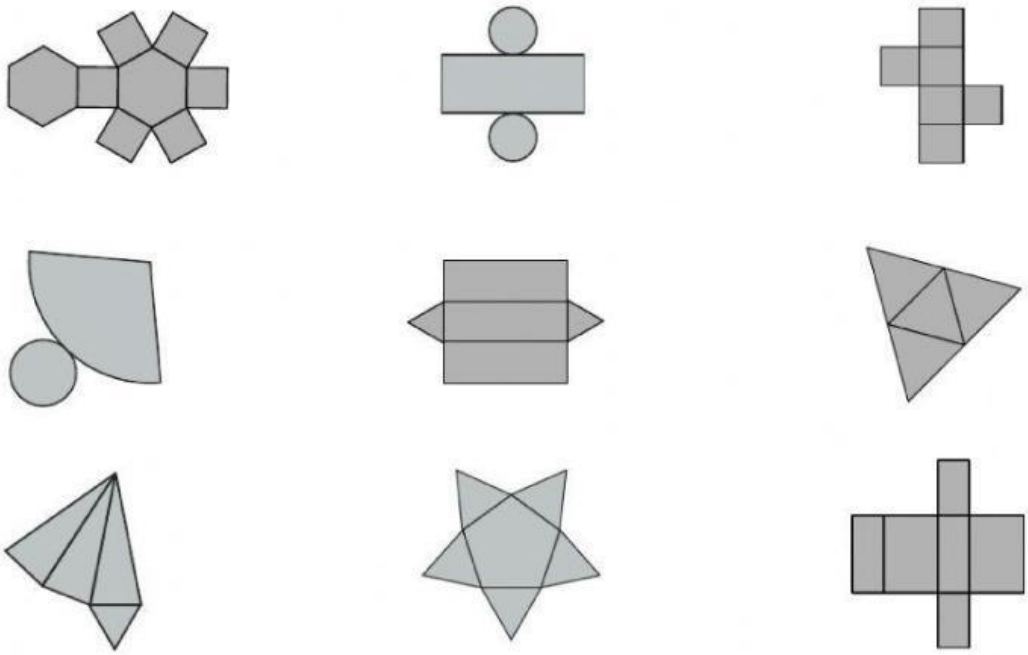

LIVEWORKSHEETS

Señala solo las oraciones que son verdaderas.

- [ ] Las esferas tienen una superficie curva.
- [ ] Los cuerpos redondos son: el cilindro, la pirámide y la esfera.
- [ ] Los conos tienen una base circular y una superficie lateral curva.
- [ ] Los cilindros tienen solo una base circular y una superficie recta.

El prisma cuadrangular tiene como base un pentágono. [ ]

La pirámide hexagonal tiene por base un hexágono. [ ]

La esfera es un cuerpo redondo. [ ]

El cono tiene dos bases circulares. [ ]

Escribe el nombre de cada cuerpo. Coloca en su lugar los elementos que se indican.

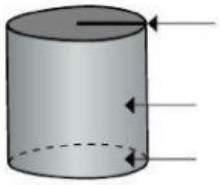

radio | base | superficie lateral curva

Nombre:

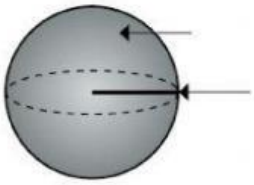

radio | superficie curva

Nombre:

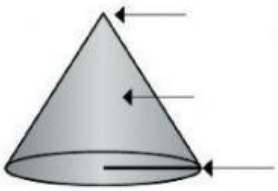

vértice | radio | superficie lateral curva

Nombre:

Completa la tabla:

	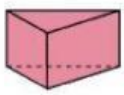	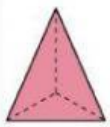	
POLÍGONO DE LA BASE			
NÚMERO DE BASES			
NÚMERO DE CARAS LATERALES			
NÚMERO DE VÉRTICES			
NÚMERO DE ARISTAS			

LIVEWORKSHEETS