*MINISTERUL EDUCAŢIEI ŞI CERCETĂRII AL REPUBLICII MOLDOVA*

*AGENŢIA NAŢIONALĂ PENTRU CURRICULUM ŞI EVALUARE*

**Raionul** _____

**Localitatea** _____

**Instituţia de învăţământ** _____

_____

**Numele, prenumele elevului** _____

# TESTUL Nr. 1

## MATEMATICA

**TEST PENTRU EXERSARE**
**ÎNVĂŢĂMÂNTUL PRIMAR**

februarie 2025
Timp alocat – 60 de minute

Rechizite şi materiale permise: pix cu cerneală albastră, riglă.

Instrucţiuni pentru elevi:

- Citeşte cu atenţie fiecare enunţ şi efectuează cu acurateţe operaţiile solicitate.
- Lucrează independent.

***Îţi dorim mult succes!***

Total puncte _____

LIVEWORKSHEETS

| | | |
|---|---|---|
| 1. | Care dintre numerele de mai jos se citește ***o sută șapte mii nouăzeci***?<br>Încercuiește litera corespunzătoare răspunsului corect.<br>**A** 107 090 **B** 107 900 **C** 100 790 **D** 10 790 | L01 |
| 2. | Care este cel mai mic dintre numerele de mai jos?<br>Încercuiește litera corespunzătoare răspunsului corect.<br>**A** 26 206 **B** 206 602 **C** 26 260 **D** 26 600 | L01 |
| 3. | Observă exercițiul: **100 - 20 : 2 × 5 =**<br>Care operație din acest exercițiu trebuie efectuată în primul rând?<br>Încercuiește litera corespunzătoare răspunsului corect.<br>**A** adunarea **B** înmulțirea **C** împărțirea **D** scăderea | L01 |
| 4. | Indică prin săgeată operația care trebuie efectuată pentru a afla:<br>• jumătatea numărului 24 — 24 × 2 — L01<br>• cu cât numărul 24 este mai mare decât 2 — 24 – 2 — L01<br>• numărul de 2 ori mai mare decât 24 — 24 : 2 — L01<br>24 + 2 | |
| 5. | Citește cu atenție fiecare propoziție. Dacă o consideri adevărată, încercuiește litera ***A***; dacă o consideri falsă, încercuiește litera ***F***.<br>• *30 martie este ultima zi din lună.* ***A*** ***F*** L01<br>• *Cantitatea de făină dintr-o găleată poate fi măsurată cu litrul.* ***A*** ***F*** L01<br>• *În Republica Moldova sunt puse în circulație monede de 5 lei.* ***A*** ***F*** L01<br>• *Lungimea unei țevi umplută cu apă poate fi măsurată în metri.* ***A*** ***F*** L01 | |

LIVEWORKSHEETS

| | | |
|---|---|---|
| 6. | Scrie pe liniile rezervate denumirea formei geometrice.<br>  <br>_____ _____ _____<br>  <br>_____ _____ | L01<br>L01<br>L01<br><br>L01<br>L01 |
| 7. | Calculează în coloniță.<br>**a) 15 710 – 8 618** **b) 400 × 380**<br> 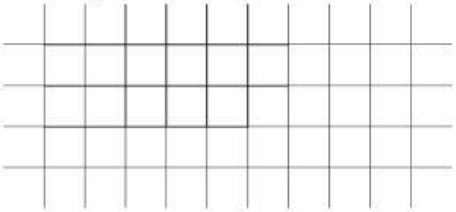  <br>**c) 32 084 : 8**<br> 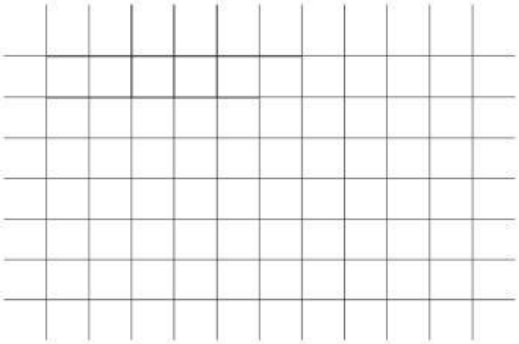 | L012<br>L012<br><br>L012 |
| 8. | Completează cu numerele care lipsesc.<br>5 028 + [ ] = 905 028 542 083 – [ ] = 2 083 | L02<br>L02 |
| 9. | Descoperă regula de formare a șirului.<br>Scrie numărul următor în caseta rezervată.<br>8 605 \| 8 655 \| 8 705 \| [ ] | L02 |
| 10. | Scrie în fiecare cerc semnul de comparație corespunzător (<, =, >).<br>40 dm ◯ 40 m 10 ani ◯ 1 deceniu 10 lei ◯ 100 bani | L01<br>L01<br>L01 |

LIVEWORKSHEETS

| | | |
|---|---|---|
| 11. | *Pe raftul unui atelier erau cutii cu nasturi, în total 120 de nasturi mari și 180 de nasturi mici. S-au folosit 4 cutii cu câte 60 de nasturi. Află câți nasturi au rămas.*<br>Dacă ai nevoie, fă o schemă a problemei.<br>Rezolvare cu justificări.<br>Răspuns (scurt): _____ | L0123<br>L0123<br>L0123<br>L01 |
| 12. | *Un concert pentru copii a durat de la ora 13:15 până la ora 15:00. Câte minute a durat concertul?*<br>Dacă ai nevoie, fă calculele în spațiul rezervat.<br>Răspuns (scurt): _____ | L03 |
| 13. | Completează casetele libere din tabel.<br><table><tr><th></th><th>Cantitatea (bucăți)</th><th>Prețul (lei)</th><th>Costul (lei)</th></tr><tr><td>Caiete</td><td>200</td><td>13</td><td></td></tr><tr><td>Albume</td><td>70</td><td></td><td>4 200</td></tr></table> | L02<br>L02 |
| 14. | Completează cu numărul care lipsește, știind că buteliile conțin aceeași cantitate de apă.<br>*4 butelii conțin în total 6 litri de apă.*<br>*20 butelii conțin în total _____ litri de apă.* | L03 |

LIVEWORKSHEETS