VAIZDUOJAME IR SKAIČIUOJAME

1. **Suskaičiuok, kiek ko yra. Duomenis surašyk į lentelę ir pavaizduok diagrama.** **9 taškai**

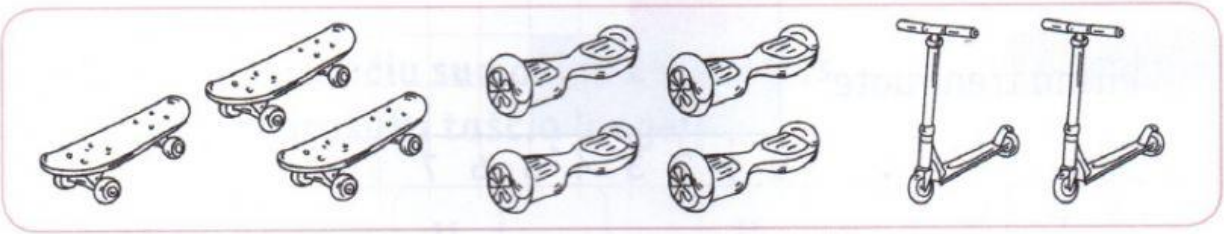

Transporto priemonė	Skaičius

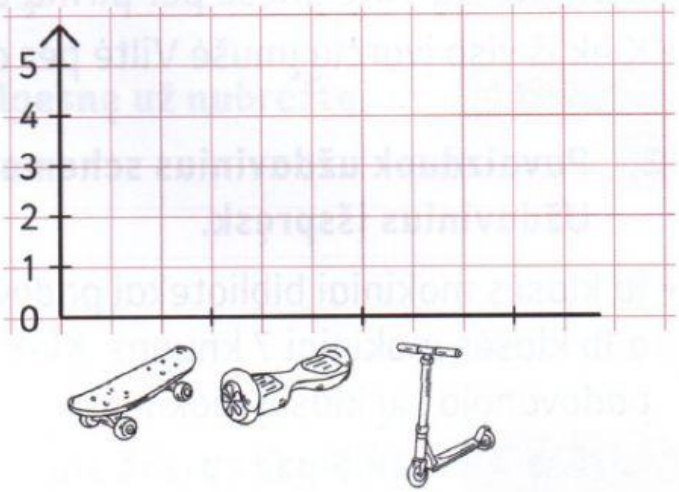

- Pažymėk ✓ teisingus teiginius.
- Riedlenčių yra daugiau negu paspirtukų. ☐
- Paspirtukų yra daugiau negu riedžių. ☐
- Paspirtukų yra mažiausia. ☐

LIVEWORKSHEETS

2. Diagramoje pavaizduota, kiek įvarčių Viltė įmušė per treniruotes. Remdamasis šia diagrama atsakyk į klausimus. **2 taškai**

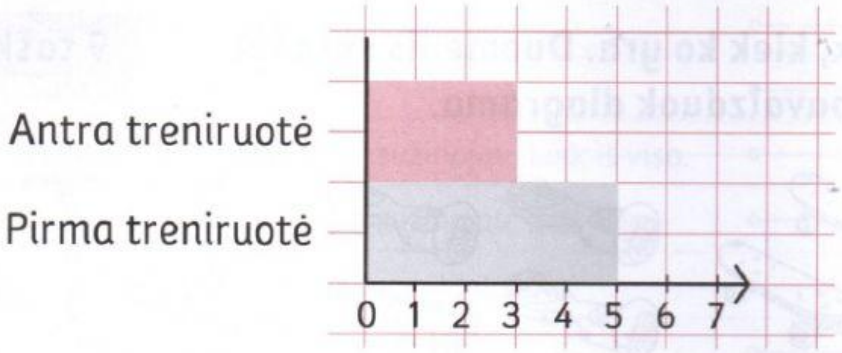

- Kiek įvarčių Viltė įmušė per pirmą treniruotę? ☐
- Kiek iš viso įvarčių įmušė Viltė per abi treniruotes? ☐

3. Pavaizduok uždavinius schemomis. Uždavinius išspręsk. **6 taškai**

- 1a klasės mokiniai bibliotekai padovanojo 4 knygas, o 1b klasės mokiniai 7 knygas. Kiek knygų bibliotekai padovanojo šių klasių mokiniai?

- Klasėje buvo 17 mokinių. 5 mokiniai išėjo į koridorių. Kiek mokinių liko klasėje?

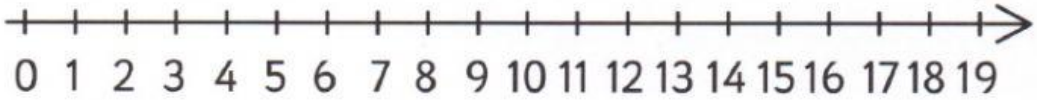

LIVEWORKSHEETS

4. **Kiekvieną skaičių padidink 5 vienetais. Atsakymą įrašyk į tuščią langelį.** **4 taškai**

9	12	14	7

5. **Kiekvieną skaičių sumažink 2 vienetais. Atsakymą įrašyk į tuščią langelį.** **4 taškai**

14		11		16		7	

6. **Nubrėžk atkarpą, 4 cm ilgesnę už nubrėžtą.** **1 taškas**



7. **Suskaičiuok, keliais vienetais antras skaičius mažesnis už pirmą.** **4 taškai**

14	9	18	9	13	6	16	8

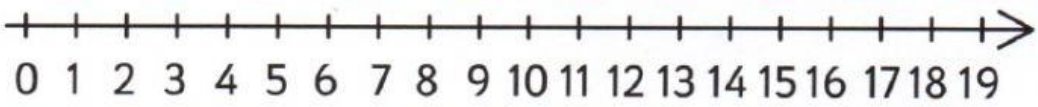

LIVEWORKSHEETS