PROBABILIDAD

OBSERVA LAS BOLAS Y COMPLETA CADA FRASE

MENOS PROBABLE	IGUAL DE PROBABLE	MÁS PROBABLE

- SACAR UNA BOLA AMARILLA ES _____ QUE SACAR UNA BOLA ROJA
- SACAR UNA BOLA ROJA ES _____ QUE SACAR UNA BOLA VERDE.
- SACAR UNA BOLA AZUL ES _____ QUE SACAR UNA BOLA AMARILLA.



OBSERVA EL GRÁFICO Y REPRESENTA LA PROBABILIDAD DE CADA COLOR

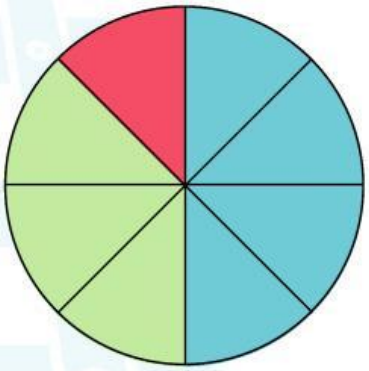

• PROBABILIDAD DE SACAR UN COLOR VERDE		$\frac{1}{8}$
• PROBABILIDAD DE SACAR UN COLOR ROJO		$\frac{3}{8}$
• PROBABILIDAD DE SACAR UN COLOR AZUL		$\frac{4}{8}$
• PROBABILIDAD DE SACAR UN COLOR CUALQUIERA		$\frac{8}{8}$

OBSERVA LOS SUCESOS Y CLASIFÍCALOS

SACAR BOLA AZUL



SACAR BOLA AMARILLA



SACAR BOLA VERDE

LIVEWORKSHEETS