LIVEWORKSHEET

SUDUT dan GARIS SEJAJAR

Nama Kelompok :
Kelas :

Perhatikan gambar berikut!

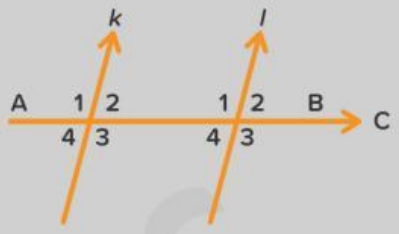

1. Sudut yang sehadap adalah ... .
A. A2 dan B1
B. A3 dan B3
C. B2 dan B4
D. A3 dan B4
1. Sudut yang bertolak belakang adalah ... .
A. A2 dan B1
B. A3 dan B3
C. B2 dan B4
D. A3 dan B4
2. Sudut yang dalam sepihak adalah ... .
A. A2 dan B1
B. A3 dan B3
C. B2 dan B4
D. A3 dan B4
3. Sudut yang dalam berseberangan adalah ... .
A. A2 dan B1
B. A3 dan B3
C. B2 dan B4
D. A3 dan B4
4. Sudut A dan sudut B dalam sepihak. Jika besar sudut A = 120°. maka sudut B = ...
5. Sudut P dan sudut Q dalam bersebrangan. Jika besar sudut P = 50°, maka besar sudut Q = ...
6. Pasangkan sesuai gambar!

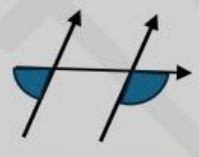

A

Dalam Sepihak

B

Bertolak Belakang

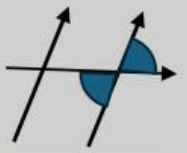

C

Luar Bersebrangan

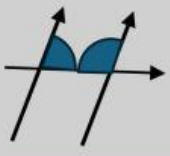

D

Luar Sepihak

8. Dengarkan pertanyaan berikut!

LIVEWORKSHEETS