tabel perkalian 6

Nama:_____

Latihan 1:

Warnai semua kotak yang merupakan jawaban dari tabel perkalian ini.

30	6	48	44	65
30	5	5	55	6
54	42	12	24	49
48	18	60	1	19
23	36	54	9	18

Latihan 2:

Selesaikan lingkaran dengan cara mengalikan angka di tengah dengan ring tengah untuk mendapatkan angka luar.

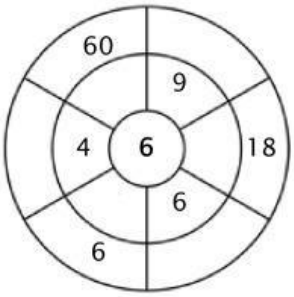

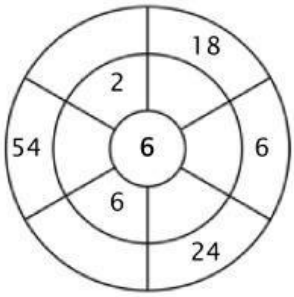

Latihan 3:

Isi hasilnya dengan benar.

a) 5 x 6 =_____ b) 9 x 6 =_____ c) 4 x 6 =_____

d) 1 x 6 =_____ e) 7 x 6 =_____ f) 6 x 6 =_____

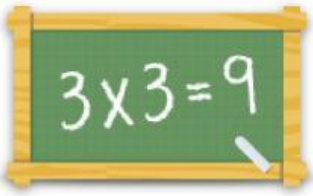

Untuk lebih banyak lembar kerja, permainan, dan latihan:

www.tabelperkalian.com

LIVEWORKSHEETS