PROBABILITATEA

1) Dado bat botatzen baduzu, zein da...

12 zenbakia ateratzeko probabilitatea?	EZINEZKOA
bikoitia den zenbaki bat ateratzeko probabilitatea?	ZIURRA
0 eta 7 bitarteko zenbaki bat ateratzeko probabilitatea?	PROBABLEA
6 zenbakia ateratzeko probabilitatea?	POSIBLEA

2) Hutsuneak bete dagokion hitza txertatuz.

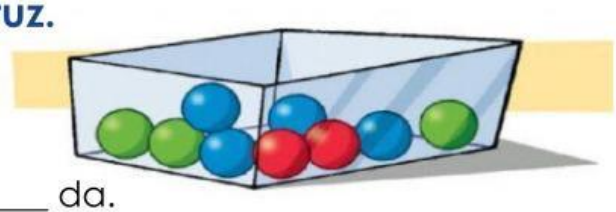

Bola hori bat ateratzea _____ da.

Bola urdin bat ateratzea _____ da.

Bola gorri bat ateratzea _____ da.

Bola berde, urdin edo gorri bat ateratzea _____ da.

ZIURRA PROBABLEA POSIBLEA EZINEZKOA

3) Lot ezazu zuzena den probabilitate bakoitza ondoko kutxekin, kasu bakoitzean kutxatik bola bat ateratzen baduzu.

Ziurra da bola urdin bat ateratzea
Ez da oso probablea bola berde bat ateratzea
Ezinezkoa da bola urdin bat ateratzea

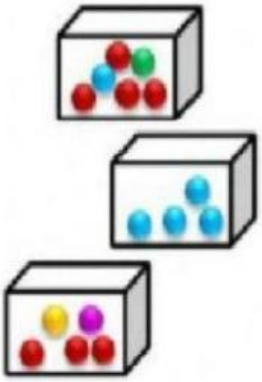

LIVEWORKSHEETS

Irudia begiratu eta galderak erantzun.

- Zenbat bola daude guztira? _____

- Zenbat bola kolore bakoitzetik?

URDINAK = HORIAK = GORRIAK = BERDEAK =

- Beraz, zein da kolore bakoitzetik bola bat ateratzeko probabilitatea? (zatiki batekin adieraz ezazu)

URDINA = ____ GORRIA = ____ BERDEA = ____ HORIA = ____

- Bola bakar bat ateratzen baduzu, zein kolore da probabilitate gehien duena?

URDINA GORRIA BERDEA HORIA

LIVEWORKSHEETS

5) **Adierazi kasu bakoitzean kolore bakoitza ateratzeko probabilitatearen zatikia.**



LIVEWORKSHEETS