NAMA SISWA : **NO ABSEN :**

KELAS : **TANGGAL :**

TEMA 7
VOLUME KUBUS DAN BALOK

A. PILIHLAH JAWABAN YANG PALING TEPAT !

1. Bangun kubus mempunyai sisi sebanyak ….
   A. 3 C. 5
   B. 4 D. 6
2. Balok mempunyai jumlah rusuk sebanyak ….
   A. 15 C. 6
   B. 12 D. 8
3. Balok adalah bangun ruang yang sisinya paling banyak berbentuk ….
   A. Segi empat C. Lingkaran
   B. Layang-layang D. Persegi panjang
4. Perbedaan antara balok dan kubus di antaranya adalah ….
   A. Jumlah sisinya C. Jumlah rusuknya
   B. Besar sudut-sudutnya D. Bentuk sisi-sisinya
5. Pilihlah nama yang sesuai dengan nama bangun ruang di bawah ini !

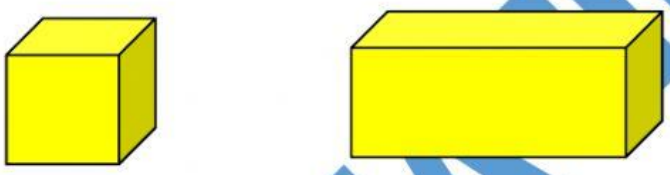

6. Buatlah garis ke jawaban yang benar !

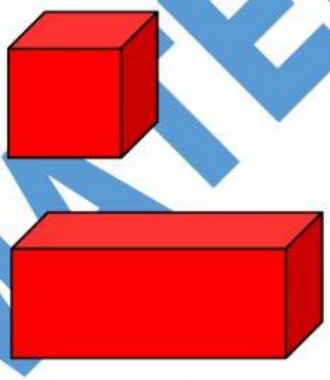

KUBUS

BALOK

7. Tariklah rumus yang sesuai dengan gambar !

Bangun ruang **Rumus**

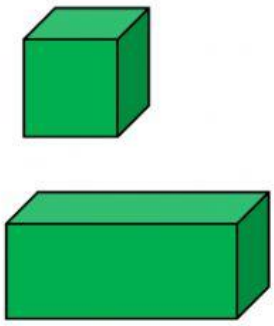

V = S X S X S

V = p x l

V = p x l x t

MATEMATIKA

LIVEWORKSHEETS