Lembar Kerja Peserta Didik Elektronik

RASIO (MEMBANDINGKAN BENDA)

UNTUK PESERTA DIDIK KELAS 6

SEMESTER GENAP

TAHUN PELAJARAN 2024/2025

LIVEWORKSHEETS

BUKALAH VIDEO PEMBELAJARAN BERIKUT

Rasio

Perbandingan dua besaran disebut rasio.
Besarannya dapat berupa ukuran atau jumlah benda.
Rasio dapat dinyatakan dengan beberapa cara, contohnya $a : b$ atau $b : a$.
Keduanya dibaca rasio a terhadap b atau rasio b terhadap a.
Pada besaran yang sama, rasio dituliskan tidak menggunakan satuan. Contoh perbandingan pohon pucuk merah terhadap pohon cemara adalah 4 : 6.
4 : 6 memiliki arti bahwa setiap 4 pohon pucuk merah terdapat 6 pohon cemara.

LIVEWORKSHEETS

Instruksi :

Tuliskan rasio yang tepat untuk mewakili jumlah gambar buah di bawah ini!

SOAL NO 1





Berdasarkan gambar di atas, rasio buah terhadap buah adalah .....

Jawab = ... : 6

LIVEWORKSHEETS

Instruksi :

Tuliskan rasio yang tepat untuk mewakili jumlah gambar buah di bawah ini!

SOAL NO 2



Berdasarkan gambar di atas, rasio buah terhadap buah adalah .....

Jawab = 5 : ....

LIVEWORKSHEETS

Instruksi :

Tuliskan rasio yang tepat untuk mewakili jumlah gambar buah di bawah ini!

Soal No 3





Berdasarkan gambar di atas, rasio buah terhadap buah adalah .....

Jawab = 4 : ....

LIVEWORKSHEETS

Instruksi :

Tuliskan rasio yang tepat untuk mewakili jumlah gambar buah di bawah ini!

Soal No 4





Berdasarkan gambar di atas, rasio buah terhadap buah  adalah .....

Jawab = 5 : ....

LIVEWORKSHEETS

Instruksi :

Tuliskan rasio yang tepat untuk mewakili jumlah gambar buah di bawah ini!

Soal No 5





Berdasarkan gambar di atas, rasio buah terhadap buah adalah .....

Jawab = 4 : ....

LIVEWORKSHEETS

Instruksi :

Tuliskan rasio yang tepat untuk mewakili jumlah gambar buah di bawah ini!

Soal No 6



Berdasarkan gambar di atas, rasio buah terhadap buah adalah .....

Jawab : ..... : 6

LIVEWORKSHEETS

Instruksi :

Tuliskan rasio yang tepat untuk mewakili jumlah gambar buah di bawah ini!

Soal No 7



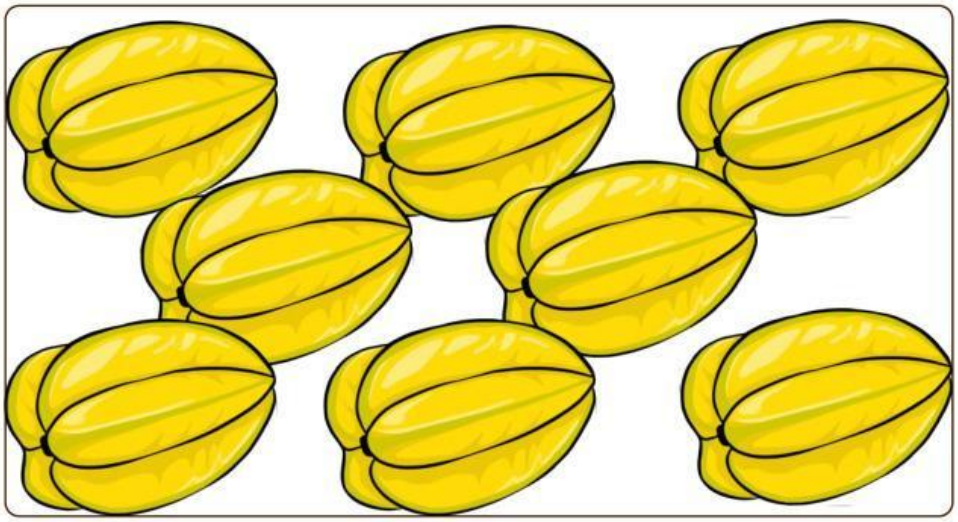

Berdasarkan gambar di atas, rasio buah terhadap buah adalah .....

Jawab = ... : 6

LIVEWORKSHEETS

Instruksi :

Tuliskan rasio yang tepat untuk mewakili jumlah gambar buah di bawah ini!

Soal No 8



Berdasarkan gambar di atas, rasio buah terhadap buah adalah .....

Jawab = 8 : ....

LIVEWORKSHEETS

Instruksi :

Tuliskan rasio yang tepat untuk mewakili jumlah gambar buah di bawah ini!

Soal No 9





Berdasarkan gambar di atas, rasio buah terhadap buah adalah .....

Jawab = ... : 7

LIVEWORKSHEETS

Instruksi :

Tuliskan rasio yang tepat untuk mewakili jumlah gambar buah di bawah ini!

Soal No 10

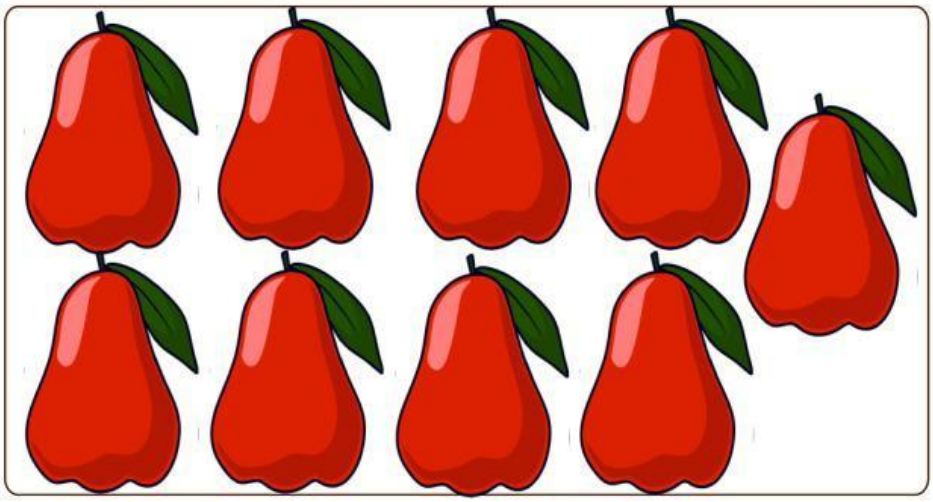



Berdasarkan gambar di atas, rasio buah  terhadap buah adalah .....

Jawab = 10 : ....

LIVEWORKSHEETS