ROTASI

AYO MEMBACA !

Berkunjung ke Pameran Batik

Minggu lalu, Dani dan teman-temannya pergi berkunjung ke pameran batik yang ada di dalam suatu acara festival tahunan Bank Indonesia. Di sana, mereka melihat ada berbagai kain batik yang berasal dari daerah Jambi. Dani dan teman-temannya begitu antusias mengamati setiap motif yang ada pada kain batik tersebut. Namun, mata dani tertuju ke salah satu motif biji kopi yang ada pada batik tersebut.

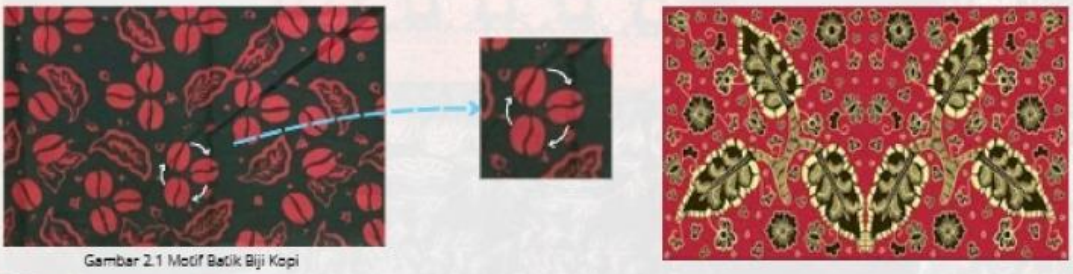

Gambar 2.1 Motif Batik Biji Kopi

Ibu, kenapa motif biji kopi pada batik tersebut terlihat seperti berputar?

Pertanyaan yang bagus dani!, hal itu dikarenakan motif tersebut menggunakan konsep rotasi

Wah, apa itu konsep rotasi bu?

LIVEWORKSHEETS

DEFINISI

Rotasi merupakan perpindahan posisi yang dilakukan dengan cara diputar sebesar sudut tertentu pada suatu titik tetap (pusat rotasi)

Rotasi dengan arah berbalik jarum jam

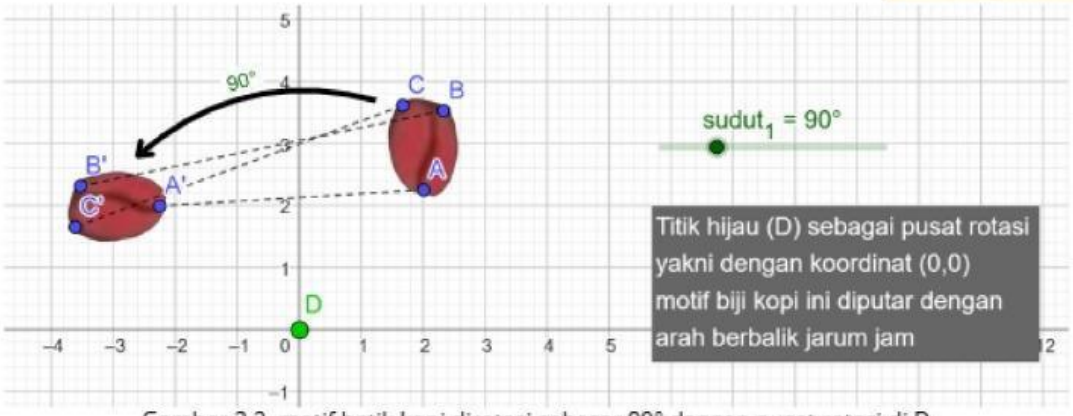

Gambar 2.2. motif batik kopi dirotasi sebesar 90° dengan pusat rotasi di D dengan arah berbalik jarum jam

Rotasi searah jarum jam

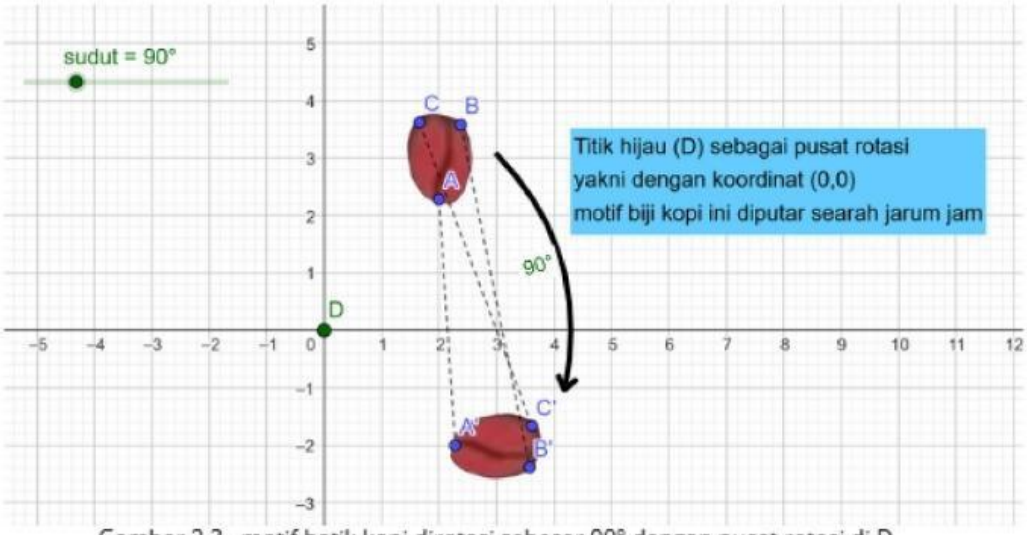

Gambar 2.3. motif batik kopi dirotasi sebesar 90° dengan pusat rotasi di D searah jarum jam

LIVEWORKSHEETS

Aktivitas 2

Untuk lebih jelasnya, lakukan aktivitas 2 dengan mengklik link di bawah in!

https://www.geogebra.org/classroom/qaepuvr4

LIVEWORKSHEETS

REFLEKSI

Tahukah kamu ?!

Motif Durian Pecah

Gambar 3.1 Motif Batik Durian Pecah

Motif durian pecah ini berasal dari Kota Jambi. Motif durian pecah dapat diibaratkan sebagai manusia yang dikaruniai oleh Yang Maha Kuasa dengan keistimewaan yang tiada tara, memiliki makhluk ciptaan Yang Maha Kuasa. Sebagai seorang pemimpin harus tegas dalam bertutur kata, kuat dalam pendirian dan membawa banyak manfaat bagi lingkungan.

Selain motif durian pecah, apa saja motif batik Jambi yang kamu ketahui? Tuliskan jawabanmu di bawah ini

_____

_____

_____

LIVEWORKSHEETS

Ayo Mengamati !

Gambar di bawah ini merupakan bentuk dasar dari motif durian pecah

Bentuk pada motif batik durian pecah dapat dipandang sebagai hasil refleksi (pencerminan) bentuk dasar.



Gambar 3.2. refleksi terhadap sumbu x



Gambar 3.3. refleksi terhadap sumbu y

DEFINISI

Refleksi atau pencerminan merupakan satu jenis transformasi yang memindahkan setiap titik pada suatu bidang dengan mengggunakan sifat bayangan cermin dari titik-titik yang dipindahkan

LIVEWORKSHEETS

Aktivitas 3

Untuk lebih jelasnya, lakukan aktivitas 3 dengan mengklik link di bawah in!

https://www.geogebra.org/classroom/mgedhpdu

LIVEWORKSHEETS

DILATASI

AYO AMATI !

Motif Batik Incung

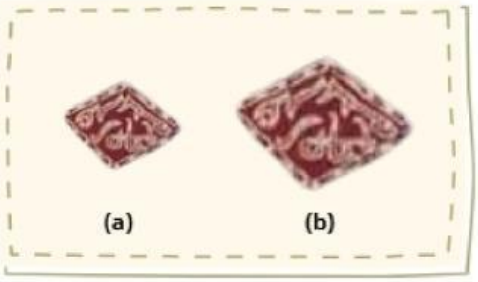

Gambar 4.1 Motif Batik Incung

Motif Batik Incung merupakan salah satu motif batik Jambi. Huruf Incung merupakan aksara kuno masyarakat kerinci yang digunakan pada zaman dahulu dan dilestarikan hingga sekarang. Dengan adanya motif batik Kerinci menggunakan huruf incung maka budaya bahasa dengan tulisan encong akan lebih mudah dikenalkan di masyarakat lain.

Dari motif batik Incung di atas, apa yang dapat kamu simpulkan dari gambar (a) dan (b)? Tuliskan tanggapanmu di bawah ini :

_____

_____

_____

LIVEWORKSHEETS

Perhatikan gambar di bawah ini !

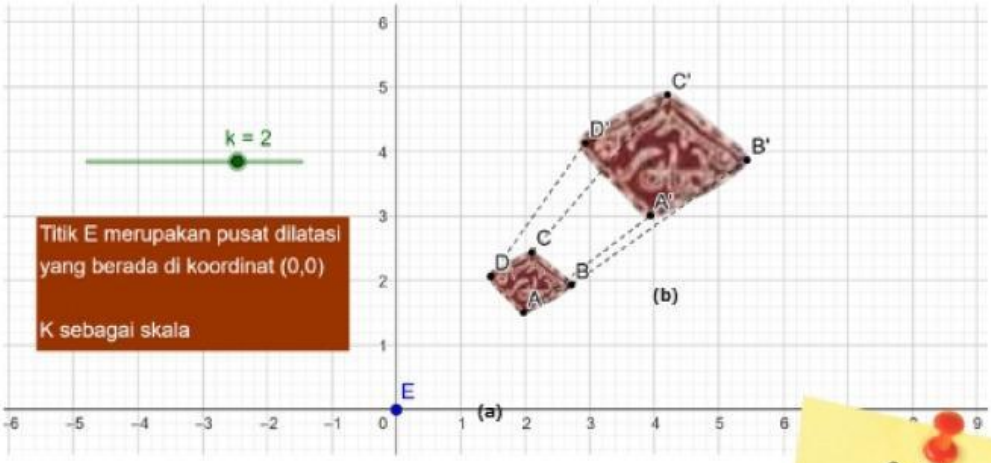

Gambar 4.2 dilatasi diperbesar 2 kali

Catatan :

Ketika $k > 1$ maka dilatasi tersebut termasuk ke dalam pembesaran, tetapi jika $0 < k < 1$ maka dilatasi tersebut termasuk ke dalam pengecilan.

k = faktor skala

Pada gambar di atas, terlihat bahwa motif batik (a) diperbesar 2 kali menjadi seperti motif batik (b). Kata diperbesar 2 kali biasa disebut faktor skala, sedangkan titik E sebagai pusat pembesaran. Perubahan ukuran motif batik (a) ke motif batik (b) disebut dilatasi.

DEFINISI

Dilatasi adalah jenis transformasi geometri di mana suatu objek diperbesar atau diperkecil dengan mempertahankan bentuknya. Dilatasi membutuhkan titik pusat dan faktor skala.



LIVEWORKSHEETS

Aktivitas 4

Amati video di bawah ini !

https://www.geogebra.org/classic/ydkjsxcx

Setelah kamu mengamati, apa yang dapat kamu simpukan dari video di atas?

_____

_____

_____

_____

_____

_____

LIVEWORKSHEETS

Latihan Soal

Nama :
Kelas :
No. Absen :

1. Perhatikan gambar di bawah ini!

Dari motif batik di atas, tentukan jenis transformasi geometri yang ada pada motif bewarna merah dan hijau tersebut beserta alasannya !

.....
.....
.....
.....
.....

2. Perhatikan gambar berikut ini !

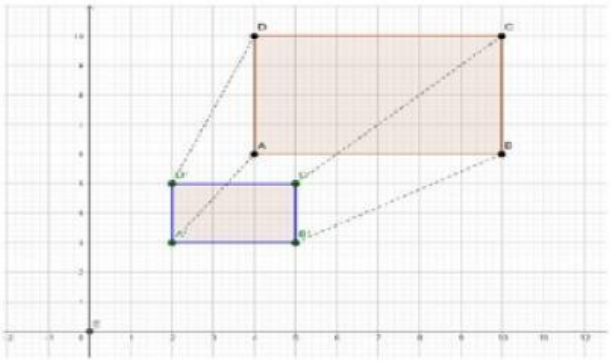

Gambar tersebut merupakan persegi panjang ABCD yang didilatasikan dengan pusat O(0,0) dengan faktor skala ½.

Berdasarkan gambar tersebut, lengkapilah tabel berikut ini !

Titik Asal	Titik Bayangan
A (… , …)	A' (… , …)
B (… , …)	B' (… , …)
C (… , …)	C' (… , …)
D (… , …)	D' (… , …)

LIVEWORKSHEETS

Latihan Soal

3. Hubungkan bangun datar berikut yang sesuai dengan jenis transformasinya!

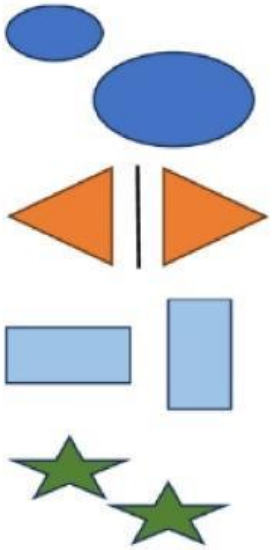

- Refleksi
- Rotasi
- Dilatasi
- Translasi

4. Tentukan hasil refleksi segitiga ABC terhadap sumbu-y, kemudian gambarkan hasil refleksinya pada koordinat yang sama!

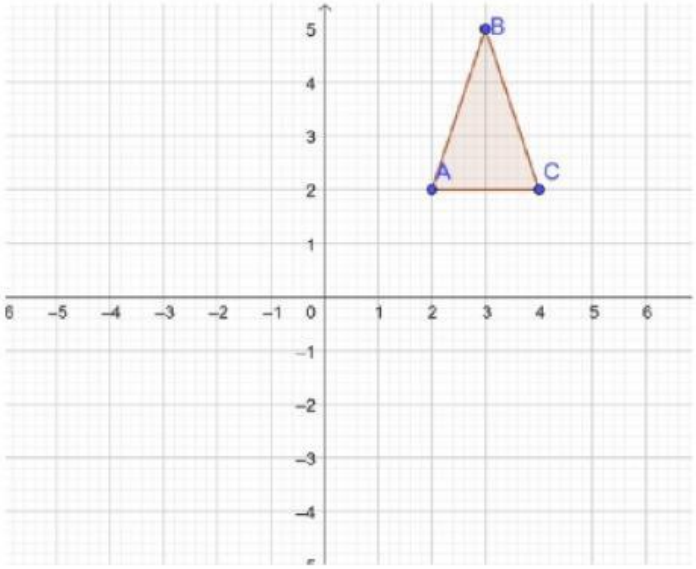

LIVEWORKSHEETS

RANGKUMAN

- Translasi adalah jenis transformasi yang dimana objek geometri digeser ke posisi yang baru tanpa mengubah bentuk dan ukurannya.

- Rotasi merupakan perpindahan posisi yang dilakukan dengan cara diputar sebesar sudut tertentu pada suatu titik tetap (pusat rotasi)

- Refleksi atau pencerminan merupakan satu jenis transformasi yang memindahkan setiap titik pada suatu bidang dengan mengggunakan sifat bayangan cermin dari titik-titik yang dipindahkan

- Dilatasi adalah jenis transformasi geometri di mana suatu objek diperbesar atau diperkecil dengan mempertahankan bentuknya. Dilatasi membutuhkan titik pusat dan faktor skala.

LIVEWORKSHEETS

Glosarium

Faktor skala	:	Perbandingan antara jarak titik bayangan dengan jarak titik sebenarnya
Geogebra	:	Aplikasi matematika yang memiliki kemampuan untuk menyajikan konten matematika seperti geometri, aljabar, statistika, dan aplikasi kalkulus.
Geometri	:	Cabang matematika yang menjelaskan sifat-sifat garis, sudut, bidang dan ruang
Koordinat kartesius	:	Digunakan untuk menentukan tiap titik dalam bidang dengan menggunakan dua bilangan yang biasa disebut koordinat x (absis) dan koordinat y (ordinat) dari titik tersebut.
Transformasi	:	Perubahan posisi dan ukuran dari suatu objek (titik, garis, kurva dan bidang

LIVEWORKSHEETS