1. **Encierra** los objetos que sirven para medir capacidad.

2. **Observa** las imágenes y **completa** las frases con las palabras *mayor que* y *menor que*.



a. La capacidad del balde es _____ la capacidad de la botella.

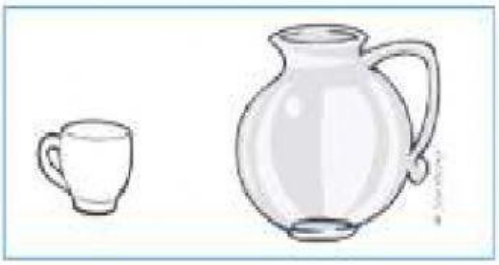

b. La capacidad de la taza es _____ la capacidad de la jarra.

3. **Escribe** el número de tazas que debes colocar en la cubeta.

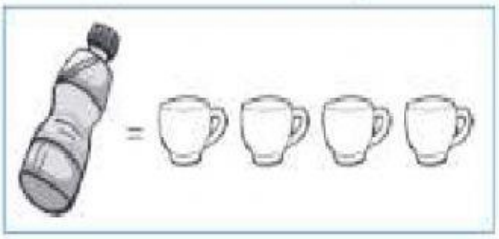

= ☐ tazas

LIVEWORKSHEETS