Los alumnos de la clase de 4.º A han votado sus juegos favoritos. Observa los gráficos, completa la tabla y responde.

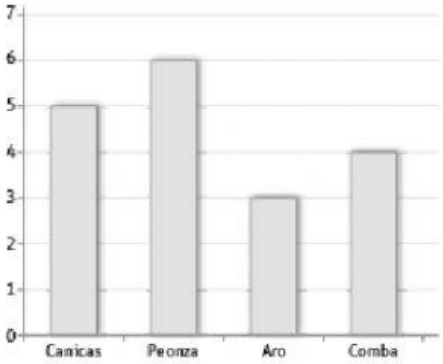

NIÑOS

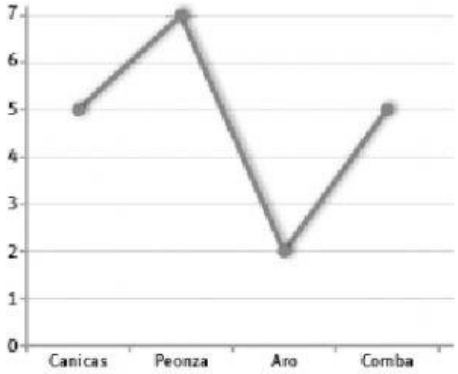

NIÑAS

	canicas	peonza	aro	comba
niños	.....	.....	.....	.....
niñas	.....	.....	.....	.....

a) ¿Cuántos niños han realizado la encuesta? ..... ¿Cuántas niñas? .....

b) ¿Qué juguete es el preferido por los niños? ..... ¿Y por las niñas? .....

c) ¿Cuál es el juguete menos votado por los alumnos? .....

LIVEWORKSHEETS

Observa las edades de los niños del equipo de water-polo en el que juega Luis y completa la tabla que tienes a continuación.



10 - 11 - 10 - 10 - 11 - 12 -11 - 11 - 13 - 12 - 12 - 13 - 12 - 10 - 11

	10 años	11 años	12 años	13 años
n.º jugadores	.....	.....	.....	.....

a) Dibuja un gráfico de barras y uno de líneas con los datos de la tabla.

Gráfico de barras

Número de jugadores.

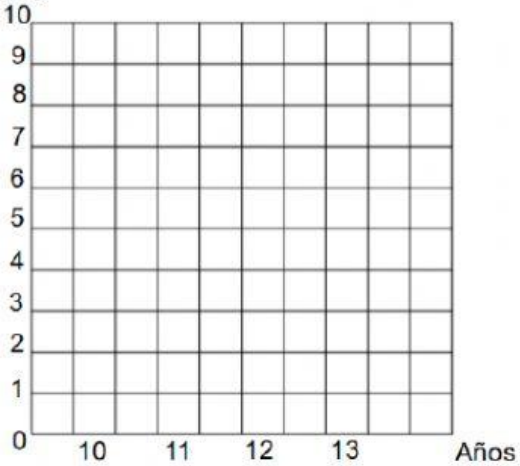

Gráfico de líneas

Número de jugadores.

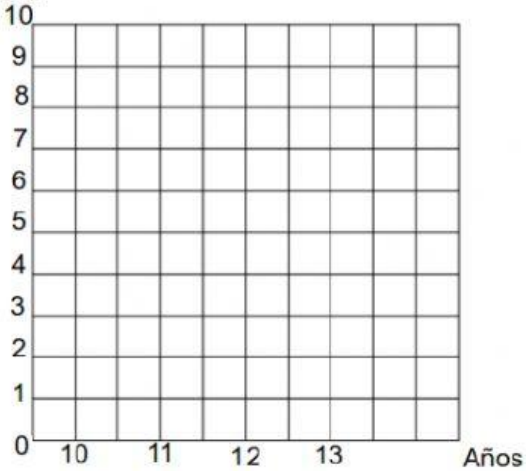

LIVEWORKSHEETS