EVALUCIÓN GRADO SEGUNDO

Lee atentamente cada pregunta y responde a conciencia, Si haces trampa solo te estas engañando a ti mismo.

1. Completa la siguiente afirmación.

a) **Los seres vivos se caracterizan por qué:**

_____

_____

b) **Al nacer los seres vivos pueden hacerlo por medio de:_____ , _____ y _____.**

c) **Todos los seres vivos necesitan _____para crecer.**

2. señala con una línea el tipo de alimentación según su enunciado y representación.

Es aquella que llevan a cabo todos los seres que son capaces de crear su propio alimento gracias a que tienen células especializadas.

Es aquella que llevan a cabo todos los seres vivos que necesitan alimentarse de otros seres u organismos

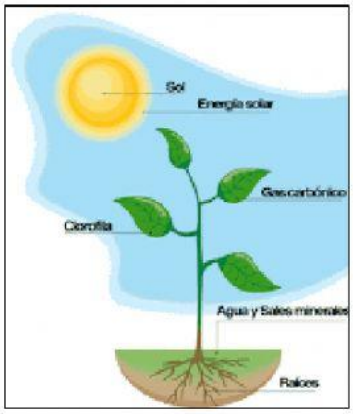

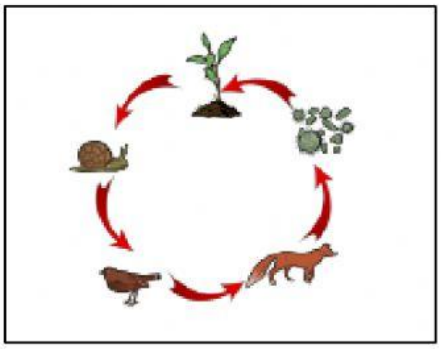

Alimentación Heterótrofa

Alimentación Autótrofa

LIVEWORKSHEETS

3. Dentro de la alimentación heterótrofa se encuentran otras tres tipos de alimentación escribe a qué tipo de alimentación pertenece cada enunciado.

_____: son los animales que se alimentan de plantas.

_____ : son los animales que se alimentan de otros animales.

_____: son los animales que se alimentan de plantas y otros animales se llaman.

4. Relaciona la imagen con el tipo de alimentación.

5. completa.
todas las plantas realizan la _____ para realizar su propio alimento.

6. Los seres vivos se reproducen, es decir, pueden tener crías o hijos de su misma especie. Relaciona el tipo de reproducción con su definición.

Los animales que se desarrollan en el vientre materno.	**Vivíparo**
Los animales que nacen por huevos.	**Ovíparo**

LIVEWORKSHEETS

7. **señala con una línea el tipo de alimentación según su representación.**

8. completa.

Cuando un ser vivo muere su organismo deja de_____.

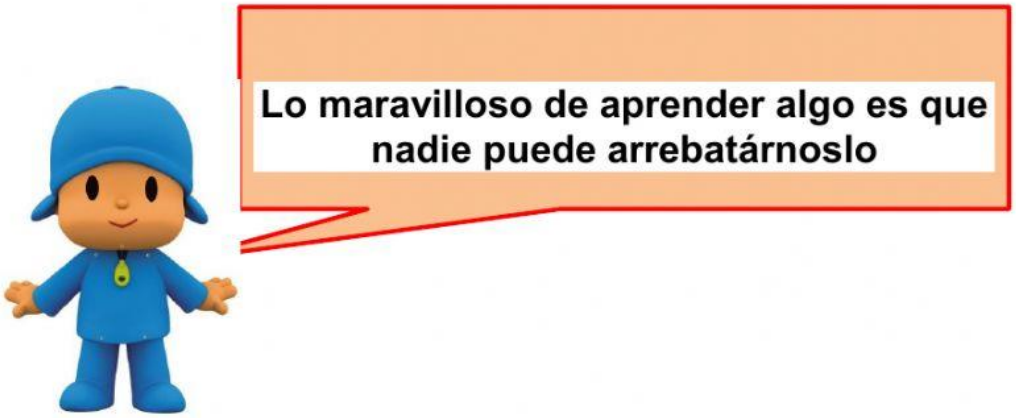

LIVEWORKSHEETS