Dopasuj do siebie (połącz kreską) w sposób poprawny dwie strony reakcji:

$2Na + 2HNO_3 \rightarrow$	$K_2SO_3 + H_2$
$2K + H_2SO_3 \rightarrow$	$2NaNO_3 + H_2$
$Ca + 2HCl \rightarrow$	$CaCl_2 + H_2$
$3Mg + 2H_3PO_4 \rightarrow$	$Mg_3(PO_4)_2 + 3H_2$
$2Na + H_2S \rightarrow$	$Na_2S + H_2$

Połącz w pary nazwę związku chemicznego i obrazek prezentujący jego wzór strukturalny (przeciągnij nazwę do obrazka):

Kwas siarkowodorowy Kwas siarkowy(VI) Kwas fosforowy(V)

Kwas węglowy Kwas azotowy(V)

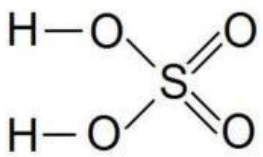

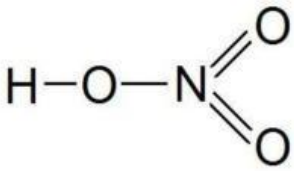

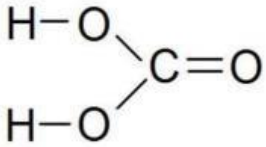

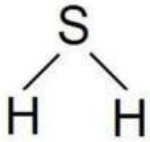

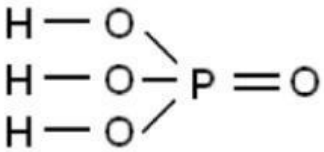

LIVEWORKSHEETS