Recorda...

As **frações decimais** são frações em que o denominador é 10, 100, 1000, ... e representam números decimais.

$\frac{1}{10} = 0,1$ $\frac{1}{100} = 0,01$ $\frac{1}{1000} = 0,001$

As **frações equivalentes** são aquelas que representam a mesma quantidade.



$\frac{2}{5} = \frac{4}{10}$



Quando duas frações têm o mesmo denominador, representa o número maior aquela que tiver maior numerac

$\frac{5}{8} > \frac{1}{8}$

Quando duas frações têm o mesmo numerador, representa o número maior aquela que tiver menor denominador.

$\frac{1}{2} < \frac{1}{8}$

1. Faz a correspondência entre cada fração decimal e o número decimal que a representa.

$\frac{2}{10}$	$\frac{75}{100}$	$\frac{7}{100}$	$\frac{2}{100}$	$\frac{7}{10}$	$\frac{75}{1000}$
0,07	0,7	0,2	0,75	0,075	0,02

2. Completa as seguintes retas numéricas.

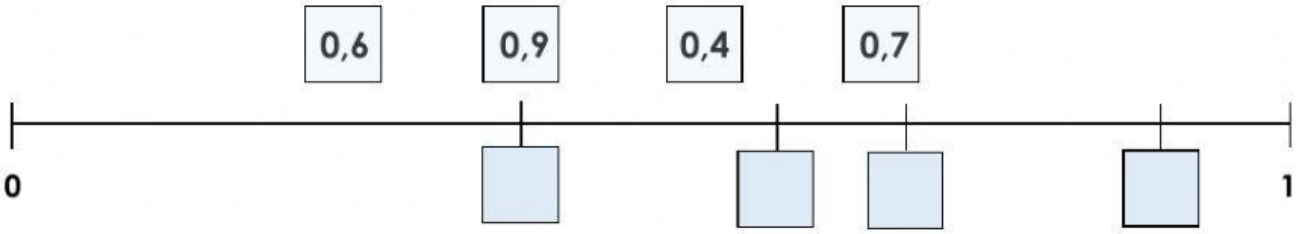

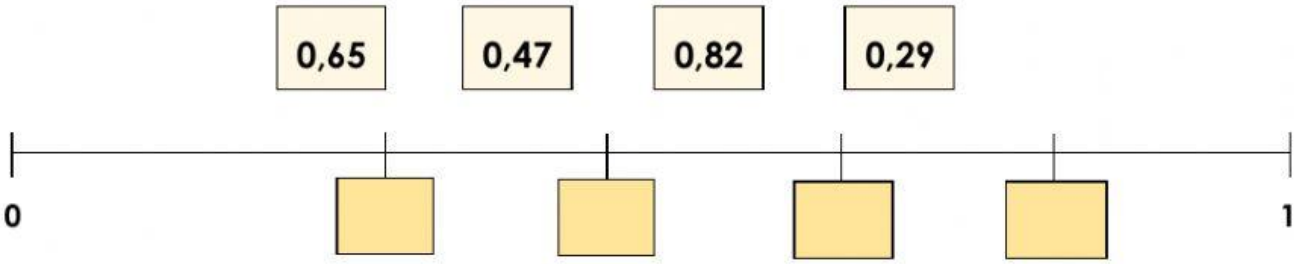

LIVEWORKSHEETS

3. Faz a correspondência entre as frações equivalentes.

$\frac{1}{2}$ $\frac{1}{4}$ $\frac{1}{3}$ $\frac{3}{3}$ $\frac{2}{3}$ $\frac{2}{5}$

$\frac{2}{6}$ $\frac{2}{8}$ $\frac{4}{6}$ $\frac{2}{4}$ $\frac{4}{10}$ $\frac{4}{4}$

4. Ordena as frações por ordem crescente (frações com o mesmo denominador).

$\frac{2}{9}$ $\frac{4}{9}$ $\frac{1}{9}$ $\frac{8}{9}$ $\frac{6}{9}$

$\square < \square < \square < \square < \square$

5. Ordena as frações por ordem decrescente (frações com o mesmo numerador).

$\frac{2}{6}$ $\frac{2}{4}$ $\frac{2}{8}$ $\frac{2}{3}$ $\frac{2}{5}$

$\square > \square > \square > \square > \square$

LIVEWORKSHEETS