Họ và tên:_____**Lớp:**_____

BÀI 8: GÓC Ở VỊ TRÍ ĐẶC BIỆT. TIA PHÂN GIÁC CỦA MỘT GÓC

Câu 1: Em hãy kể tên cặp góc kề bù trong Hình 1

_____

_____

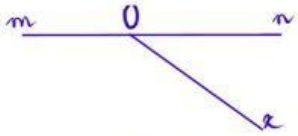

Hình 1

Câu 2: Cho Hình 2, Chọn các câu trả lời đúng trong các câu sau:

A. Góc O_1, góc O_2 là hai góc đối đỉnh.
B. Góc O_1, góc O_3 là hai góc đối đỉnh.
C. Góc O_4, góc O_2 là hai góc đối đỉnh.
D. Góc O_3, góc O_2 là hai góc kề bù.
E. Góc O_1, góc O_2 là hai góc kề bù.
F. Góc 1, góc O_3 là hai góc đối đỉnh.

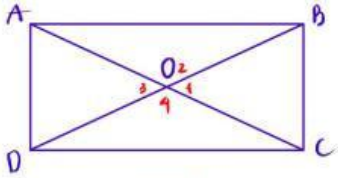

Hình 2

Câu 3: Cho Hình 3, biết góc $zOy = 45°$, tính số đo góc xOz.

_____

_____

_____

_____

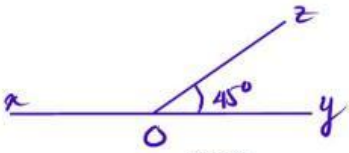

Hình 3

Câu 4: Cho Hình 4, biết Oz là tia phân giác của góc xOy. Tính số đo góc O_1 trong các trường hợp bên dưới, và thả đáp án đúng vào cột **Góc O_1** bên dưới

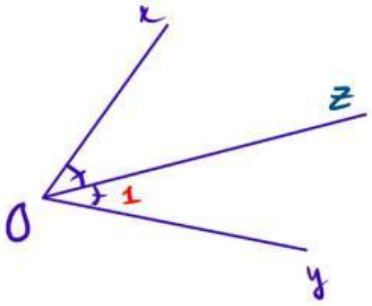

Hình 4

Góc xOy	Góc O_1	Bảng lựa chọn
50°		31°
34°		45°
90°		30°
54°		27°
62°		25°
		60°
		38°
		17°

LIVEWORKSHEETS

Câu 5: Điền vào chỗ trống.

Quả bí đỏ trong Hình 5 nặng _____ kg.

Hình 5

Câu 6: Cho Hình 6, chọn câu trả lời đúng:

A. Góc $mBy = 126°$.
B. Góc $mBy = 144°$.
C. Góc $mBy = 154°$.
D. Góc $mBy = 146°$.

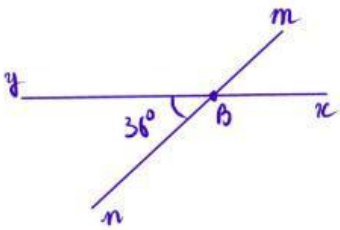

Hình 6

LIVEWORKSHEETS