LEMBAR KERJA SISWA
AMMAN ACADEMY

Nama | Tanggal | Kelas 11 | Nilai

SISTEM INDERA MANUSIA: HIDUNG

Hidung memungkinkan kita untuk mencium aroma, dimana organ ini sangat dibutuhkan agar kita bisa merasakan keberadaan molekul di udara bahkan yang berukuran kecil sekalipun.

BERIKAN LABEL

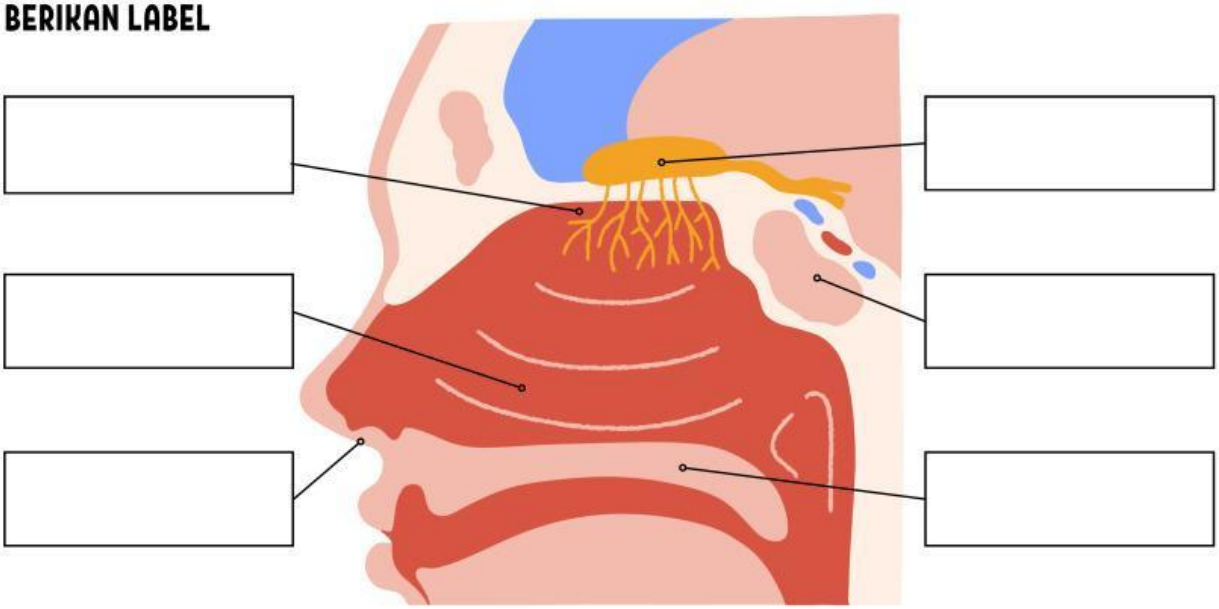

FUN FACT:

Indera penciuman adalah satu-satunya indera perasa yang berhubungan langsung ke sistem limbik di otak, yang bertanggung jawab dalam mengatur emosi dan ingatan.

COCOKKAN.

Reseptor Penciuman	Struktur di dalam otak yang menerima sinyal dari neuron reseptor penciuman
Bulbus okfaltorius	Bagian dari sistem syaraf pusat yang menerima dan mengartikan sinyal dari bulbus okfaltorius.
Rongga hidung	Bagian dari sistem pernapasan dimana molekul aroma dideteksi.
Otak	Sel yang terletak di dalam rongga hidung dan merespon aroma.

LIVEWORKSHEETS

LEMBAR KERJA SISWA
AMMAN ACADEMY

Nama | Tanggal | Kelas 12 | Nilai

APA ITU MEIOSIS?

Meiosis adalah proses dimana satu individu sel membelah dua untuk membuat empat sel yang masing-masing membawa sebagian materi genetik dari individu sebelumnya. Sel yang mengalami ini disebut sebagai sel kelamin, yaitu sel sperma pada laki-laki dan sel telur pada perempuan.

Deskripsikan secara singkat masing-masing tahapan meiosis di bawah ini.

TAHAP	DESKRIPSI
Profase 1	
Metafase 1	
Anafase 1	
Telofase 1/Sitokinesis	
Profase 2	
Metafase 2	
Anafase 2	
Telofase 2/Sitokinesis	

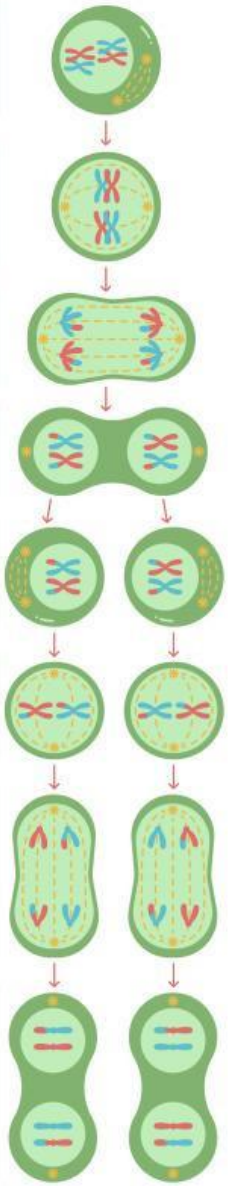

LIVEWORKSHEETS

LEMBAR KERJA SISWA
AMMAN ACADEMY

Nama _____ Tanggal _____ Kelas 7 _____ Nilai _____

SEL TUMBUHAN

Pakailah kata-kata di bawah ini untuk melabeli setiap bagian sel tumbuhan pada gambar.

Sitoplasma	Dinding sel	Nukleus	Mitokondria
Klorofil	Vakuola	Badan golgi	Membran sel
Nukleus	Peroksisom	Ribosom	Retikulum endoplasma

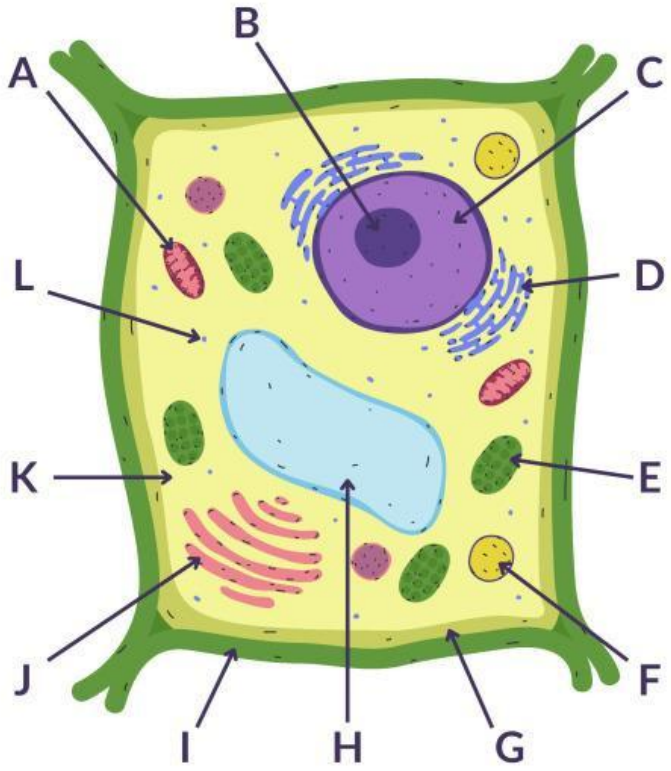

A _____

B _____

C _____

D _____

E _____

F _____

G _____

H _____

I _____

J _____

K _____

L _____

LIVEWORKSHEETS

LEMBAR KERJA SISWA
AMMAN ACADEMY

Nama _____ Tanggal _____ Kelas 7 _____ Nilai _____

SEL HEWAN

Pakailah kata-kata di bawah ini untuk melabeli bagian sel hewan pada gambar.

Sitoplasma	Ribosom	Nukleus	Membran sel
Sentrosom	Vakuola	Badan golgi	Mitokondria
Mikrotubulus	Nukleolus	Lisosom	Retikulum endoplasma

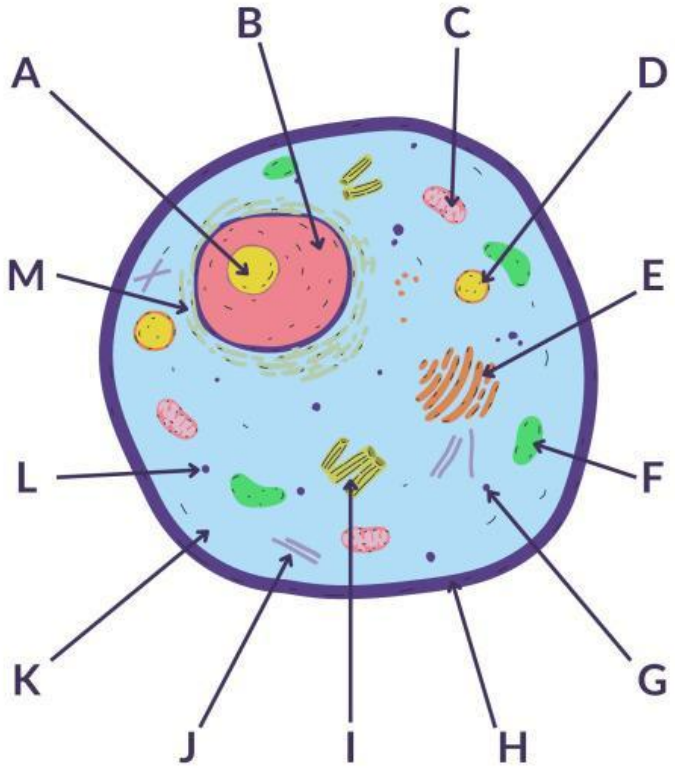

A _____

B _____

C _____

D _____

E _____

F _____

G _____

H _____

I _____

J _____

K _____

L _____

M _____

LIVEWORKSHEETS