EXAMEN MATEMÁTICAS TEMA 5

NOMBRE: _____

AVERIGUA EL NÚMERO QUE FALTA

_ X 5 = 45 _ X 8 = 16 4 X _= 45 _ X 2 = 18

_ X 6 = 54 6 X _ = 18 _ X 7 = 56 3 X _ = 24

7 X _ = 21 _ X 5 = 5 9 X _ = 36 _ X 8 = 32

Escribe qué tipo de línea es

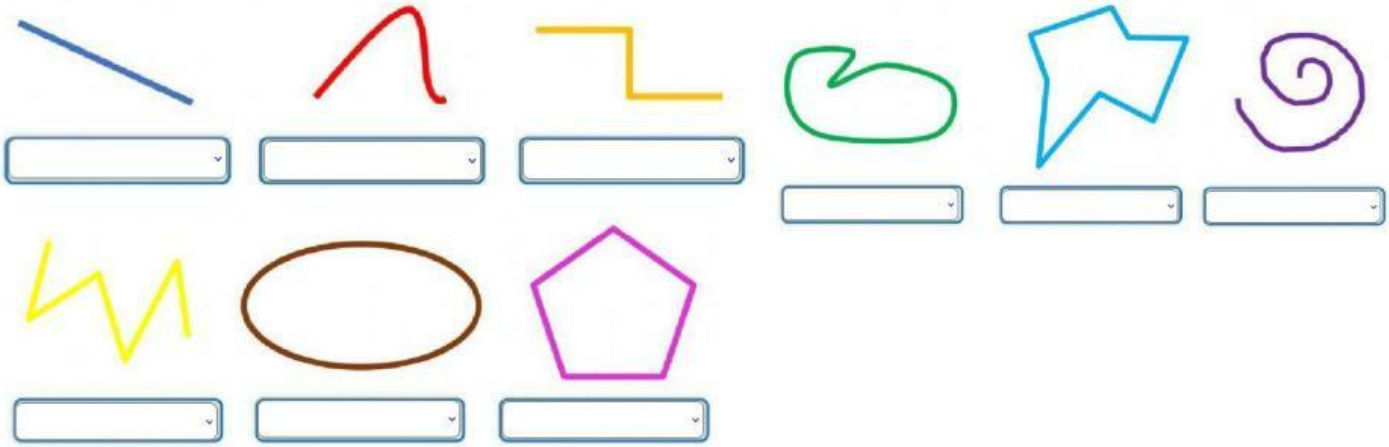



RESUELVE

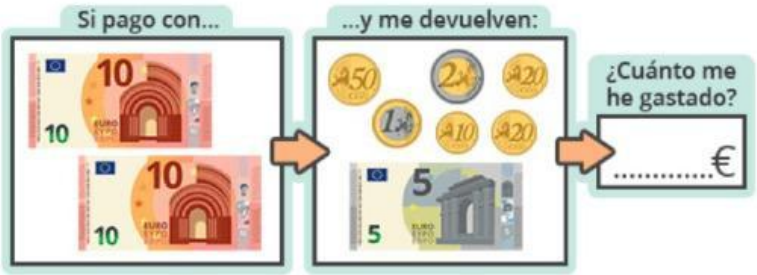

LIVEWORKSHEETS

¿CUÁNTO DINERO TENGO?

_____ EUROS _____ CÉNTIMOS

_____ EUROS _____ CÉNTIMOS

_____ EUROS _____ CÉNTIMOS

LIVEWORKSHEETS

TIPOS DE RECTAS

Paralelas – secantes - perpendiculares

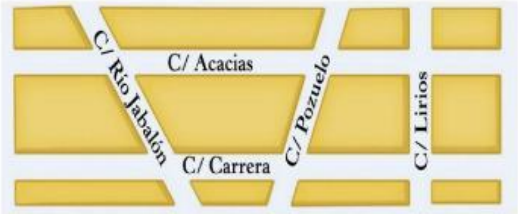

C/ Pozuelo y C/ Carrera **son**

C/ Acacias y C/ Carrera **son**

C/ Lirios y C/ Río Jabalón **son**

C/ París y C/ Londres son

C/ Berlín y C/ Lisboa son

C/ Roma y C/ Londres son

C/ Viena y C/ Roma son

Realiza las siguientes multiplicaciones

		423 × 7

		378 × 9

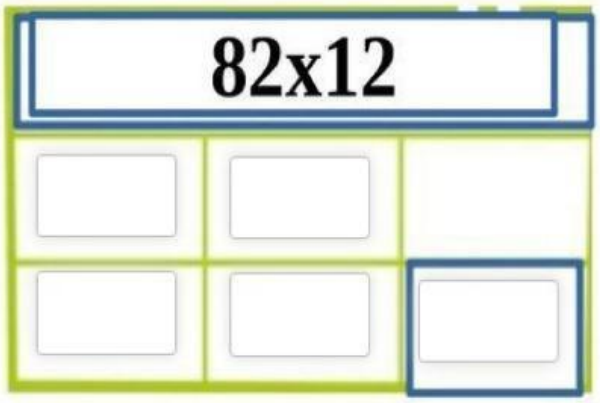

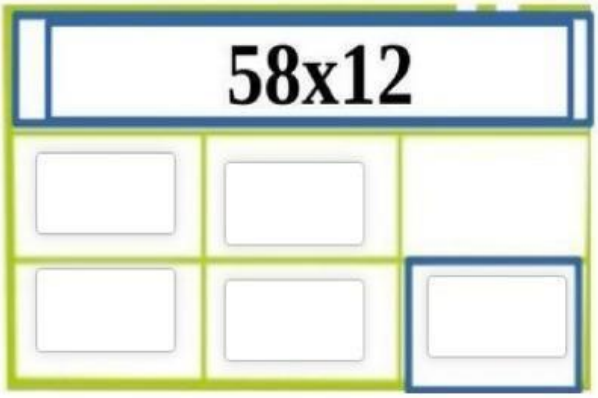

LIVEWORKSHEETS

PROBLEMA 1

EMMA tiene 450 euros y su hermana 124 euros ¿Cuanto dinero le tiene que pasar EMMA a su hermana para que se queden con la **misma cantidad**?		
EMMA **450**	**PASA**	**Hermana** **124**

RESUELVE

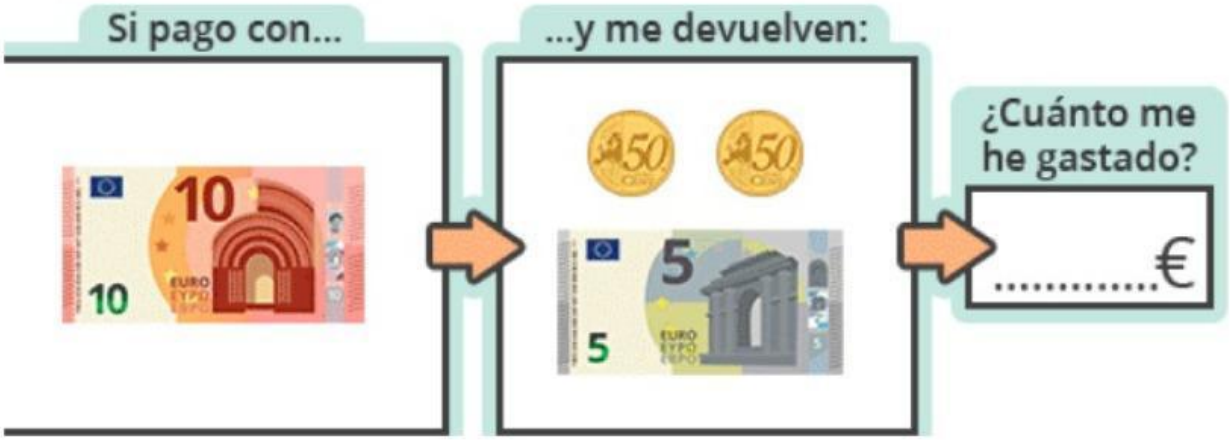

LIVEWORKSHEETS

PROBLEMA 2

EMMA tiene 256 euros y su hermana 86 euros ¿Cuanto dinero le tiene que pasar EMMA a su hermana para que se queden con la **misma cantidad**?		
EMMA **256**	**PASA**	**Hermana** **86**

RESUELVE

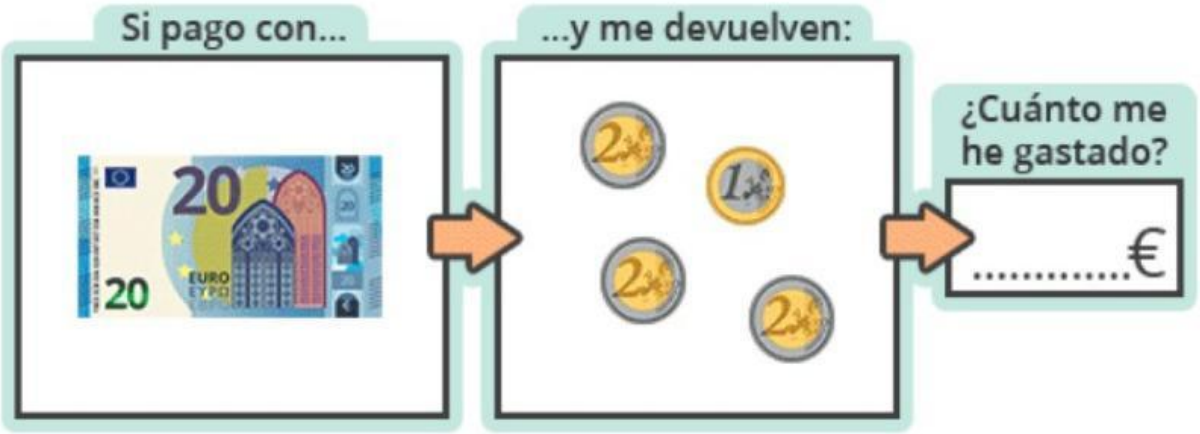

LIVEWORKSHEETS

ELABORA UNA TABLA CON LOS SIGUIENTES DATOS DE FRUTAS

limón	limón	sandía	melón	manzana
melón	manzana	toronja	limón	naranja
sandía	naranja	manzana	sandía	naranja
melón	limón	toronja	sandía	limón
limón	melón	naranja	naranja	sandía
toronja	sandía	melón	limón	naranja
sandía	naranja	limón	limón	melón

11						
10						
9						
8						
7						
6						
5						
4						
3						
2						
1						
0	**LIMÓN**	**NARANJA**	**TORONJA**	**MANZANA**	**SANDÍA**	**MELÓN**

RESUELVE

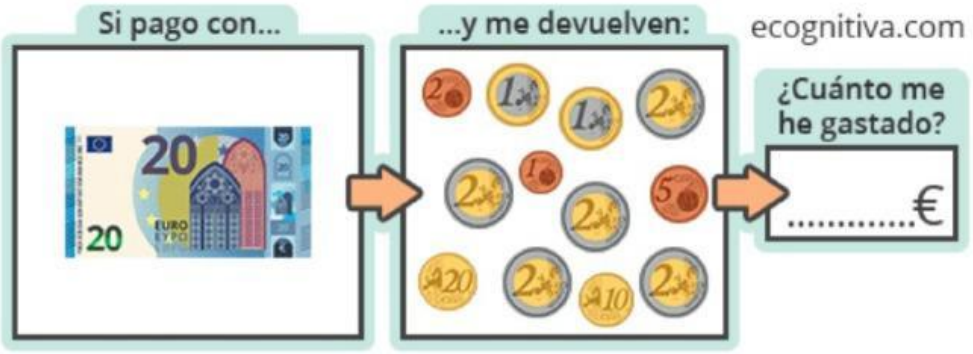

ELABORA UNA TABLA CON LOS SIGUIENTES JUGUETES

LIVEWORKSHEETS

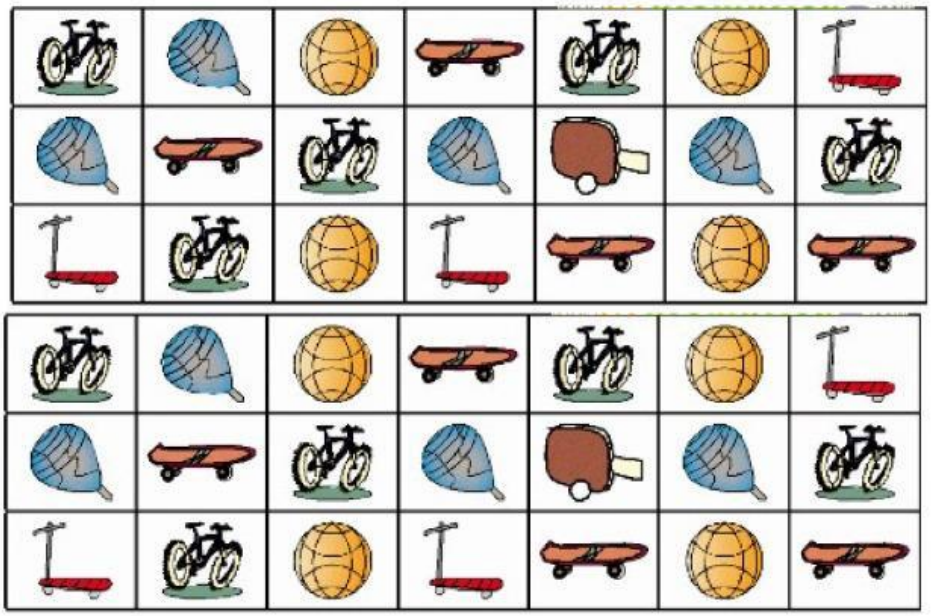

11						
10						
9						
8						
7						
6						
5						
4						
3						
2						
1						
0	BICICLETA	PEONZA	MONOPATÍN	PALA PING-PONG	PELOTA	PATINETE

Este diagrama de barras muestra el número de alumnos que hay en las cuatro clases de tercero. Responde a las preguntas y completa las oraciones.

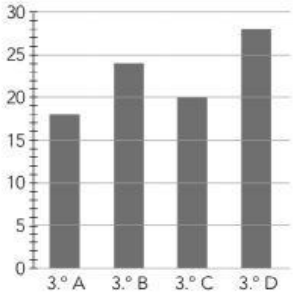

a) ¿Cuántos alumnos hay en 3.º B? .....

b) ¿Cuántos alumnos hay en 3.º C? .....

c) ¿En qué clase hay más alumnos? .....

d) ¿En qué clase hay menos alumnos? .....

e) En la clase de 3ºA hay ..... alumnos menos que en la clase de 3ºD.

LIVEWORKSHEETS