الاسم: ..... الصف: .....

نشاط علاجي: الكسور بوصفها أجزاء من الكل

تذكر عند كتابة الكسر :

البسط ← الأجزاء الملونة

المقام ← جميع الأجزاء

س١: صل كل تمثيل بالكسر الذي يعبر عن الجزء المظلل:

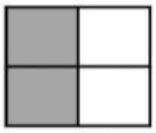

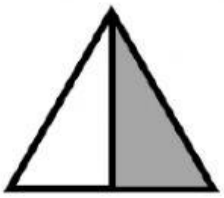

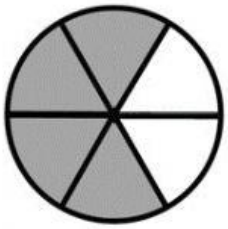

$\frac{١}{٢}$

$\frac{٢}{٤}$

$\frac{٤}{٦}$

$\frac{٣}{٤}$

$\frac{١}{٣}$

قم بتصوير إجابتك وضعها في ملف الأنشطة العلاجية

إعداد : أ.معصومة الخياط

منسقة المادة : أ. فاطمة مكي

المديرة المساعدة : أ. مريم العثمان

مديرة المدرسة : أ. هالة المران

LIVEWORKSHEETS