PRACTICA CALIFICADA N°2 -

DISTANCIA Y DESPLAZAMIENTO

I. Desarrolla en tu cuaderno los siguientes ejercicios y marca en este aplicativo la respuesta correcta correspondiente a la distancia y desplazamiento correspondiente.

1. Una hormiguita describe el siguiente recorrido, parte de A y llega a B y posteriormente regresa al punto A, pero su regreso lo hace en línea recta. ¿Cuál será la distancia y el desplazamiento realizada por esta hormiga?

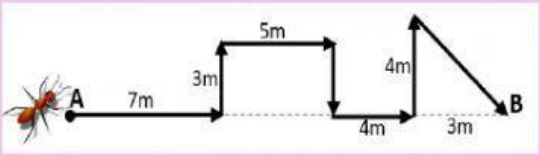

   a) 27m – 19m
   b) 29m – 14m
   c) 31m – 19m
   d) 31m – 14m

2. Una persona realiza una caminata de A hacia B como se muestra en la figura. Calcular la distancia recorrida y el valor del desplazamiento.

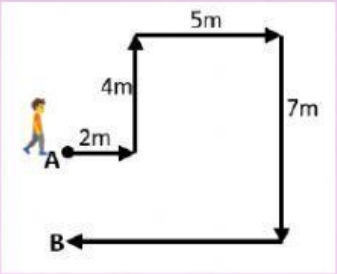

   a) 25m – 7m
   b) 23m – 7m
   c) 25m – 4m
   d) 25m – 3m

3. Daniela, desea realizar ejercicios y recorre el parque que tiene frente a su casa y le da dos vueltas y media, partiendo del lado que muestra la imagen. ¿Cuál es la distancia y el desplazamiento realizado por Daniela?

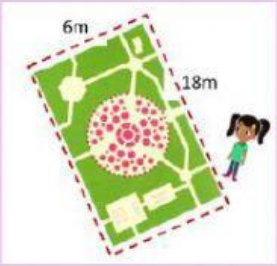

   a) 72m – 19m
   b) 120m – 24m
   c) 120m – 19m
   d) 72m – 24m

4. Observa la siguiente imagen, que demuestra el recorrido realizado por Valeria antes de llegar al colegio.

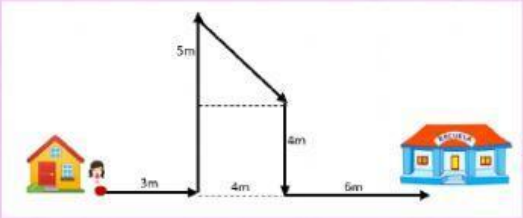

   a) 28m – 13m
   b) 26m – 13m
   c) 26m – 0m
   d) 28m – 0m

LIVEWORKSHEETS