Recuerda

En la recta entera, los números enteros negativos se representan a la izquierda del 0 y los números enteros positivos, a la derecha del 0.

1. Completa la recta entera con los números que faltan.

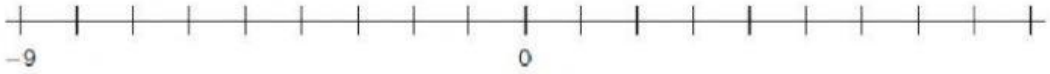

2. Escribe los números que representa cada letra.

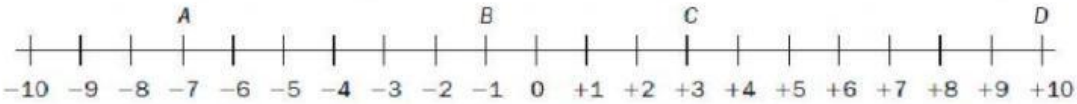

- *A* = _____
- *B* = _____
- *C* = _____
- *D* = _____

3. Representa en la recta entera los siguientes números.

+1 | −4 | +7 | −9 | −3 | +2

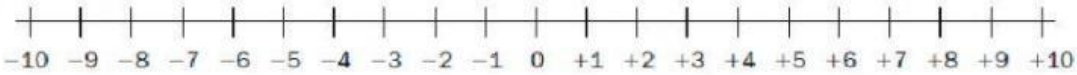

4. En cada caso, escribe el número anterior y posterior.

_____	+2	_____	_____	−1	_____
_____	+4	_____	_____	−3	_____
_____	+6	_____	_____	−5	_____
_____	+8	_____	_____	−7	_____

liveworksheets.com

LIVEWORKSHEETS