AKTIVITAS 1

1. Nilai pecahan daerah biru adalah ...

2. Gambar pecahan 3/5 yang benar adalah ...

a.

b. 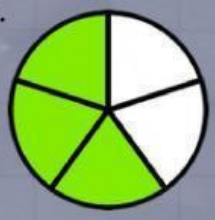

c.

d. 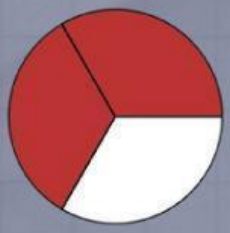

3. Ibu memasang 3/8 m tali untuk menjemur pakaian. Kemudia memasang kembali 2/8 m. Panjang seluruh tali adalah ....

4. Ibu membeli 8/10 bagian buah semangka. Lalu ibu memberikan 5/10 bagian pada anaknya. Bagian yang tersisa adalah ...

5. Dio memiliki 4/8 bagian kue. Dina memiliki 7/8 bagian kue. Dodit memiliki 5/8 bagian kue. Kalimat yang tepat untuk membandingkan besarnya kue adalah ...

a. kue Dio lebih besar dari kue Dodit

b. kue Dodit lebih kecil dari kue Dina

c. kue Dio dan Dodit sama besar

d. kue Dina lebih kecil dari kue Dio

6. 

Pecahan disamping senilai dengan ...

a.

b.

c.

d.

LIVEWORKSHEETS