ใบงานที่ 1

เรื่อง ความเท่ากันทุกประการ

ชื่อ ..... ชั้น ..... เลขที่ .....

คำชี้แจง ให้นักเรียนอ่านโจทย์แต่ละข้อต่อไปนี้ แล้วดำเนินการตามที่ระบุ

1. ให้นักเรียนเติมข้อความลงในช่องว่างให้สมบูรณ์

1) รูปสองรูปเท่ากันทุกประการ ก็ต่อเมื่อ.....

2) ส่วนของเส้นตรงสองเส้นจะเท่ากันทุกประการ ก็ต่อเมื่อ

.....

3) มุมสองมุมจะเท่ากันทุกประการก็ต่อเมื่อ

.....

คำชี้แจง จงใช้กระดาษลอกลายลอกรูปแล้วนำไปซ้อนกัน เพื่อหาว่ารูปใดบ้างเท่ากันทุกประการ และใช้สัญลักษณ์ $\cong$ ในการเขียนคำตอบ ($\cong$ คือ สัญลักษณ์ความเท่ากันทุกประการ)

2. จงหาว่ารูปแต่ละข้อต่อไปนี้รูปใดเท่ากันทุกประการ

1)

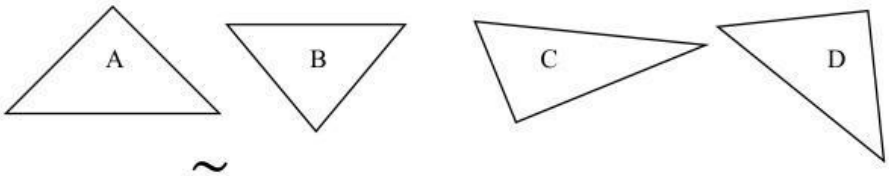

ตอบ ..... $\cong$ .....

2)

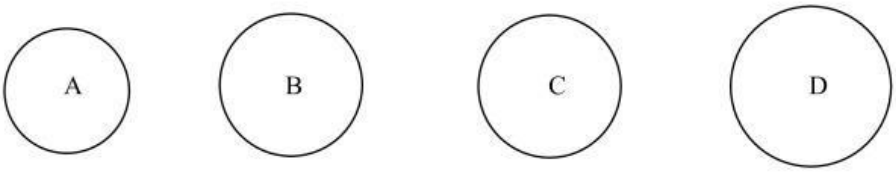

ตอบ ..... $\cong$ .....

LIVEWORKSHEETS

3) 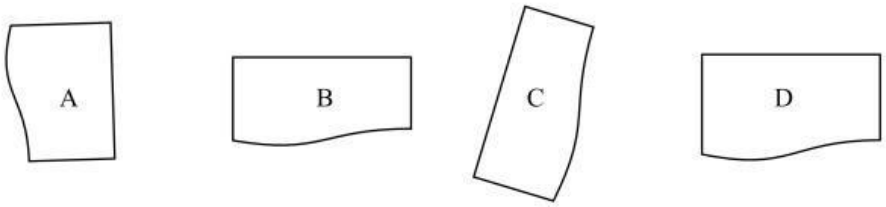

ตอบ ..... ≅ .....

4) 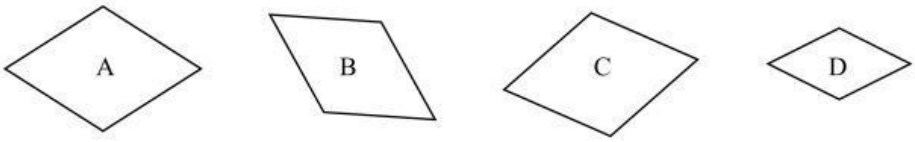

ตอบ ..... ≅ .....

5) 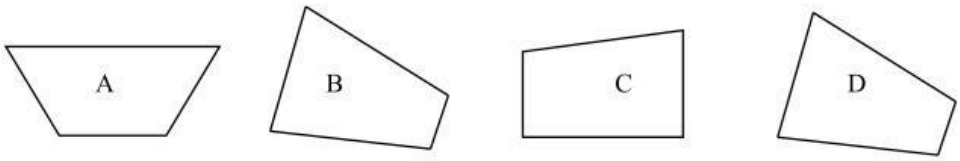

ตอบ ..... ≅ .....

6) 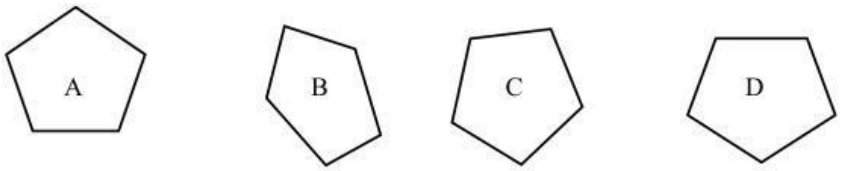

ตอบ ..... ≅ .....

LIVEWORKSHEETS