บทที่ 11 การวัดความยาว

คำชี้แจง ให้ทำเครื่องหมาย ✕ ทับตัวอักษรหน้าคำตอบที่ถูกต้องที่สุดเพียงคำตอบเดียว

จากรูป ตอบคำถามข้อ 1 – 5



1. เชือกเส้นใดยาวที่สุด

   ก. เส้นที่ 1

   ข. เส้นที่ 2

   ค. เส้นที่ 3

2. เชือกเส้นใดสั้นที่สุด

   ก. เส้นที่ 3

   ข. เส้นที่ 4

   ค. เส้นที่ 5

LIVEWORKSHEETS

3. เชือกเส้นใดยาวเท่ากัน

ก. 1 และ 2

ข. 1 และ 4

ค. 1 และ 3

4. เชือกเส้นที่ 3 สั้นกว่าเชือกเส้นใด

ก. เส้นที่ 4

ข. เส้นที่ 5

ค. เส้นที่ 2

5. เชือกเส้นใดยาวเป็นอันดับที่ 2

ก. เส้นที่ 3

ข. เส้นที่ 5

ค. เส้นที่ 1

จากรูป ตอบคำถามข้อ 6 – 10



สุนัข กวาง แม่ไก่ แมว

LIVEWORKSHEETS

6. สัตว์ชนิดใดสูงที่สุด

ก. แม่ไก่

ข. สุนัข

ค. กวาง

7. สัตว์ชนิดใดเตี้ยที่สุด

ก. แม่ไก่

ข. กวาง

ค. สุนัข

8. สัตว์ชนิดใดเตี้ยกว่าแมว

ก. แม่ไก่

ข. สุนัข

ค. แมว

9. สัตว์ชนิดใดเตี้ยกว่ากวาง แต่สูงกว่าแมว

ก. สุนัข

ข. แม่ไก่

ค. กวาง

10. สัตว์ชนิดใดสูงกว่าแม่ไก่ แต่เตี้ยกว่าสุนัข

ก. แมว

ข. กวาง

ค. แม่ไก่

LIVEWORKSHEETS

11. กำหนดให้ แทนความยาว 1 หน่วย

ไม้ไอศกรีมยาวกี่หน่วย

ก. 6 หน่วย

ข. 5 หน่วย

ค. 4 หน่วย

12. ข้อใดเป็นเครื่องมือวัดความยาวที่มีหน่วยมาตรฐาน

ก. เชือก

ข. แถบกระดาษ

ค. ไม้เมตร

13. ถ้านักเรียนต้องการวัดความยาวของดินสอ โดยใช้เครื่องมือวัดที่มีหน่วยมาตรฐาน ควรใช้เครื่องมือชนิดใดจึงจะเหมาะสม

ก. ไม้บรรทัด

ข. คีบของนักเรียน

ค. ไม้เมตร

14. เชือก 1 เมตร ยาวกี่เซนติเมตร

ก. 10 เซนติเมตร

ข. 100 เซนติเมตร

ค. 1,000 เซนติเมตร

LIVEWORKSHEETS

15. กำหนดให้ ▭ แทนความยาว 1 หน่วย

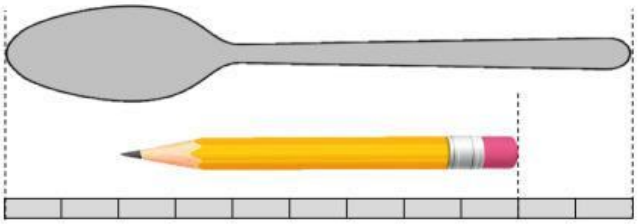

ดินสอสั้นกว่าช้อนกี่หน่วย

ก. 6 หน่วย

ข. 5 หน่วย

ค. 4 หน่วย

16. ดินสอยาวกี่

ก. 5

ข. 6

ค. 7

17. ตึกสูงกี่



ก. 6

ข. 7

ค. 8

LIVEWORKSHEETS

กำหนด แทนความยาว 1 หน่วย ตอบคำถามข้อ 18 – 20

18. กล่องสูงกี่หน่วย

ก. 1 หน่วย

ข. 2 หน่วย

ค. 3 หน่วย

19. ส้อมยาวกี่หน่วย

ก. 1 หน่วย

ข. 2 หน่วย

ค. 3 หน่วย

20. เข็มขัดยาวกี่หน่วย

ก. 6 หน่วย

ข. 5 หน่วย

ค. 7 หน่วย

LIVEWORKSHEETS