ใบงานที่ 4 เรื่อง การเขียนผังงาน

ชื่อ.....ชั้น.....เลขที่.....

คำสั่ง จงแสดงขั้นตอนการจำลองความคิดตามเงื่อนไขที่โจทย์กำหนด

1. จงพิจารณาข้อความแสดงขั้นตอนการจำลองความคิดข้างล่างด้านซ้ายมือ แล้วนำมาเขียนให้เรียงลำดับเป็นขั้นตอนที่ถูกต้องในช่องว่างด้านขวามือ

เริ่มต้น	.....
จบ	.....
รับประทาน	.....
ต้มน้ำให้เดือด	.....
ต้มประมาณ 1 นาที	.....
ใส่เครื่องปรุงแล้วยกภาชนะลงจากเตา	.....
ใส่บะหมี่ลงในน้ำเดือด	.....

จากขั้นตอนการแก้ปัญหาข้างต้น ถ้ากำหนดผังงานดังรูปด้านล่าง จงนำข้อความด้านบนมาเติมลงในสัญลักษณ์แต่ละรูป

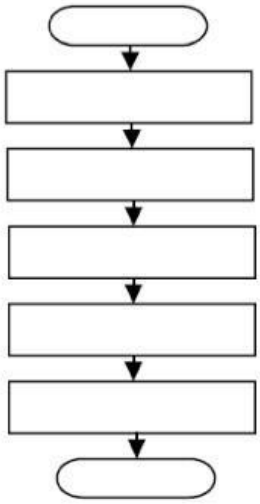

จงตอบคำถามต่อไปนี้

1) การจำลองความคิดข้างต้นเป็นทำงานแก้ปัญหาในเรื่องใด.....

2) ลักษณะการทำงานข้างต้น มีรูปแบบการทำงานของโปรแกรมโครงสร้างแบบ.....

LIVEWORKSHEETS

2. จงพิจารณาข้อความแสดงขั้นตอนการจำลองความคิดข้างล่างด้านซ้ายมือ แล้วนำมาเขียนให้เรียงลำดับเป็นขั้นตอนที่ถูกต้องในช่องว่างด้านขวามือ

เริ่มต้น	.....
จบ	.....
ง่วงใช่ไหม	.....
อาบน้ำแต่งตัว	.....
ถ้าง่วง นอนต่ออีก 10 นาที	.....
ตื่นนอน	.....
ไปโรงเรียน	.....

จากขั้นตอนการแก้ปัญหาข้างต้นถ้ากำหนดผังงานดังรูปด้านล่าง จงนำข้อความด้านบนมาเติมลงในสัญลักษณ์แต่ละรูป

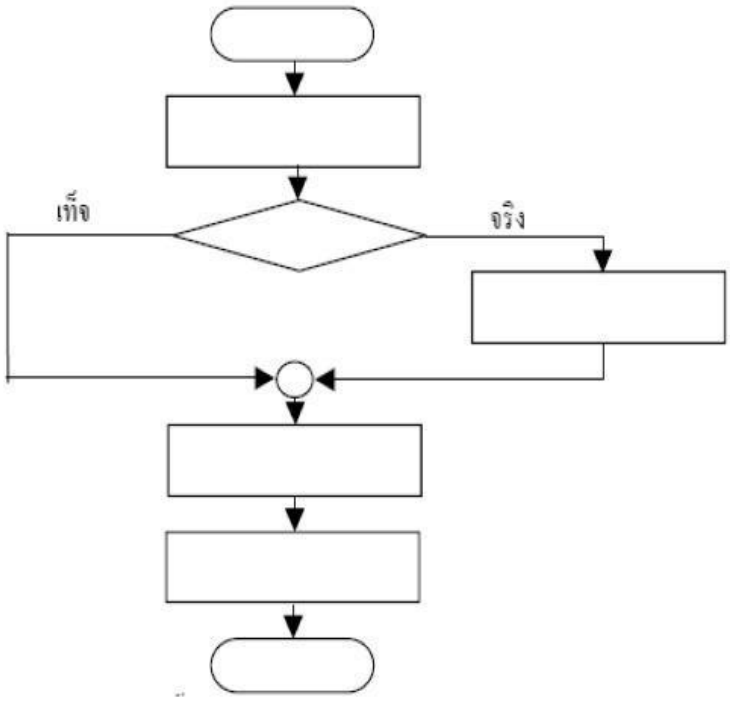

จงตอบคำถามต่อไปนี้

1) การจำลองความคิดข้างต้นเป็นทำงานแก้ปัญหาในเรื่องใด.....

2) ลักษณะการทำงานข้างต้น มีรูปแบบการทำงานของโปรแกรมโครงสร้างแบบ.....

LIVEWORKSHEETS

3. จงพิจารณาข้อความแสดงขั้นตอนการจำลองความคิดข้างล่างด้านซ้ายมือ แล้วนำมาเขียนให้เรียงลำดับเป็นขั้นตอนที่ถูกต้องในช่องว่างด้านขวามือ

เริ่มต้น	.....
จบ	.....
ซักเสื้อผ้า	.....
ฝนตกหรือไม่	.....
ถ้าฝนไม่ตก ออกไปดูภาพยนตร์	.....
ถ้าฝนตก อยู่บ้านอ่านหนังสือ	.....

จากขั้นตอนการแก้ปัญหาข้างต้นถ้ากำหนดผังงานดังรูปด้านล่าง จงนำข้อความด้านบนมาเติมลงในสัญลักษณ์แต่ละรูป

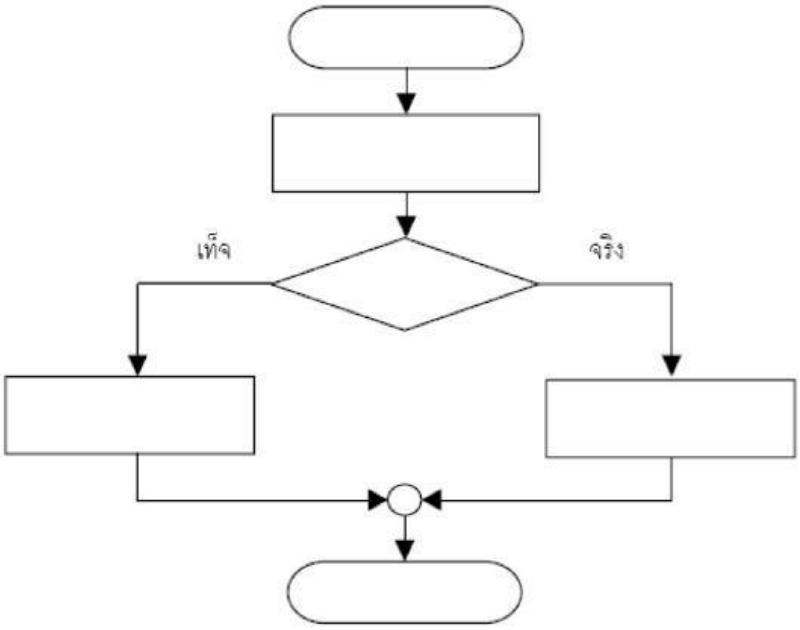

จงตอบคำถามต่อไปนี้

1) การจำลองความคิดข้างต้นเป็นทำงานแก้ปัญหาในเรื่องใด.....

2) ลักษณะการทำงานข้างต้น มีรูปแบบการทำงานของโปรแกรมโครงสร้างแบบ.....

LIVEWORKSHEETS

4. จงพิจารณาข้อความแสดงขั้นตอนการจำลองความคิดข้างล่างด้านซ้ายมือ แล้วนำมาเขียนให้เรียงลำดับเป็นขั้นตอนที่ถูกต้องในช่องว่างด้านขวามือ

เริ่มต้น	.....
จบ	.....
มีเงิน > 15 บาท แต่ < 20 บาท กินก๋วยเตี๋ยว	.....
มีเงิน > 20 บาท แต่ < 25 บาท กินข้าวราดกับข้าว 2อย่าง	.....
มีเงิน 20 บาท กินข้าวราดกับข้าว 1 อย่าง	.....
มีเงินอยู่เท่าไร	.....
มีเงิน 25 บาทขึ้นไป กินข้าวราดกับข้าว 2 อย่าง และขนมหวาน	.....

จากขั้นตอนการแก้ปัญหาข้างต้นถ้ากำหนดผังงานดังรูปด้านล่าง จงนำข้อความจากข้อ 1 มาเติมลงในสัญลักษณ์แต่ละรูป

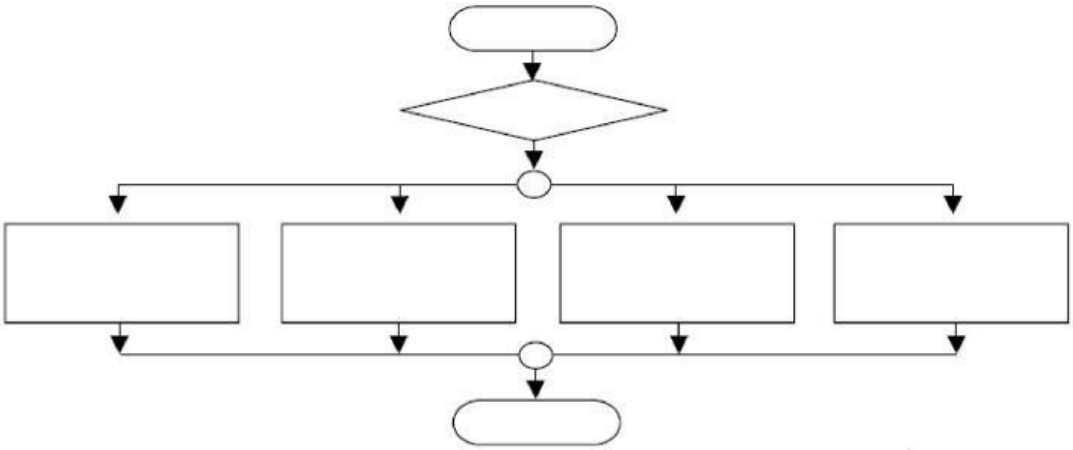

จงตอบคำถามต่อไปนี้

1) การจำลองความคิดข้างต้นเป็นทำงานแก้ปัญหาในเรื่องใด.....

2) ลักษณะการทำงานข้างต้น มีรูปแบบการทำงานของโปรแกรมโครงสร้างแบบ.....

LIVEWORKSHEETS

5. จงพิจารณาข้อความแสดงขั้นตอนการจำลองความคิดข้างล่างด้านซ้ายมือ แล้วนำมาเขียนให้เรียงลำดับเป็นขั้นตอนที่ถูกต้องในช่องว่างด้านขวามือ

เริ่มต้น	.....
จบ	.....
ดูผลการสอบ	.....
เรียนซ่อมเสริม	.....
สอบไม่ผ่าน	.....
รอผลการสอบซ่อม	.....
สอบซ่อม	.....
ดูประกาศผลสอบซ่อม	.....

จากขั้นตอนการแก้ปัญหาข้างต้นถ้ากำหนดผังงานดังรูปด้านล่าง จงนำข้อความจากข้อ 1 มาเติมลงในสัญลักษณ์แต่ละรูป

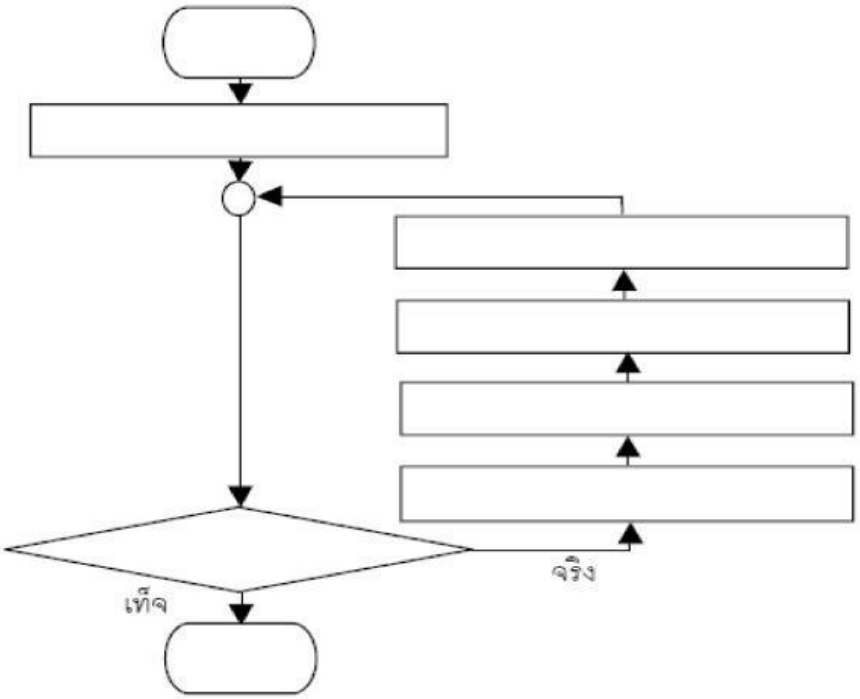

จงตอบคำถามต่อไปนี้

1) การจำลองความคิดข้างต้นเป็นทำงานแก้ปัญหาในเรื่องใด.....

2) ลักษณะการทำงานข้างต้น มีรูปแบบการทำงานของโปรแกรมโครงสร้างแบบ.....

LIVEWORKSHEETS

6. จงพิจารณาข้อความแสดงขั้นตอนการจำลองความคิดข้างล่างด้านซ้ายมือ แล้วนำมาเขียนให้เรียงลำดับเป็นขั้นตอนที่ถูกต้องในช่องว่างด้านขวามือ

เริ่มต้น	.....
จบ	.....
ครูให้นักเรียนทำแบบฝึกหัด	.....
สอนเรื่องใหม่	.....
ครูอธิบายการบวนเลข	.....
ตรวจสอบ นักเรียนส่วนใหญ่ทำถูก	.....
นักเรียนส่งแบบฝึกหัด	.....
ครูตรวจแบบฝึกหัด	.....

จากขั้นตอนการแก้ปัญหาข้างต้นถ้ากำหนดผังงานดังรูปด้านล่าง จงนำข้อความจากข้อ 1 มาเติมลงในสัญลักษณ์แต่ละรูป

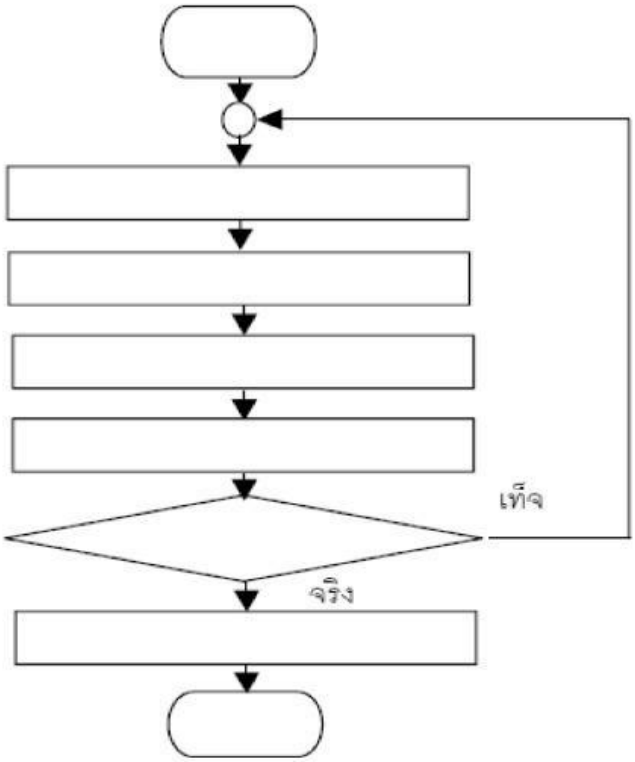

จงตอบคำถามต่อไปนี้

1) การจำลองความคิดข้างต้นเป็นทำงานแก้ปัญหาในเรื่องใด.....

2) ลักษณะการทำงานข้างต้น มีรูปแบบการทำงานของโปรแกรมโครงสร้างแบบ.....

LIVEWORKSHEETS