Tugas individu

Nama: _____ Kelas: 2 _____ Presensi: ____

LATIHAN SOAL MATEMATIKA MATERI BANGU RUANG

A. Perhatikan benda-benda di bawah!

DADU	
LEMARI	
ES KRIM	

KALENG	
ATAP RUMAH	
SEMANGKA	

Pilihan jawaban (tarik dan geser ke kotak yang sesuai di atas yang sesuai dengan gambar)!

Bola	Balok	Kerucut
Tabung	Prisma segitiga	Kubus

B. Perhatikan gambar di bawah ini dan tuliskan nama semua rusuk (ruas garis) dari bangu ruang di bawah ini!

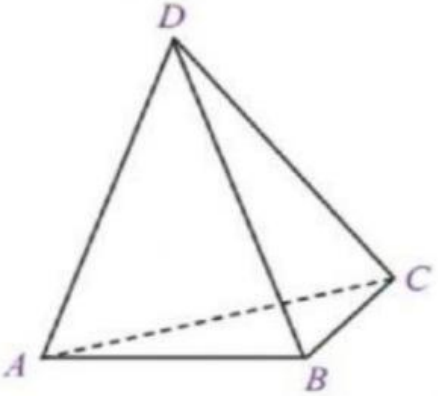

Jawab, pisahkan setiap rusuk dengan tanda koma (,)

C. Perhatikan gambar dan tentukan jumlah semua sisi, rusuk dan titik sudutnya !

1. 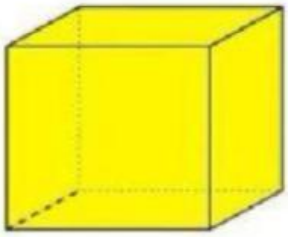

Sisi =
Rusuk =
Titik sudut =

2. 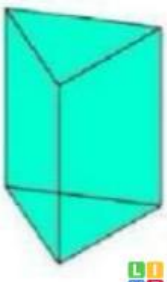

Sisi =
Rusuk =
Titik sudut =

LIVEWORKSHEETS