Resuelva las siguientes operaciones matemáticas.

4 + 5 = ☐

2 ÷ 2 = ☐

8 − 4 = ☐

6 × 6 = ☐

9 + 8 = ☐

10 − 5 = ☐

LIVEWORKSHEETS

Marca con una X la casilla con la respuesta correcta

¿Cuál es gato más pequeño el 1 o 2?



¿Cuál es la pera más grande el 1 o 2?





LIVEWORKSHEETS