Nama: Kelas:

MENGENAL BANGUN DATAR

Jawablah pertanyaan tentang bangun datar dibawah dengan benar dan tepat !

1



Nama bangun datar : _____

Banyak sisi : _____

Banyak titik sudut : _____

2

Nama bangun datar : _____

Banyak sisi : _____

Banyak titik sudut : _____

3

Nama bangun datar : _____

Banyak sisi : _____

Banyak titik sudut : _____

4

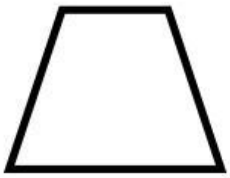

Nama bangun datar : _____

Banyak sisi : _____

Banyak titik sudut : _____

5



Nama bangun datar : _____

Banyak sisi : _____

Banyak titik sudut : _____

LIVEWORKSHEETS

NAMA:

NO.ABSEN:

KELAS:

TANGGAL:

BANGUN RUANG

Pasangkan gambar benda konkrit dengan gambar bangun ruang di bawah ini!

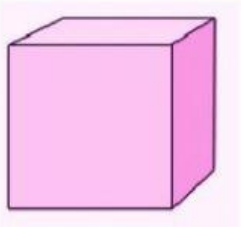

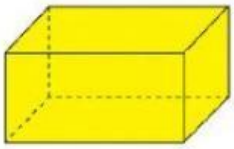

LIVEWORKSHEETS