1. Na figura está representada, em referencial cartesiano, a função
   a. Qual o domínio da função f?

   (A) [-2,5] (B) [-4,3] (C)]-4,3[(D)]-2,5[

   b. Qual o contradomínio da função f?

   (A) [-2,5] (B) [-4,3] (C)]-4,3[(D)]-2,5[

   c. Completa: $f(0) =$

   d. Completa: $f(\quad) = -4$

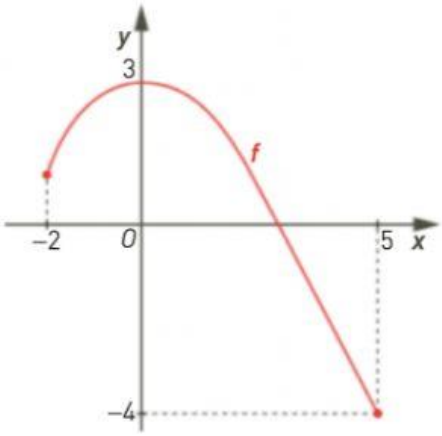

2. Na figura está representada, em referencial cartesiano, a função
   a. Qual o domínio da função f?

   b. Qual o contradomínio da função?

   c. Completa: $f(\quad) = 3$

   d. Completa: $f(4) =$

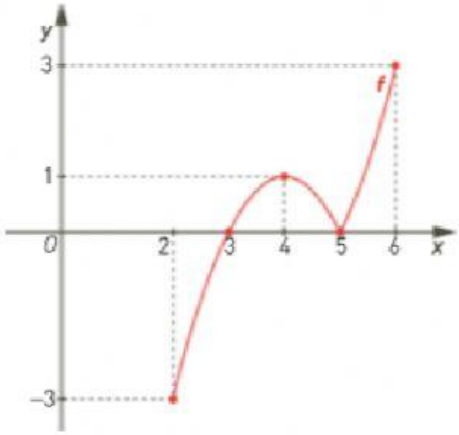

3. Na figura está representada, em referencial cartesiano, a função
   a. Qual o domínio da função f?

   (A) [-1,2] (B) [-2,4] (C) $\{-1,0,1,2\}$ (D) $\{-2,0,2,4\}$

   b. Qual o contradomínio da função?

   (A) [-1,2] (B) [-2,4] (C) $\{-1,0,1,2\}$ (D) $\{-2,0,2,4\}$

   c. Qual é a imagem de -1

   d. Qual o objecto que tem imagem 2

   e. Escreve uma expressão algébrica que permita determinar as imagens.

   $y =$

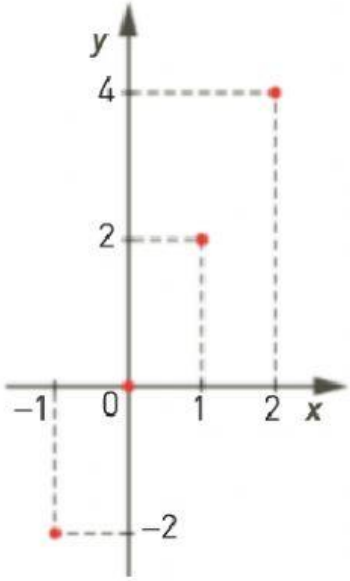

LIVEWORKSHEETS