Escuela Los Rastrojos
Matemática: 3° Básico
Profesor: José Silva Pinto

**Ficha de Matemática**

**Nombre**:_____ **Fecha**: _____

Lea y responda las siguientes preguntas:

1 El número **ochenta y cuatro** corresponde a:

A 48
B 84
C 804

2 El número representado con los cubos es:

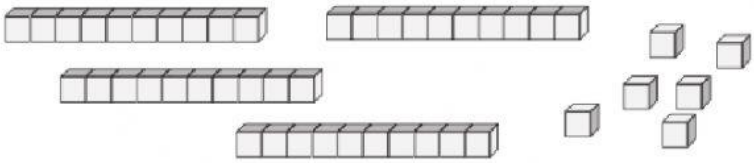

A 10
B 46
C 64

3 ¿Cuál es el número mayor?

A 75 B 49 C 57

4 El número **64** se puede representar como:

A 6 + 4 B 40 + 6 C 60 + 4

5 El valor del dígito encerrado en el recuadro es:

**8**9

A 8
B 80
C 89

6 El dígito encerrado en el recuadro del número 54 se puede representar como:

5**4**

A. 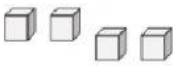

B. 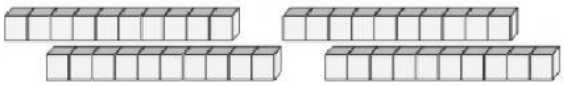

C.

7 Camila tiene 23 lápices de colores. Su mamá le regaló otros 12 lápices. ¿Cuántos lápices de colores tiene ahora Camila?

A 11 lápices de colores.
B 23 lápices de colores.
C 35 lápices de colores.

LIVEWORKSHEETS

8 Marco está pegando fotos en un álbum. El pegó 13 fotos el martes y otras fotos el miércoles. En total ha pegado 34 fotos en los dos días. ¿Cuántas fotos pegó el miércoles?

A 21 fotos.
B 34 fotos.
C 47 fotos.

9 Antonia formó correctamente una secuencia que parte de 50 y que va de 5 en 5 hacia atrás. ¿Cuál es la secuencia que formó Antonia?

| | | | | | |
|---|---|---|---|---|---|
| A. | 50 | 40 | 30 | 20 | 10 |
| B. | 50 | 45 | 40 | 35 | 30 |
| C. | 50 | 55 | 60 | 65 | 70 |

10 Observa la hoja de calendario:

¿Qué día de la semana corresponde al 12 de enero de 2013?

A Sábado.
B Domingo.
C Lunes.

| Enero 2013 | | | | | | |
|---|---|---|---|---|---|---|
| Lu | Ma | Mi | Ju | Vi | Sa | Do |
| | 1 | 2 | 3 | 4 | 5 | 6 |
| 7 | 8 | 9 | 10 | 11 | 12 | 13 |
| 14 | 15 | 16 | 17 | 18 | 19 | 20 |
| 21 | 22 | 23 | 24 | 25 | 26 | 27 |
| 28 | 29 | 30 | 31 | | | |

11 José llega a su casa justo antes que su mamá sirva el almuerzo. ¿Cuál de las siguientes horas puede corresponder a la llegada de José a su casa?

A 19 : 15 horas.
B 13 : 15 horas.
C 09 : 15 horas.

12 La figura que tiene **4 lados de igual medida y 4 vértices** es un:

A cuadrado B rectángulo C triángulo

13 Pablo guardó sus bolitas en estas cajas:

Para saber la cantidad total de bolitas, Pablo debe calcular:

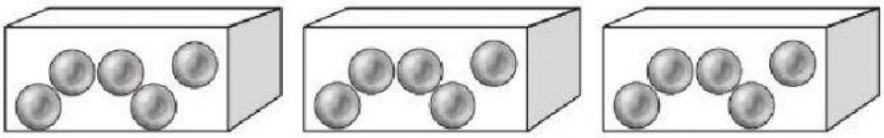

A 5 + 5 + 5
B 3 + 3 + 3
C 5 + 3

14 Observa los números de las tarjetas:
Ocupando el trío de números formado con TODAS las tarjetas, se puede escribir la suma y la resta:

A 9 + 2 = 11 y 11 – 7 = 4
B 7 + 2 = 9 y 9 – 7 = 2
C 2 + 5 = 7 y 9 – 4 = 5




LIVEWORKSHEETS