Lembar Kerja Peserta Didik

LKPD

PECAHAN
KELAS : III
MATA PPELAJARAN : MATEMATIKA

Nama : .....

Kelompok : .....

Anggota :

1.

2.

3.

4.

5.

TUJUAN PEMBELAJARAN

- Peserta didik mampu membandingkan dan mengurutkan berbagai pecahan sederhana dengan menggunakan benda konkret, gambar, simbol matematika serta letaknya pada garis bilangan.
- Peserta didik mampu mengubah pecahan biasa ke bentuk pecahan lain (pecahan senilai).

PETUNJUK PENGERJAAN

1. Isilah nama kelompok, dan anggota kelompok di lembar E-LKPD
2. Bacalah petunjuk di masing-masing Lembar yang ada di E-LKPD dengan teliti
3. Tanyakan pada guru jika ada bagian yang tidak dimengerti
4. Pastikan setiap anggota kelompok bekerja sama dalam menyelesaikan E-LKPD

LIVEWORKSHEETS

Pecahan pada Pizza

Tentukan nilai pecahan dari setiap bagian pizza dan tuliskan jawaban dari masing-masing pizza tersebut di dalam kotak yang disediakan!



$\frac{1}{8} = \frac{\square}{\square}$

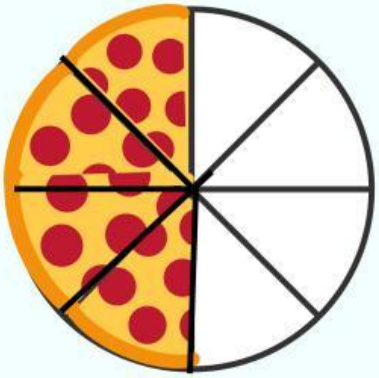



$\frac{\square}{\square} = \frac{\square}{\square}$





$\frac{\square}{\square} = \frac{\square}{\square}$

LIVEWORKSHEETS

Buatlah garis yang menghubungkan antara nilai pecahan dengan gambar yang melambangkan nilai pecahannya!

$\frac{1}{3}$

$\frac{2}{6}$

$\frac{1}{4}$

$\frac{1}{2}$

$\frac{1}{8}$



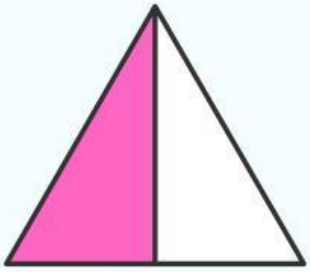

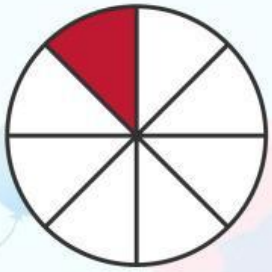

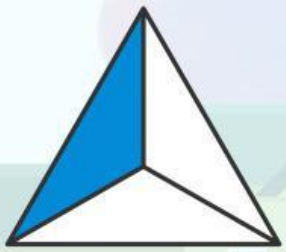

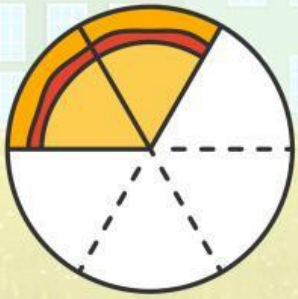

LIVEWORKSHEETS