Escuela Los Rastrojos
Matemática: 3° Básico
Profesor: José Silva Pinto

Ficha de Matemática

Nombre:_____ **Fecha**: _____

Lea y responda las siguientes preguntas:

1 El número **ochenta y cuatro** corresponde a:

A 48
B 84
C 804

2 El número representado con los cubos es:

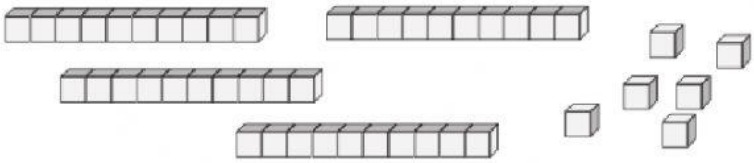

A 10
B 46
C 64

3 ¿Cuál es el número mayor?

A 75 B 49 C 57

4 El número **64** se puede representar como:

A 6 + 4 B 40 + 6 C 60 + 4

5 El valor del dígito encerrado en el recuadro es:

89

A 8
B 80
C 89

6 El dígito encerrado en el recuadro del número 54 se puede representar como:

5**4**

A. 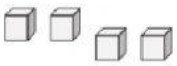

B. 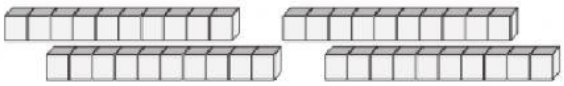

C.

7 Camila tiene 23 lápices de colores. Su mamá le regaló otros 12 lápices. ¿Cuántos lápices de colores tiene ahora Camila?

A 11 lápices de colores.
B 23 lápices de colores.
C 35 lápices de colores.

LIVEWORKSHEETS

8 Marco está pegando fotos en un álbum. El pegó 13 fotos el martes y otras fotos el miércoles. En total ha pegado 34 fotos en los dos días. ¿Cuántas fotos pegó el miércoles?

A 21 fotos.
B 34 fotos.
C 47 fotos.

9 Antonia formó correctamente una secuencia que parte de 50 y que va de 5 en 5 hacia atrás. ¿Cuál es la secuencia que formó Antonia?

A.	50	40	30	20	10
B.	50	45	40	35	30
C.	50	55	60	65	70

10 Observa la hoja de calendario:

¿Qué día de la semana corresponde al 12 de enero de 2013?

A Sábado.
B Domingo.
C Lunes.

Enero 2013						
Lu	Ma	Mi	Ju	Vi	Sa	Do
	1	2	3	4	5	6
7	8	9	10	11	12	13
14	15	16	17	18	19	20
21	22	23	24	25	26	27
28	29	30	31			

11 José llega a su casa justo antes que su mamá sirva el almuerzo. ¿Cuál de las siguientes horas puede corresponder a la llegada de José a su casa?

A 19 : 15 horas.
B 13 : 15 horas.
C 09 : 15 horas.

12 La figura que tiene **4 lados de igual medida y 4 vértices** es un:

A cuadrado B rectángulo C triángulo

13 Pablo guardó sus bolitas en estas cajas:

Para saber la cantidad total de bolitas, Pablo debe calcular:

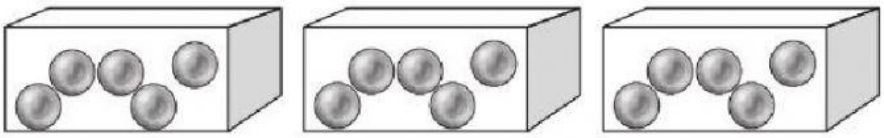

A 5 + 5 + 5
B 3 + 3 + 3
C 5 + 3

14 Observa los números de las tarjetas:
Ocupando el trío de números formado con TODAS las tarjetas, se puede escribir la suma y la resta:

A 9 + 2 = 11 y 11 – 7 = 4
B 7 + 2 = 9 y 9 – 7 = 2
C 2 + 5 = 7 y 9 – 4 = 5



LIVEWORKSHEETS