Nama :

Kelas :

LKPD

ARITMATIKA SOSIAL

Perhatikan video berikut ini

sumber : Youtube

LIVEWORKSHEETS

Perhatikan materi presentasi berikut

LIVEWORKSHEETS

LATIHAN SOAL



1. Pilihlah salah satu jawaban yang paling tepat
   - Arif membeli sepatu dengan harga Rp 329.000,00. kemudian sepatu tersebut dijual kepada saudaranya dan mengalami kerugian 2%. Harga penjualan sepatu adalah....

     A. 345.420,00

     B. 335.580,00

     C. 322.420,00

     D. 329.000,00
   - Meli membeli sepeda motor seharga Rp 10.000.000,00. Sepeda motor itu lalu di perbaiki dengan biaya Rp 800.000,00 lalu dijual lagi dan laku dengan harga Rp 10.500.000,00. Berapa persenkah kerugiannya?

     A. 2,55%

     B. 2,77%

     C. 3,22%

     D. 3,90%

LIVEWORKSHEETS

LATIHAN SOAL



2. Lengkapilah tabel berikut ini dengan jawaban yang benar !

No	Harga Beli	Harga Jual	Untung/ Rugi	Persentase Untung/Rugi
1.	100.000	160.000		
2.		100.000		Rugi = 25%
3.	150.000		Untung = 30.000	

LIVEWORKSHEETS

LATIHAN SOAL



3. Tentukan harga penjualan yang sesuai dengan cara menarik garis dari kolom harga pembelian dan persentase untung/rugi ke kolom harga penjualan!

Harga pembelian dan Persentase Untung/Rugi	Harga Penjualan
1. Harga Pembelian = Rp 280.000 Persentase Rugi = 8%	Rp 331.250
2. Harga Pembelian = Rp 250.000 Persentase Untung = 20%	Rp 242.250
3. Harga Pembelian = Rp 285.000 Persentase Rugi = 15%	Rp 300.000
4. Harga Pembelian = Rp 265.000 Persentase Untung = 25%	Rp 257.600

LIVEWORKSHEETS