ESCOLA LA GINESTA

Les notes musicals ens indiquen l'altura dels sons. Tenim set notes diferents: **do re mi fa sol la si**

Marta Truchart

1. Escriu el nom de les notes:

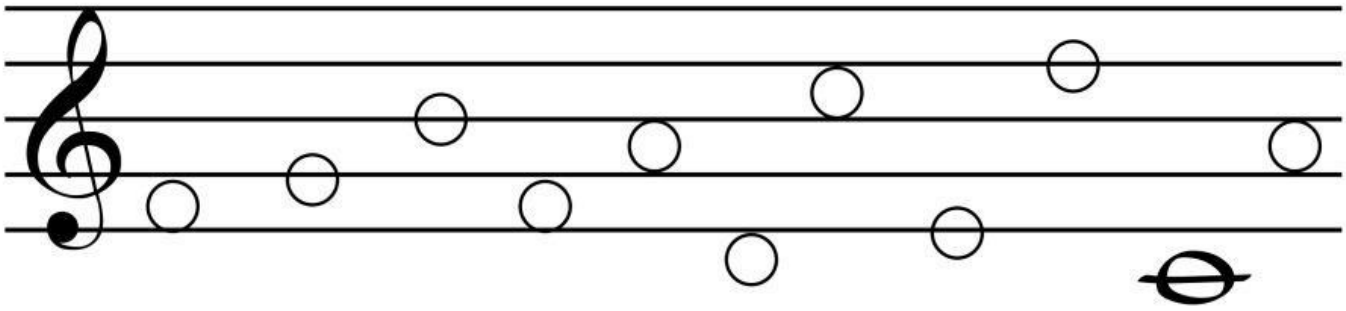

2. Relaciona la posició de les notes amb la seva digitació a la flauta:

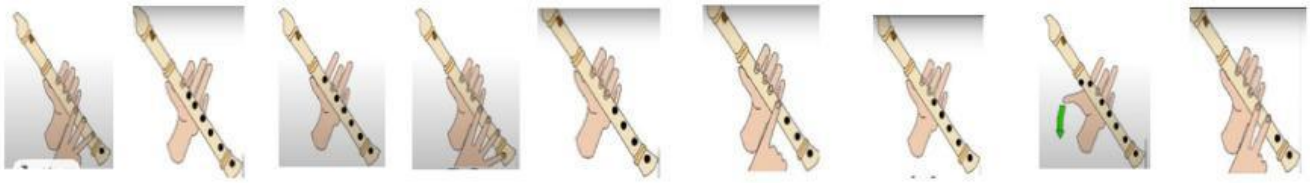

Les **figures rítmiques** ens indiquen la **durada** dels sons.
Les figures rítmiques són: **rodona, blanca, negra, corxera i semicorxera**.
Les figures consten de tres parts: cap, plica i corxet.

3. Arrossega les figures i el nombre de pulsacions que dura i posa el nom a la següent taula:

NOM FIGURA	.....	.....	.....	.....	.....
FIGURA					
NOMBRE DE PULSACIONS	4		1		
SILENCI					

LIVEWORKSHEETS

ESCOLA LA GINESTA

Quan diverses figures amb corxet estan seguides: unim els corxets.

El compàs 2/4 és un compàs binari: té dos temps. Figura temps: negra. Figura compàs: blanca.

El compàs 3/4 és un compàs ternari: té tres temps. Figura temps: negra. Figura compàs: blanca amb punt.

El compàs 4/4 és un compàs quaternari: té quatre temps. Figura temps: negra. Figura compàs: rodona.

4. Utilitza tantes figures com vulguis, sense repetir-ne cap, per crear els compasos que ens indica cada cas:



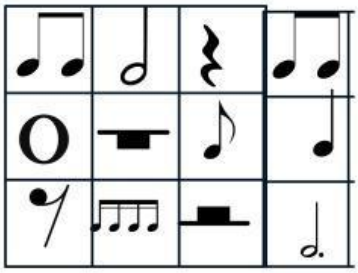





5. Fixa't en la següent melodia i respòn



- Quantes pulsacions té?
- Podries deduir-ne el compàs?

LIVEWORKSHEETS

El **puntet** és un signe de prolongació que allarga les figures amb **la meitat del seu valor.**

1. **Quant augmenta el puntet a una figura?**

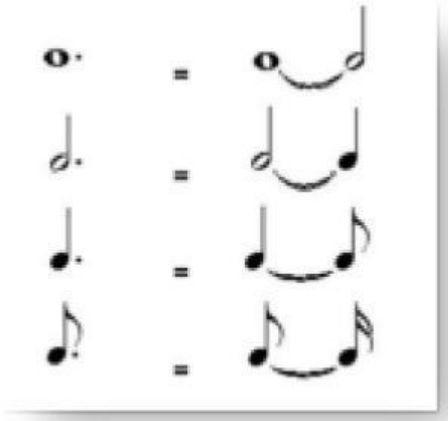

a) La meitat del seu valor
b) Mitja pulsació
c) Una pulsació i mitja

2. Quant val una blanca amb puntet?

a) 2,5 pulsacions
b) 3 pulsacions
c) 3,5 pulsacions

3. Quant val una negra amb puntet?

a) 1,5 pulsacions
b) 2 pulsacions
c) 2,5 pulsacions

4. Indica el valor total:

a) 10 pulsacions
b) 8 pulsacions
c) 9 pulsacions

5. Indica el valor total:

a) 2,5 pulsacions
b) 3,5 pulsacions
c) 4 pulsacions

6. Indica el valor total:

a) 6 pulsacions
b) 7 pulsacions
c) 7,5 pulsacions

7. Indica el valor total:

a) 6,5 pulsacions
b) 7 pulsacions
c) 7,5 pulsacions

LIVEWORKSHEETS

6. Escolta el següent audio i identifica el ritme. Quin ritme ha sonat?



1 2 3

LIVEWORKSHEETS