Lembar Kerja Peserta Didik

LKPD

KOMPOSISI BANGUN DATAR

Nama Kelompok: _____

Nama Angggota :

1. _____
2. _____
3. _____
4. _____
5. _____

LIVEWORKSHEETS

Tujuan Pembelajaran :

1. Peserta didik dapat menyusun komposisi beberapa bangun datar dengan tepat.
2. Peserta didik dapat menentukan banyaknya bangun datar yang dapat disusun menjadi satu bangun dengan tepat

Petunjuk Pengerjaan :

1. Bacalah instruksi sebelum mulai mengerjakan LKPD
2. Jawablah soal dengan tepat sesuai instruksi yang diberikan

Alokasi Waktu : 15 Menit

LIVEWORKSHEETS

Nama Kelompok : .....

Kelas : .....

Bangun Datar

Tuliskan nama bangun sesuai nomor yang diberikan.

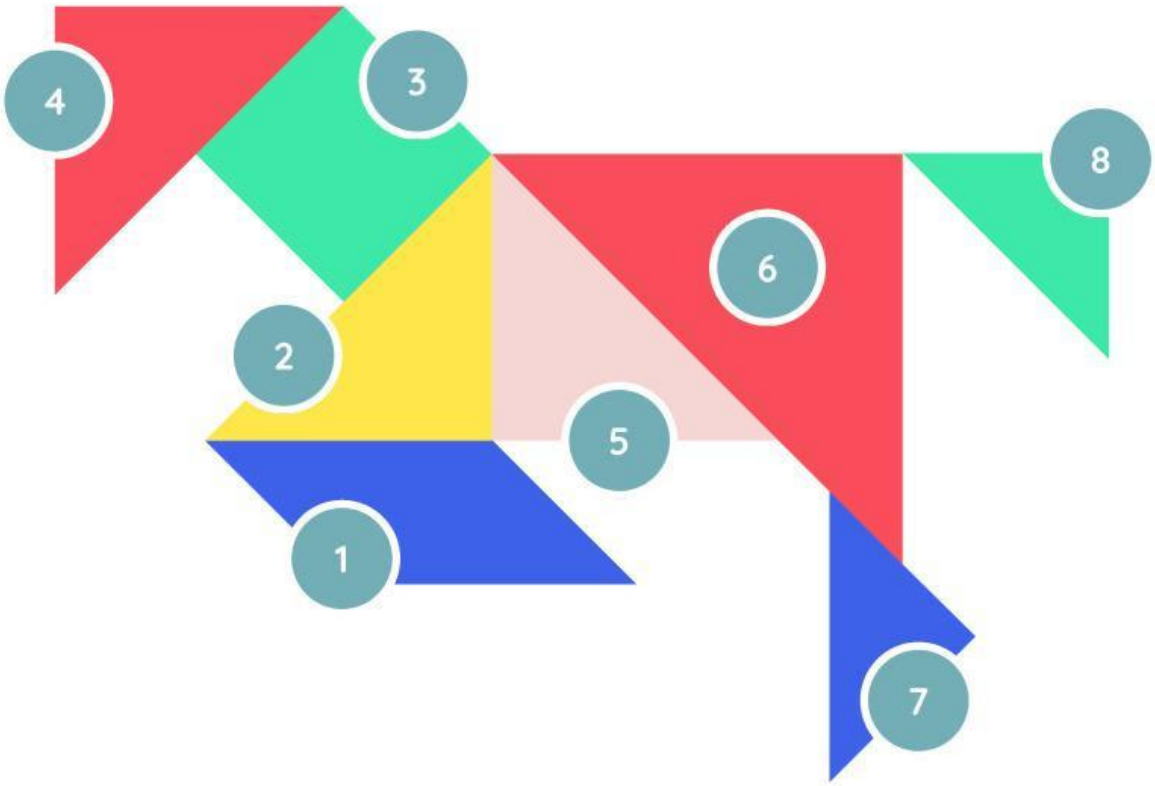

1 .....

2 .....

3 .....

4 .....

5 .....

6 .....

7 .....

8 .....

LIVEWORKSHEETS

Nama Kelompok :

Kelas:

Pasangkan Sesuai Dengan Bentuk!



LIVEWORKSHEETS

Nama Kelompok : Kelas :

Berilah tanda silang atau ceklis pada jawaban yang benar!

1

Komposisi yang sesuai dengan bangun tersebut adalah... .

A. 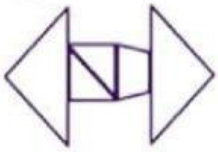

C. 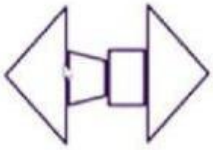

B. 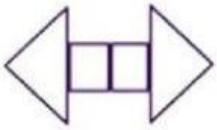

D. 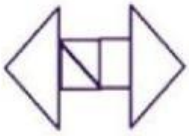

2 

Komposisi bangun datar yang sesuai dengan bangun tersebut adalah ....

A.

C. 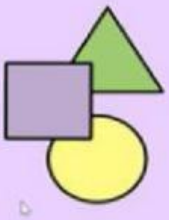

B. 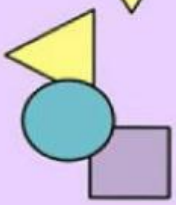

D. 

3

Komposisi bangun datar yang sesuai dengan bangun tersebut adalah... .

A.

C.

B.

D.

LIVEWORKSHEETS