Nama : Kelas :

TUGAS 1 - VULKANISME

Berikan keterangan pada gambar penampang gunung api dibawah ini!

1

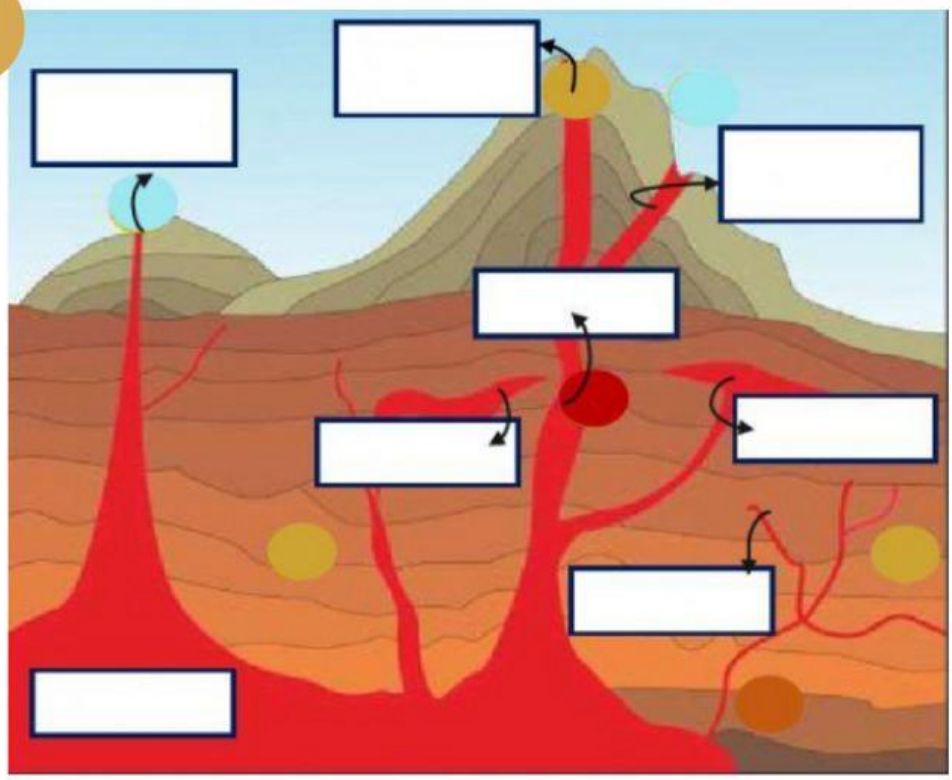

- LAKOLIT
- SILL
- BATOLIT
- APOFISA
- DIATERMA
- KAWAH SAMPING
- KAWAH UTAMA
- KERUCUT PARASIT

2 Berikan tanda ceklis pada ciri yang sesuai bentuk gunung api dibawah ini!

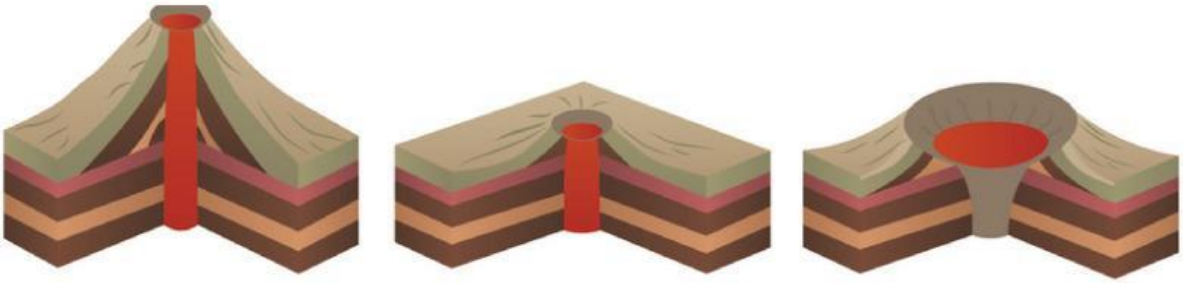

gunung api strato/kerucut	gunung api perisai	gunung api maar
☐ Letusan Eksplosif	☐ Letusan Eksplosif	☐ Letusan Eksplosif
☐ Letusan Efusif	☐ Letusan Efusif	☐ Letusan Efusif
☐ L. Eksplosif + Efusif	☐ L. Eksplosif + Efusif	☐ L. Eksplosif + Efusif
☐ Material Eflata	☐ Material Eflata	☐ Material Eflata

LIVEWORKSHEETS

☐ Material Lava Cair	☐ Material Lava Cair	☐ Material Lava Cair
☐ Material Padat Cair	☐ Material Padat Cair	☐ Material Padat Cair
☐ Bentuk Kerucut	☐ Bentuk Kerucut	☐ Bentuk Kerucut
☐ Bentuk Landai	☐ Bentuk Landai	☐ Bentuk Landai
☐ Bentuk Kawah	☐ Bentuk Kawah	☐ Bentuk Kawah

3 Tariklah garis antara gambar dengan tipe letusan yang sesuai!





Tipe Merapi

Tipe Hawaii

Tipe Pelle

Tipe Perret

Tipe Stromboli

LIVEWORKSHEETS

TUGAS 2- VULKANISME

Buatlah sebuah infografis di canva mengenai salah satu gunung api di Indonesia yang memuat :

a. Nama gunung api
b. Tipe gunung api
c. Tipe letusan gunung api
d. Sejarah letusan gunung api
e. Dampak positif dan negatif letusan gunung api
f. Mitigasi bencana

LIVEWORKSHEETS