Clasificación de triángulos

1. Une con flechas.

EQUILÁTERO	1 ángulo obtuso
RECTÁNGULO	2 lados iguales
OBTUSÁNGULO	3 lados iguales
ISÓSCELES	1 ángulo recto
ACUTÁNGULO	3 lados desiguales
ESCALENO	3 ángulos agudos

2. Observa las medidas de cada triángulo y selecciona su nombre según sus lados.

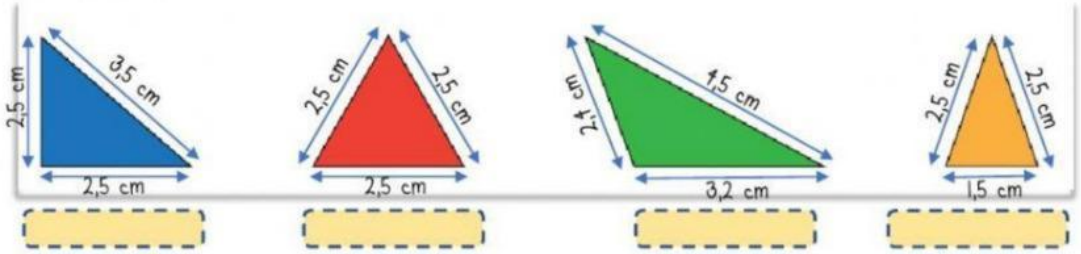

3. Observa los ángulos de cada triángulo y selecciona su nombre según sus ángulos.

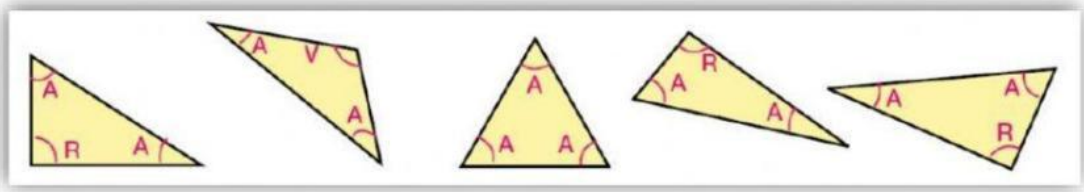

4. Observa los siguientes triángulos y marca con una X en las casillas correspondientes.



	EQUILÁTERO	ISÓSCELES	ESCALENO	RECTÁNGULO	ACUTÁNGULO	OBTUSÁNGULO
1						
2						
3						
4						

LIVEWORKSHEETS