MATEMÁTICAS

1.- Elige la operación que representa correctamente la siguiente cuadricula.

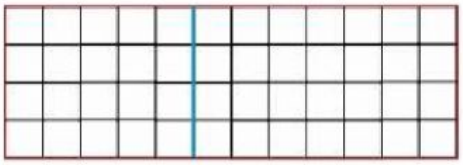

a) 4x12 = (4x5) + (4x7) = 48
b) 4x12 = (4x6) + (4x8) = 56
c) 4x12 = (4x4) + (4x6) = 40
d) 4x12 = (4x3) + (4x7) = 40

2.- Para la fiesta de Raúl, sus amigos le ayudarán a inflar 80 globos, Mario va a inflar 1/4, Pablo 2/10, Julio 2/8 y Héctor 4/12. ¿Quiénes inflarán la misma cantidad de globos?

a) Pablo y Héctor.
b) Mario y Julio.
c) Julio y Pablo.
d) Héctor y Mario.

3.- Juanita vende gelatinas de $8 y $10 pesos. Si el día de hoy vendió 9 gelatinas de $8 pesos y 16 gelatinas de $10 pesos. ¿Cuánto dinero obtuvo de sus ventas?

a) $218 pesos.
b) $232 pesos.
c) $332 pesos.
d) $318pesos.

4.- ¿Cuál de las siguientes fracciones son equivalentes?

a) 6/12 y 5/10
b) 9/10 y 5/9
c) 6/8 y 9/12
d) 3/12 y 4/3

5.- José está llenando bolsas de paletas para una fiesta de cumpleaños. En cada bolsa mete 8 paletas. Hasta este momento ha llenado 11 bolsas y aún quedan 12 paletas en el paquete. ¿Cuántas paletas había en el paquete?

a) 90 c) 100
b) 80 d) 110

6.- Para pagar la entrada al circo y comprar palomitas. Daniela y María van a cooperar con $65.50 cada una. Y Francisco y Javier con $69.50 cada uno. ¿Cuánto dinero van a reunir?

a) $135 c) $170
b) $270 d) $235

7.- ¿Cuál es el resultado de sumar las siguientes fracciones?

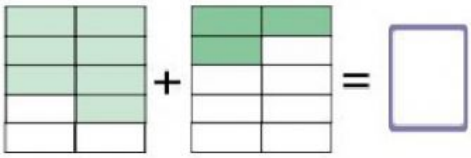

a) $\frac{10}{10}$ c) $\frac{7}{10}$
b) $\frac{3}{15}$ d) $\frac{8}{12}$

8.- El miércoles doña Ester vendió en la plaza 17 ramos de 12 rosas cada uno. ¿Cuántas rosas vendió?

a) 200 c) 204
b) 272 d) 174

LIVEWORKSHEETS

9.- En 4°B se llevó a cabo una votación para elegir al representante del grupo. La mitad votó por Evelyn y 1/3 por Darla. ¿Qué parte del grupo no votó?

a) 1/3
b) 2/3
c) 1/6
d) 2/6

10.- En la fiesta de Yamil se sirvió nieve de vainilla a todos los invitados. Después de repartir una porción a cada persona, sobraba 4/6. ¿Cuánta nieve tendrá que comprar la mamá de Yamil si ahora necesita completar 1 1/3 litros en total?

a) 8/6
b) 4/6
c) 2/3
d) 8/3

11.- Elige la operación que representa correctamente la siguiente cuadricula.

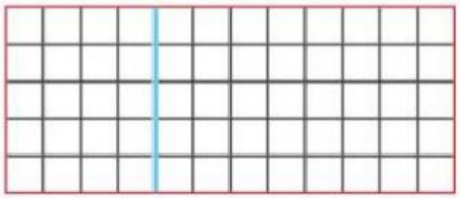

a) 5x12 = (5x5) + (5x7) = 60
b) 5x12 = (5x6) + (5x8) = 70
c) 5x12 = (5x4) + (5x8) = 60
d) 5x12 = (5x3) + (5x7) = 50

12.- ¿Cuál es la operación correcta de la siguiente resta de fracción gráfica?

a) 4/16 + 6/16 = 10/16
b) 1 + 3/6 = 1 3/6
c) 7/10 – 6/10 = 1/10
d) 6/9 – 5/9 = 1/9

Resuelve las siguientes multiplicaciones

13.-

3	**4**	**5**
x	**2**	**3**

14.-

8	**5**	**2**
x	**1**	**6**

15.-

9	**4**	**5**
x	**4**	**2**

LIVEWORKSHEETS

LIVEWORKSHEETS