(((الوحدة الأولى)))

ورقة عمل(٢) في مادة الرياضيات (من الدرس الأول إلى السادس) للصف الأول الأساسي

أضع دائرة حول العدد الدال على المجموعة:

		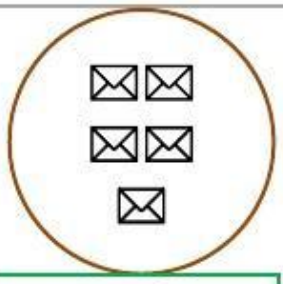	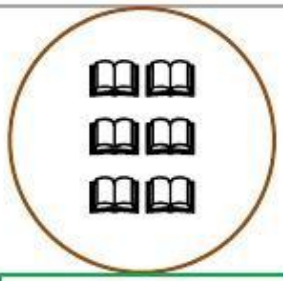
واحد – اثنان – ثلاثة	اثنان – ثلاثة – أربعة	ثلاثة – أربعة – خمسة	أربعة – خمسة – ستة

أرسم العناصر بقدر العدد المطلوب:

٤ ٢ ٥

أصل بين العدد و رمزه:

أربعة	١
واحد	٣
اثنان	٤
ثلاثة	٥
خمسة	٢

LIVEWORKSHEETS