Câu 1: Khẳng định nào sau đây ***đúng***:

Với các biểu thức không có dấu ngoặc, ta thực hiện theo thứ tự:

A) Lũy thừa -> Nhân, chia -> Cộng, trừ.
B) Lũy thừa -> Cộng, trừ -> Nhân, chia.
C) Nhân, chia -> Lũy thừa -> Cộng, trừ.
D) Cộng, trừ -> Nhân, chia -> Lũy thừa.

Câu 2: Số $\sqrt{25}$ có giá trị bằng:

A) - 5 B) 5 C) 25 D) - 25

Câu 3: Cho hình vẽ sau:

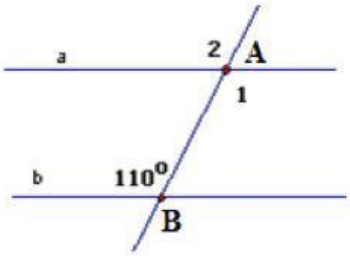

Biết a//b, số đo $\widehat{A_1}$ bằng:

A) 70^0. B) 110^0. C) 180^0.
D)360^0.

Câu 4: Cho hình vẽ sau:

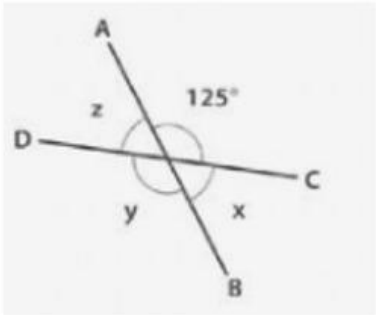

y có số đo bằng:

A) 125^0 B) 65^0 C) 180^0 D) 360^0

Câu 5: Số nào là số vô tỉ trong các số sau:

A) 17 B) -28. C) 2023. D) $\sqrt{37}$.

Câu 6: Tập hợp số hữu tỉ được kí hiệu là:

LIVEWORKSHEETS

A) Q. B) N. C) Z. D) I.

Câu 7: Số 2,76954 làm tròn đến hàng phần mười là:

A) -2,7. B) 2,7. C) -2,8. D) 2,8.

Câu 8: "***Qua một điểm ở ngoài một đường thẳng, chỉ có ... đường thẳng song song với đường thẳng đó".*** Từ còn thiếu trong dấu ... là:

A) Một. B) Hai. C) Ba. D) Bốn.

Câu 9: Kết quả của phép tính $(-3)^2.(-3)^5$ được viết dưới dạng lũy thừa là:

A) $(-3)^3$. B) $(-3)^6$. C) $(-3)^7$. D) $(-3)^{10}$.

Câu 10: Phần giả thiết của định lí **"Hai góc đối đỉnh thì bằng nhau"** là:

A) "Hai góc đối đỉnh".
B) "Hai góc đối đỉnh thì bằng nhau".
C) "Bằng nhau".
D) "Hai góc đối đỉnh thì *không bằng nhau*".

Biết BM là tia phân giác của góc ABC và góc ABC có số đo bằng 120^0. Vậy số đo góc ABM có số đo bằng:

A) 120^0. B) 100^0. C) 60^0. D) 50^0.

Câu 12: Cho hình vẽ sau:

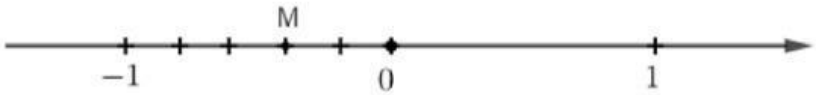

Điểm **M** biểu diễn số hữu tỉ nào sau đây:

A) $\frac{-1}{5}$.

B) $\frac{-2}{5}$. C) $\frac{-3}{5}$. D) $\frac{-4}{5}$.

LIVEWORKSHEETS