LKPD

Lembar Kerja Peserta Didik

JARINGAN EPITEL

Penyusun:
Selly Awalinda S
Fakultas Pendidikan Matematika dan IPA
Pendidikan Biologi
2024

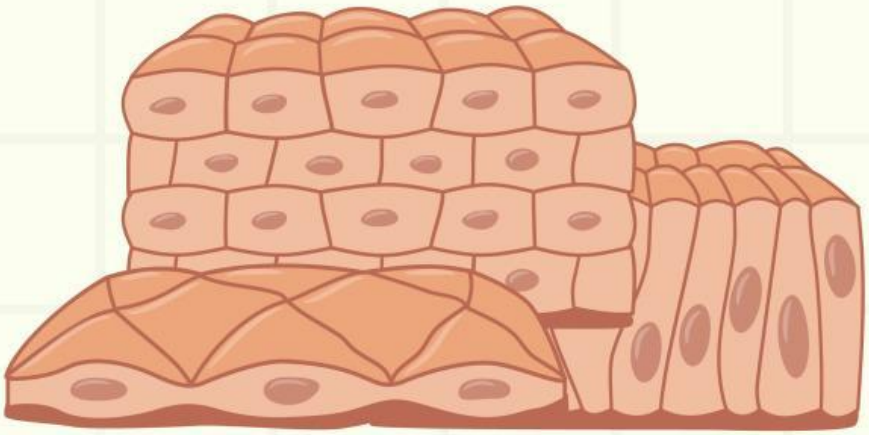

Nama:_____

Kelas:_____

LIVEWORKSHEETS

Tujuan

Setelah membaca e-LKPD ini, diharapkan peserta didik mampu mengetahui macam-macam, letak, dan fungsi dari jaringan epitel.

Petunjuk Penggunaan

1. Sebelum pengerjaan dimulai, peserta didik berdoa terlebih dahulu sesuai dengan kepercayaan masing-masing.
2. Peserta didik mengerjakan setiap aktivitas pada LKPD dengan cermat dan teliti.
3. Jika telah selesai mengerjakan, silahkan klik "**Finish",** pilih "**Email my answers to teacher"**, dan masukkan alamat e-mail berikut ini: **@sellyawalinda23.gmail.com**

Aktivitas 1. Mengenal Jaringan Epitel

Lengkapi paragraf dibawah ini dengan tepat!

Jaringan epitelium (epitel) adalah jaringan yang melapisi permukaan luar tubuh atau membatasi permukaan suatu rongga tubuh. Jaringan epitelium yang melapisi permukaan luar tubuh disebut ....., sedangkan jaringan epitelium yang membatasi permukaan suatu rongga tubuh disebut ..... . Sementara itu, jaringan epitelium yang membatasi organ dalam disebut ..... . Seluruh jaringan epitelium terletak pada suatu lamina basalis (lapisan membran basal) yang memisahkan epitelium dari jaringan di bawahnya, seperti jaringan ikat, pembuluh darah, dan jaringan saraf. Permukaan sel yang berhadapan dengan lumen disebut permukaan ....., sedangkan permukaan sel yang berhadapan dengan membran basal disebut permukaan ..... . Sementara itu, permukaan sel yang terletak di antara sel-sel disebut permukaan .....

LIVEWORKSHEETS

Aktivitas 2. Macam-macam Jaringan Epitel

Tarik garis untuk mencocokan klasifikasi jaringan epitel dibawah ini!

- Epitel Silindris Selapis

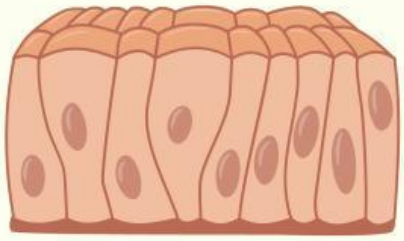

- Epitel Silindris Berlapis

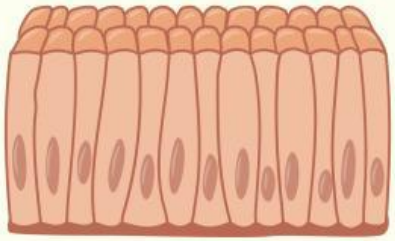

- Epitel Kubus Selapis

- Epitel Silindris Semu Selapis

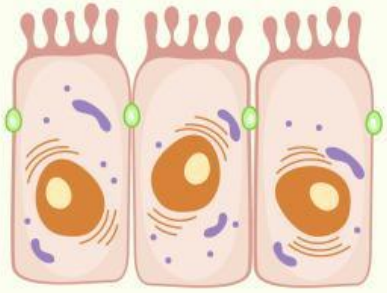

- Epitel Pipih Selapis

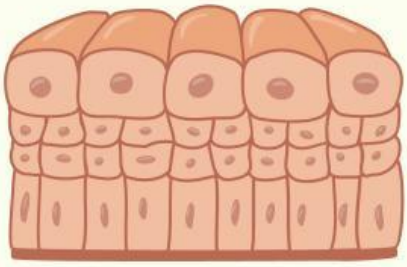

- Epitel Silindris Bersilia

LIVEWORKSHEETS

Aktivitas 3. Fungsi Jaringan Epitel

Tonton dan cermati video dibawah ini!

Setelah menonton video diatas, lengkapilah tabel fungsi dari macam-macam jaringan epitel dibawah ini dengan benar!

No	Jaringan Epitel	Fungsi
1.	Epitel pipih selapis	
2.	Epitel pipih berlapis	
3.	Epitel kubus selapis	
4.	Epitel kubus berlapis	
5.	Epitel slindris selapis	
6.	Epitel slindris bersilia	

LIVEWORKSHEETS

Aktivitas 4. Letak Jaringan Epitel

Pilihlah jawaban yang sesuai dengan letak jaringan epitel pada tubuh manusia berikut!

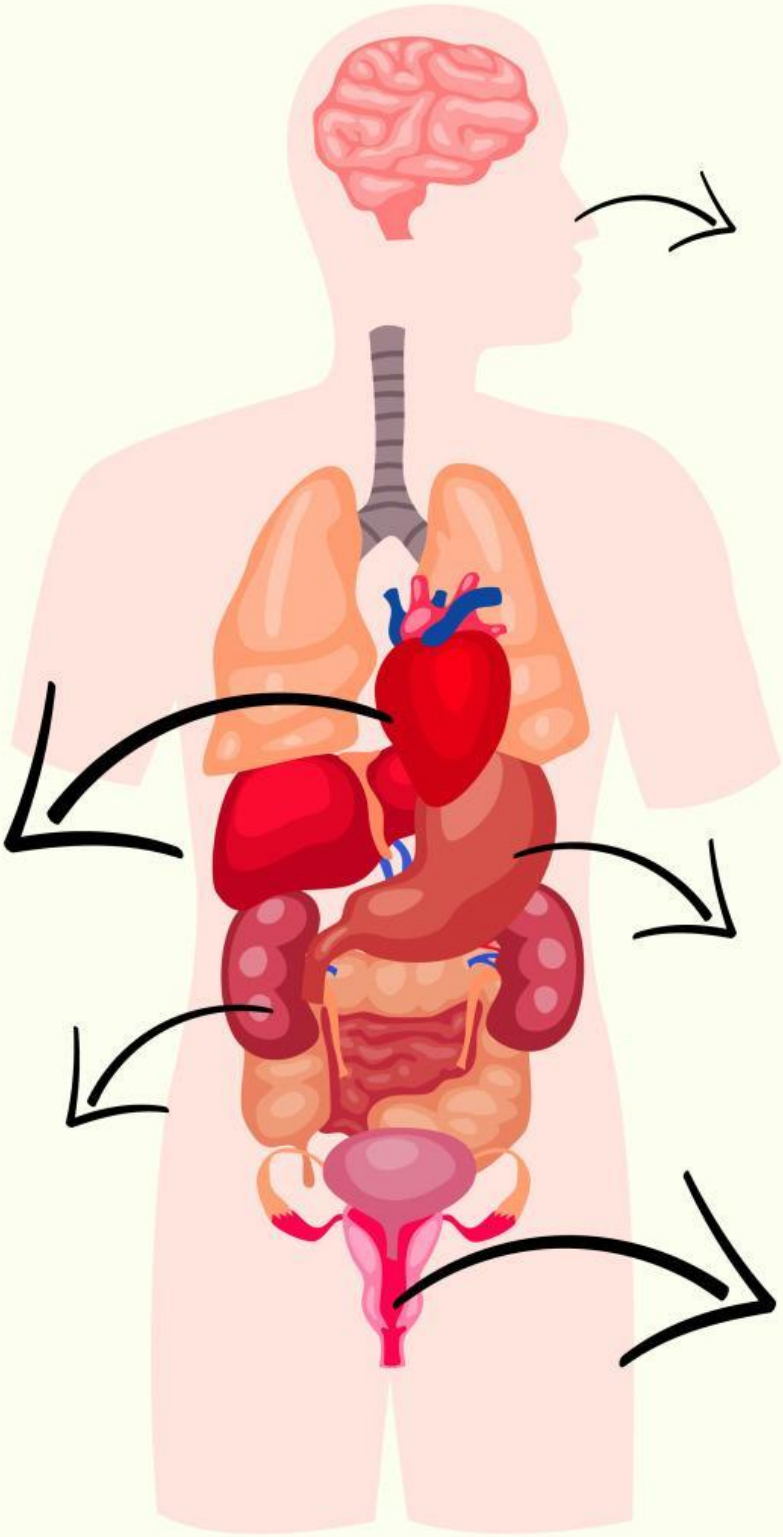

LIVEWORKSHEETS

Daftar Pustaka

Saifullah (2020) *Modul pembelajaran biologi SMA kelas XI: jaringan hewan*. Jakarta: Repositori Kemendikbud Republik Indonesia

NUR, S. JARINGAN HEWAN. KONSEP DASAR BIOLOGI, 28.

Maiyah, A. T. (2019). E-modul biologi Kelas XI: jaringan hewan.

LIVEWORKSHEETS