מטלה עם ציון לשיעור 31/10/24

שאלה 1

נתונה מערכת צירים המורחבת. יש לגרור את שם הרביע למקום הנכון. (**תזכורת**! מספור הרביעים נעשה **נגד** כיוון השעון)

רביע 1
רביע 2
רביע 3
רביע 4

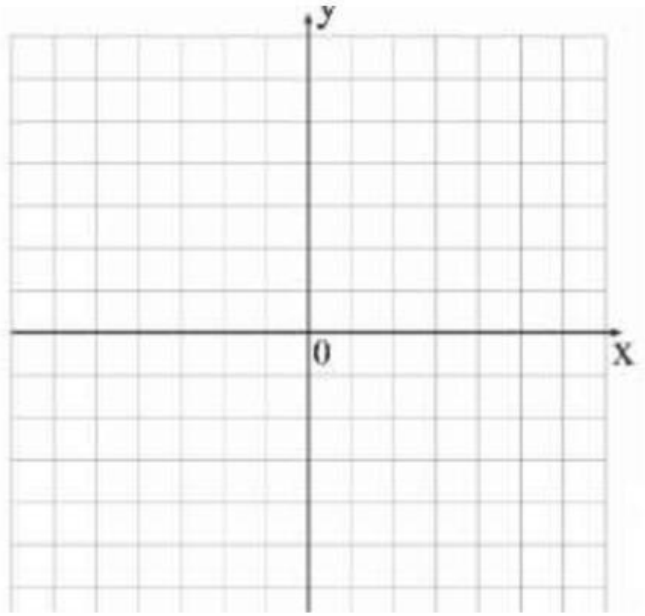

שאלה 2 שאלת רב ברירה

א. באיזה רביע ערכי הy חיוביים וערכי הx שליליים

ב. באיזה רביע ערכי הx חיוביים וערכי הy שליליים

ג. באיזה רביע ערכי הx שליליים וערכי הy שליליים

ד. באיזה רביע ערכי הx חיוביים וערכי הy חיוביים

LIVEWORKSHEETS

שאלה 3. שאלת התאמה – מתחו קו בין שיעור הנקודה לנקודה על גבי מערכת צירים.

A(3,4)
B(-3,2)
C(-4,-3)
D(0,1)
E(-1,0)
F(2,-2)

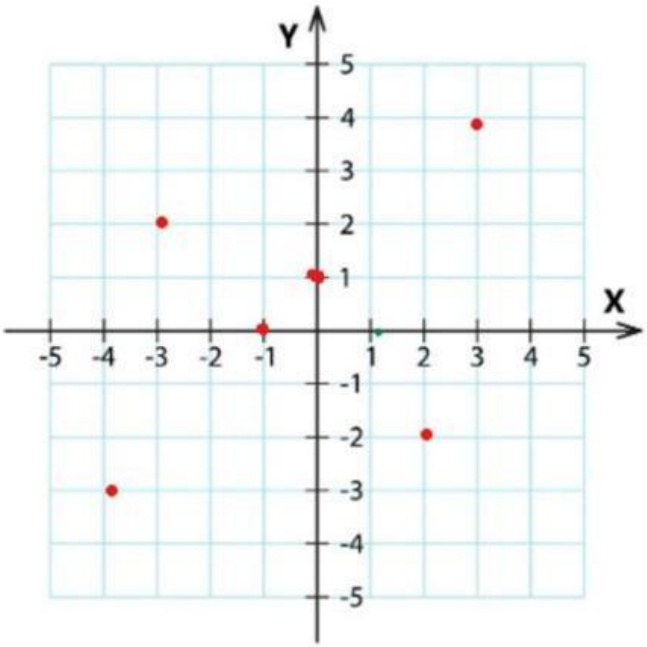

שאלה 4 – זוויות. מצא את גודל הזווית במעלות. רשום במקומות המתאימים את גודל הזווית **כמספר בלבד ללא מילים**.

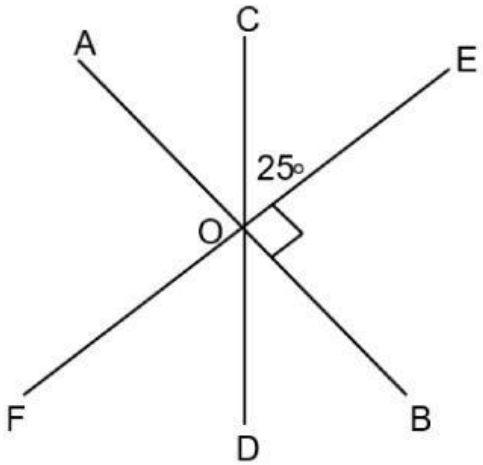

LIVEWORKSHEETS